Ciencias Sociales 3°
Actividades de repaso Nivel 1

1. Arrastra el nombre de los continentes y de los océanos ubicándolos en el planisferio.

América | Asia | África | Oceanía | Antártida | Europa

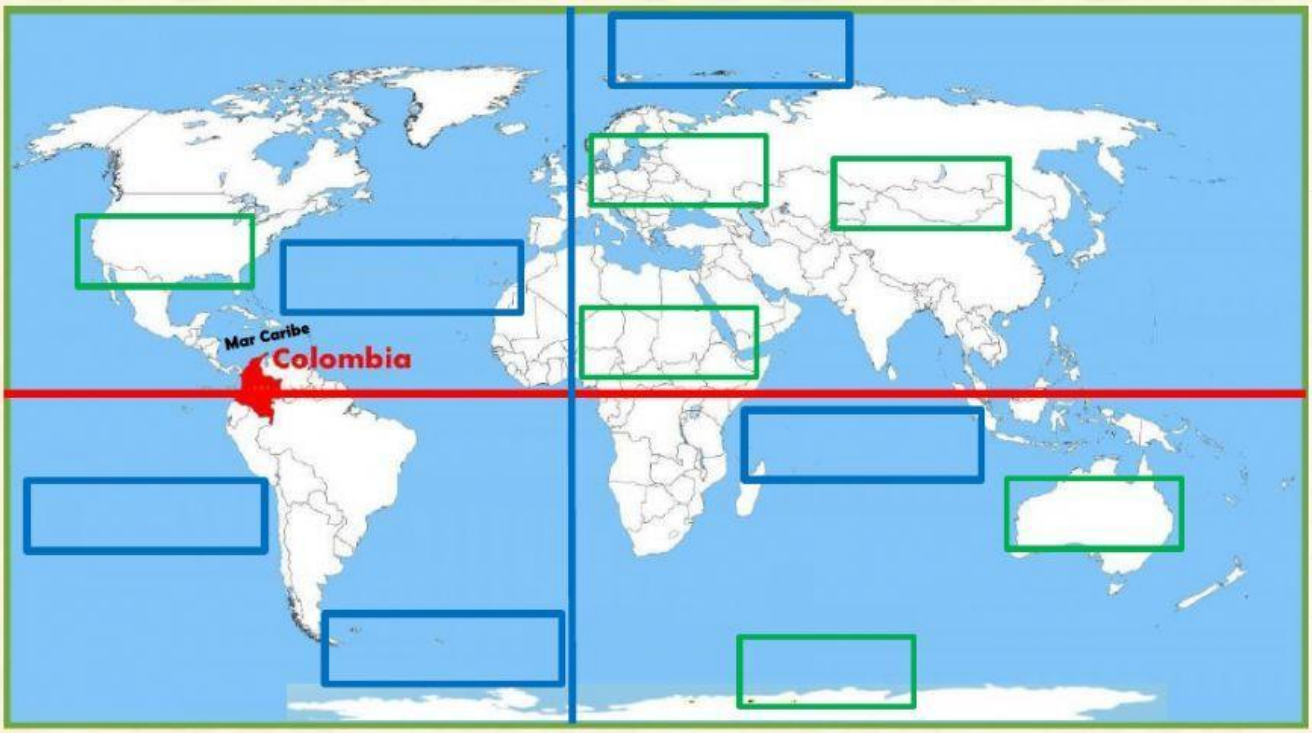

Océano Atlántico | Océano Pacífico | Océano Índico | Océano Ártico | Océano Antártico

2. Selecciona los límites de Europa

a. Norte

b. Sur

c. Este

d. Oeste

LIVEWORKSHEETS

3. Escribe (F) si la afirmación es falsa o (V) si es verdadera según corresponda.

a. Asia es el continente más grande ..... ☐

b. Toda América del Sur se encuentra en el hemisferio sur..... ☐

c. El océano Atlántico está entre América y Europa ..... ☐

d. El océano Índico es el más grande ..... ☐

e. África es el continente más pequeño ..... ☐

4. Ubica el nombre del hemisferio en el mapa que lo señala correctamente.

Hemisferio Norte | Hemisferio Sur | Hemisferio Oriental | Hemisferio Occidental

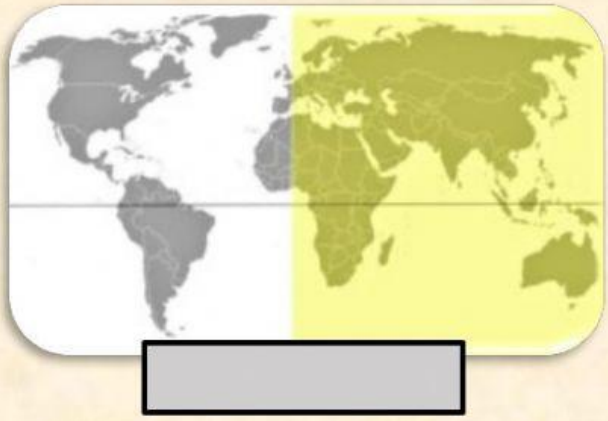

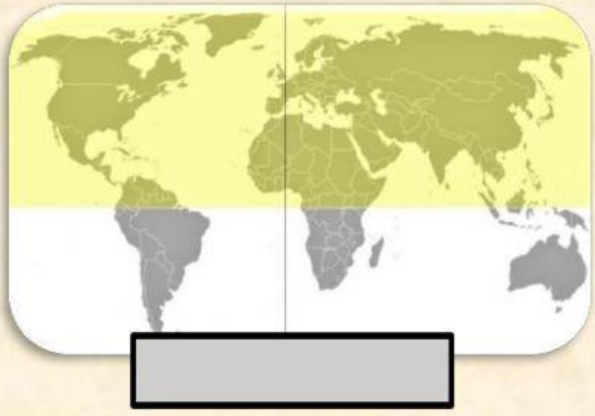

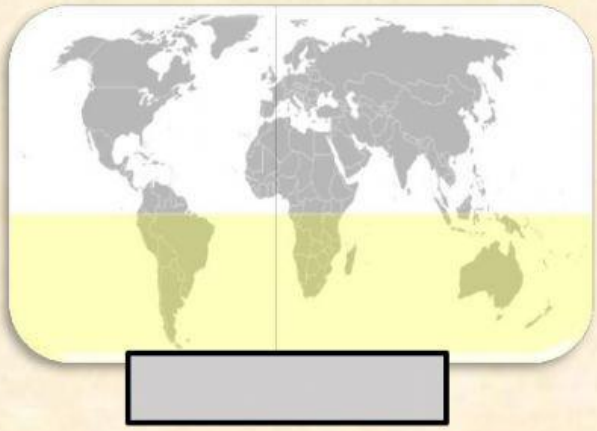

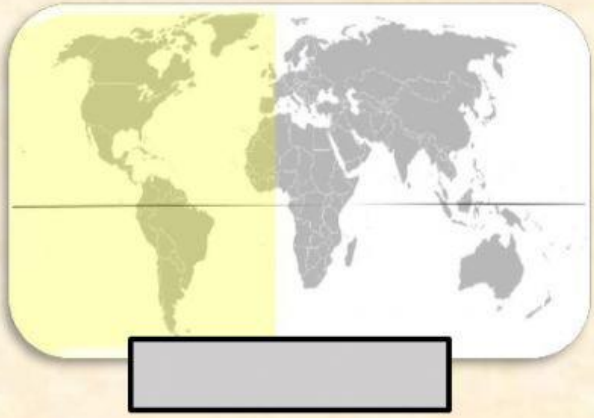

LIVEWORKSHEETS

5. Señala en cuáles hemisferios se encuentran:

a. **Europa**

- Hemisferio Norte
- Hemisferio Oriental
- Hemisferio Sur
- Hemisferio Occidental

b. **Asia**

- Hemisferio Norte
- Hemisferio Oriental
- Hemisferio Sur
- Hemisferio Occidental

c. **Colombia**

- Hemisferio Norte
- Hemisferio Oriental
- Hemisferio Sur
- Hemisferio Occidental

6. Selecciona las características de los océanos y los mares.

¿Cuáles son las características de los océanos?

- De mayor tamaño y profundidad
- Están en el borde o dentro de los continentes
- De menor tamaño y profundidad
- Ocupan la mayor parte de la superficie terrestre
- Son cinco
- Son sesenta y siete

¿Cuáles son las características de los mares?

- De mayor tamaño y profundidad
- Están en el borde o dentro de los continentes
- De menor tamaño y profundidad
- Ocupan la mayor parte de la superficie terrestre
- Son cinco
- Son sesenta y siete

LIVEWORKSHEETS

7. ¿Cuáles son las imágenes que muestran acantilados?

8. ¿Cuáles son las actividades que pueden realizar las personas en las costas, mares y océanos?

Extracción de petróleo

Abastecer el acueducto

Turismo y practicar deportes acuáticos

Comercio gracias a los puertos

LIVEWORKSHEETS

9. ¿Qué problema ambiental se evidencia en las imágenes?

Finalizamos actividades Nivel 1

LIVEWORKSHEETS