LICEO SANTA ANA SUR

Educar con sabiduría uno de los logros del saber y entender para el emprendimiento

DOCENTE: STEPHANNY ALVAREZ LUISA MARTINEZ AREA: GEOGRAFIA SEGUNDA PERIODO

NOMBRE: _____ GRADO: PRIMERO ____ AÑO: 2021

1. **Selecciona las imágenes que pertenecen a la ciudad.**

2. **Ubica los elementos que hacen parte del campo.**

ANIMALES	CULTIVOS
EDIFICIOS	CAMINOS
CENTROS COMERCIALES	NATURALEZA

3. **Selecciona según pertenezca el termino (campo / ciudad) en la oración.**
   - En la ciudad/ el campo el transporte es muy variado: hay trenes, taxis, colectivos
   - En la ciudad/ el campo la cría de animales es muy frecuente
   - En la ciudad/ el campo los edificios son altos y vive mucha gente
   - En la ciudad/ el campo las escuelas quedan muy lejos y son pequeñas

4. **Escribe los puntos cardinales donde corresponde**

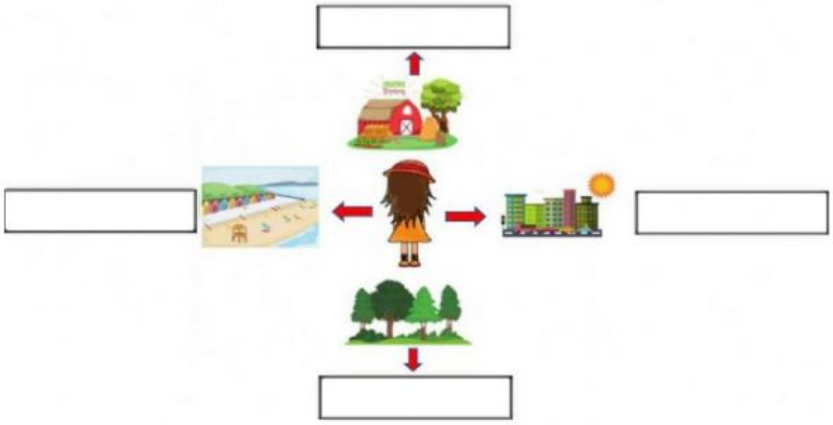

5. **Completa la información, teniendo en cuenta la gráfica del punto anterior.**
   - La playa esta al_____
   - El bosque se encuentra en el _____
   - Si quiero ir a la granja debo ir por el _____
   - Para ir a la ciudad debo ir al_____

6. **Completa y escribe la respuesta correcta**

El sol sale por él _____ y se oculta por el _____

7. **Escribe el nombre del siguiente elemento y describe su función.**

8. **Marca la imagen que corresponde a un plano**

9. **¿A qué lugar corresponde este plano?**

A una casa

A una plaza

A un salón de clases

10. **Observa el siguiente plano y marca el comedor**

11. **Indica la característica de cada medio de transporte si es (acuático , aéreo o terrestre)**

12. **Completa la siguiente información con los nombres de las señales de transito**

A: las _____son las que nos indican o informan de lugares que vemos en las vías.

B: las _____ son las que nos previenen de accidentes o daños en las vías.

C: las _____ son las que nos prohíben sobre cosas que no debemos hacer en la vía.

13. **Lee y responde**

- Para cruzar la calle debemos esperar que se encienda el peatón de color
  - El color rojo del semáforo nos indica que podemos:
  - seguir a delante
  - Parar y esperar

14. **Si tú y tú mamá necesitan pasar una calle, ¿Cuál semáforo deben tener en cuenta?**

_____

15. **Ubica cada medio de transporte según su medio de desplazamiento**



16. **Clasifica según corresponda**

Reglamentación	Prevención	Información