LICEO COMERCIAL DE QUILLOTA

ASIGNATURA CIENCIAS PARA LA CIUDADANÍA

PROF: Viviana Agurto Vilches

NOMBRE:_____

I. En la siguiente actividad, identifique en que proceso se usa la mitosis

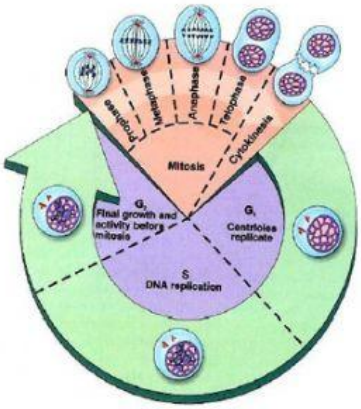

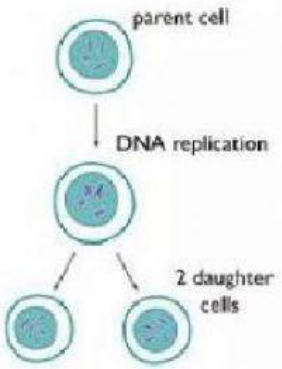

1.La mayor parte de la vida de una célula se pasa en un período de preparación llamado:

2. La replicación del ADN ocurre durante la etapa del ciclo celular llamada:

3. El núcleo se divide en dos núcleos idénticos, en la etapa de:

4. Nombre que recibe el proceso siguiente a la mitosis:

5. La mitosis comienza con:

con una dotación cromosómica de :

al final de la mitosis, se obtienen:

con cromosomas

LIVEWORKSHEETS

LICEO COMERCIAL DE QUILLOTA

ASIGNATURA CIENCIAS PARA LA CIUDADANÍA

PROF: Viviana Agurto Vilches

II. Con respecto a la mitosis, es efectivo que esta se lleva a cabo en células _____, que son 2n o _____, las células germinales primordiales; es decir las que van a dar origen a los gametos, realizan el proceso de _____ cuyo objetivo, es reducir a la mitad el número de cromosomas, pasando la célula de diploide a _____

III. en las siguientes imágenes identifique las etapas de la mitosis o cariocinesis:

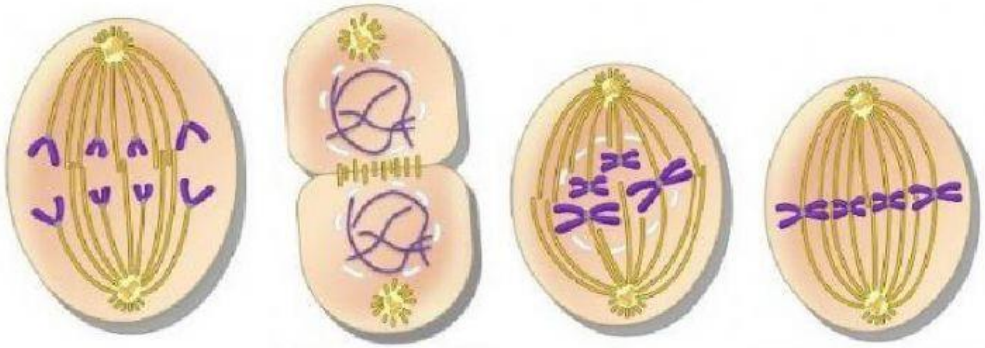

_____ _____ _____ _____

LIVEWORKSHEETS