សាលារៀនគ្រូយើង ប្រឡងត្រីមាសទី III ចំណេះដឹងទូទៅភាសាខ្មែរ ថ្នាក់ទី: ២ (.....)

ឈ្មោះ និងហត្ថលេខាអនុរក្ស : ..... លេខបន្ទប់: .....លេខតុ.....

ឈ្មោះ និងហត្ថលេខាអ្នកកែ : ..... មណ្ឌលប្រឡង :.....

ឈ្មោះ និងហត្ថលេខាអ្នកត្រួតពិនិត្យ : ..... សម័យប្រឡង :.....

នាមត្រកូល និងនាមខ្លួន :.....

វិញ្ញាសា : គណិតវិទ្យា រយៈពេល : ៦០ នាទី ពិន្ទុ : ១០

I. **ចូរកូនគូស √ ក្នុង ☐ ណាដែលជាចម្លើយត្រឹមត្រូវ៖**

1. ៥០

ក. ☐ ប្រាំ ខ. ☐ សែសិប

គ. ☐ ហាសិប ឃ. ☐ ហុកសិប

2. មួយរយប្រាំពីរ

ក. ☐ ១០២ ខ. ☐ ១០៥

គ. ☐ ១០៧ ឃ. ☐ ១០០ + ៧

3. ១០១

ក. ☐ ដប់ ខ. ☐ ដប់មួយ

គ. ☐ ដប់ និងមួយ ឃ. ☐ មួយរយមួយ

4. ចំនួន (3 7 11 15) ហៅថា

ក. ☐ ការអានលេខ ខ. ☐ ចំនួនសេស

គ. ☐ ចំនួនគូ ឃ. ☐ ខ្ទង់ដប់

5. ចូរគូស ✓ ក្នុង ☐ ចម្លើយ ត្រូវ ឬ ខុស

ក.	32 <	33	☐ ត្រូវ	☐ ខុស
ខ.	35 >	35	☐ ត្រូវ	☐ ខុស
គ.	779 =	797	☐ ត្រូវ	☐ ខុស
ឃ.	879 <	897	☐ ត្រូវ	☐ ខុស

6. ចំនួន (4 8 14 20) ហៅថា

ក. ☐ ការអានលេខ ខ. ☐ ចំនួនសេស

គ. ☐ ខ្ទង់ដប់ ឃ. ☐ ចំនួនគូ

LIVEWORKSHEETS

II. តម្លៃលេខដែលគូសពីក្រោម គឺជាតម្លៃលេខដែលស្ថិតនៅខ្ទង់

$\underline{\text{៩}}$ + ១0 + ១00 = ១១៩

ក. ☐ ខ្ទង់រយ ខ. ☐ ខ្ទង់ដប់ គ. ☐ ខ្ទង់រាយ

៧ + $\underline{\text{១0}}$ + ១00 = ១១៧

ក. ☐ ខ្ទង់រាយ ខ. ☐ ខ្ទង់ដប់ គ. ☐ ខ្ទង់រយ

III. ចូរកូនសរសេរចំនួន និងពាក្យអានចំនួន តាមលំនាំខាងក្រោម

១00	៩0		៧0		៥0			២0	១0
មួយរយ	កៅសិប		ចិតសិប		ហាសិប	សែសិប		ម្ភៃ	ដប់

IV. ចូរកូនបង្គត់ចំនួនខាងក្រោមត្រឹមខ្ទង់ដប់

ក - បង្គត់ 11 ត្រឹមខ្ទង់ដប់គឺ

ក. ☐ 9 ខ. ☐ 10 គ. ☐ 11 ឃ. ☐ 20

ខ - បង្គត់ 27 ត្រឹមខ្ទង់ដប់គឺ

ក. ☐ 20 ខ. ☐ 26 គ. ☐ 28 ឃ. ☐ 30

គ . 21 បង្គត់ទៅ 20

ឃ . 13 បង្គត់ទៅ .....

ង . 16 បង្គត់ទៅ .....

ច . 25 បង្គត់ទៅ .....

ឆ . 28 បង្គត់ទៅ .....

LIVEWORKSHEETS

V. ចូរកូនសរសេរចំនួន និងពាក្យអានចំនួនតាមរូបខាងក្រោម៖

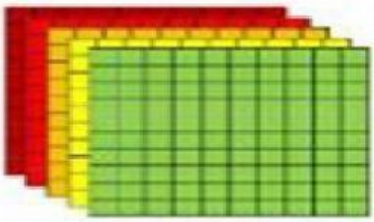	៥០០	ប្រាំរយ
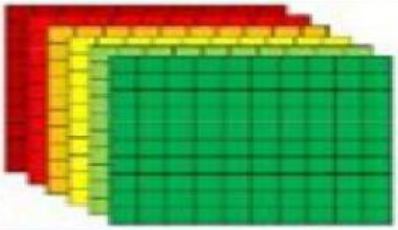	៦០០	.....
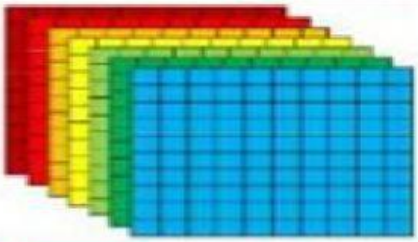	.....	ប្រាំពីរយ
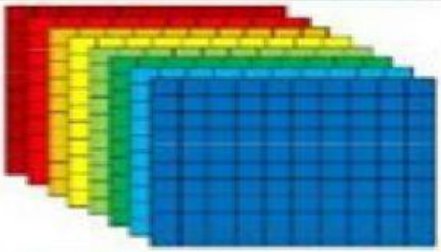	.....	.....
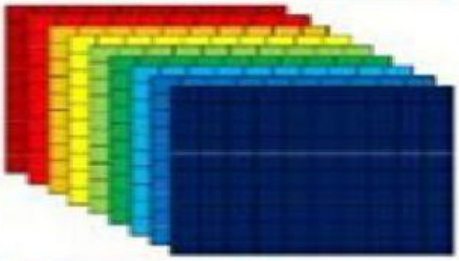	៩០០	.....
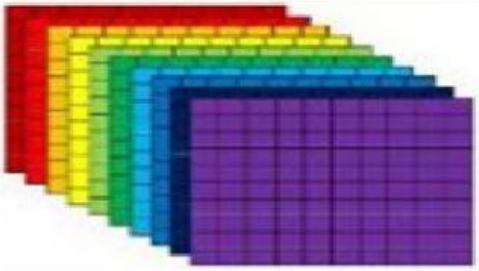	.....	.....

LIVEWORKSHEETS