SUMAS QUE DAN 10.

CADA RECTÁNGULO ESTÁ DIVIDIDO EN 10 CUADRADOS, LAS IMÁGENES NOS AYUDAN A RESOLVER LOS CÁLCULOS, FIJATE CUANTOS CUADRADOS ESTÁN TAPADOS Y CUANTAS FALTAN POR TAPAR PARA LLEGAR A 10.

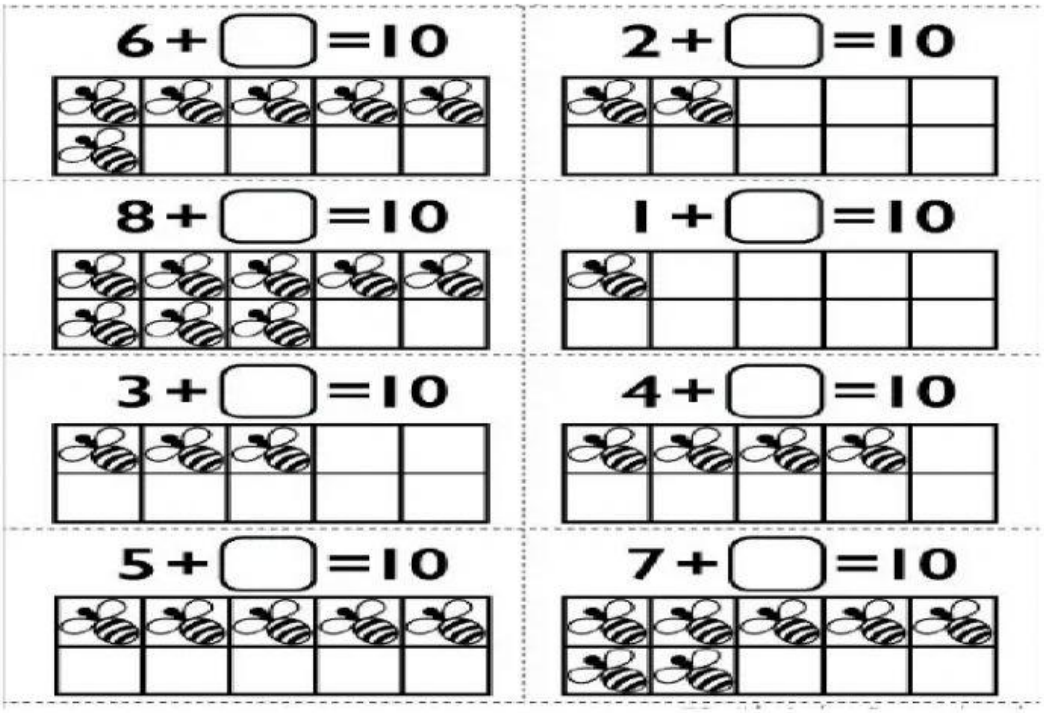

AHORA, ES LO MISMO, PERO AL REVES. LAS CUENTAS SON RESTAS. PARTIMOS DE 10 CUADRADOS, LA CANTIDAD QUE NO ESTÁ CUBIERTA NOS AYUDA A RESOLVER LA CUENTA. DEBERÁS CONTAR CUANTOS CUADRADOS QUEDAN CUBIERTOS. ¡PERO CUIDADO! HAY CUENTAS QUE NOS DAN EL RESULTADO Y TENEMOS QUE ENCONTRAR EL NÚMERO QUE FALTA.

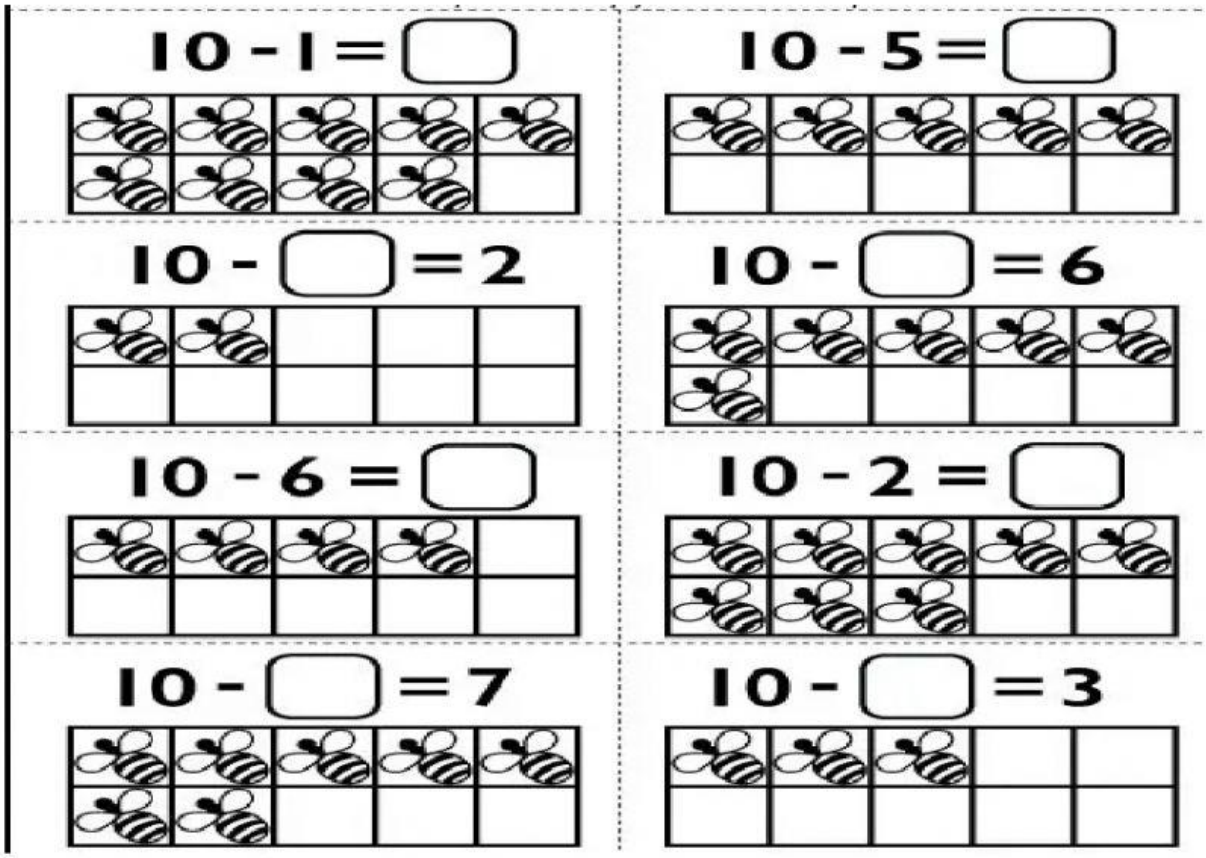

LIVEWORKSHEETS

USA LAS RECTAS NUMÉRICAS PARA RESPONDER LAS SIGUIENTES PREGUNTAS.

10-3= ☐

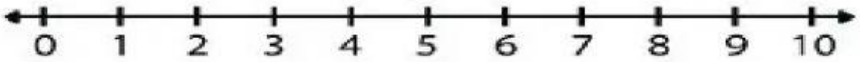

10-5= ☐

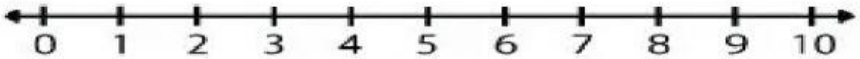

10-1= ☐

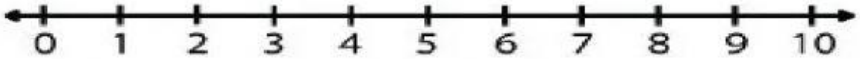

4+ ☐ =10

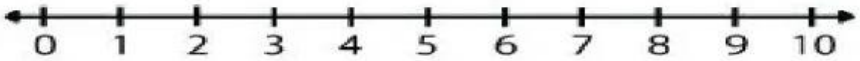

8+ ☐ =10

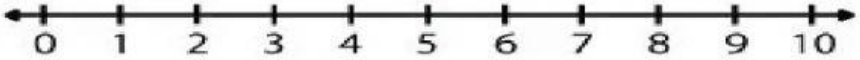

10-2= ☐

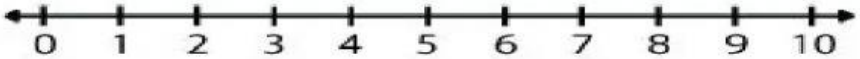

10-4= ☐

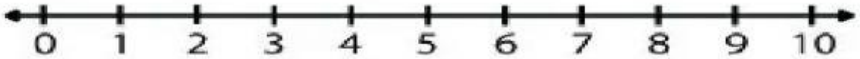

9+ ☐ =10

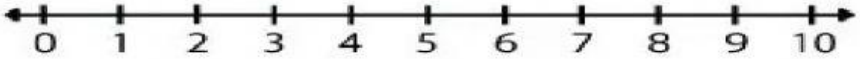

5+ ☐ =10

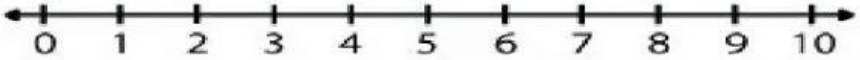

7+ ☐ =10

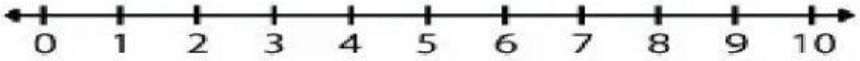

EL SIGUIENTE LINK ES UN JUEGO DE SUMAS QUE DAN 10. DESPUÉS ME CUENTAN COMO LES FUE.

https://wordwall.net/es/resource/3266241/sumas-que-dan-10

¿SUMA O RESTA?

3 + 3 = 6

5 ☐ 2 = 7

3 ☐ 4 = 7

8 ☐ 4 = 4

5 ☐ 4 = 1

LIVEWORKSHEETS