1. Completa la tabla.

Polígono de la base			
N.º de caras laterales			
N.º de vértices			

2. Completa la tabla.

			
N.º de lados de la base			
N.º de caras laterales			
N.º de vértices			
N.º de aristas			

3. Observa el dibujo y rodea todos los cuerpos redondos que encuentres.

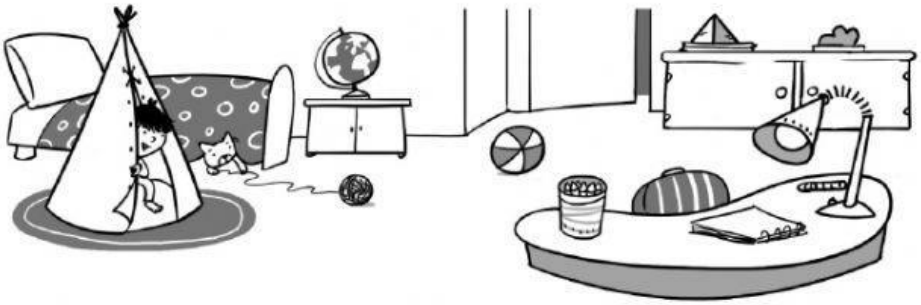

4. Fíjate en la ilustración. Después, indica si estos sucesos son seguros, posibles o imposibles.

a) Sacar una bola con el número 3.

b) Sacar una bola que no tenga número.

c) Sacar dos bolas iguales.

d) Sacar 11 bolas y que al menos dos sean iguales.

LIVEWORKSHEETS

Una casa en un árbol

5. Sara y Rafa quieren hacer una casa en un árbol. Su abuelo les ha dicho que les va a ayudar, pero antes tienen que decidir cómo quieren que sea la casa.



a) Han pensado que la casa puede tener cinco paredes y que cada una de las paredes sea un rectángulo. ¿Qué forma tendrá el suelo?

Rectángulo	Triángulo	Pentágono	Cuadrado

b) Para que no entre el frío, van a poner un techo con la misma forma que el suelo. ¿Qué forma tendrá la casa?

c) Para decorarla quieren poner sobre la casa un tejado con base circular y que acabe en punta. ¿En qué figura están pensando para el tejado?

d) Señala el desarrollo de las figuras que componen la casa que quieren construir Rafa y Sara.

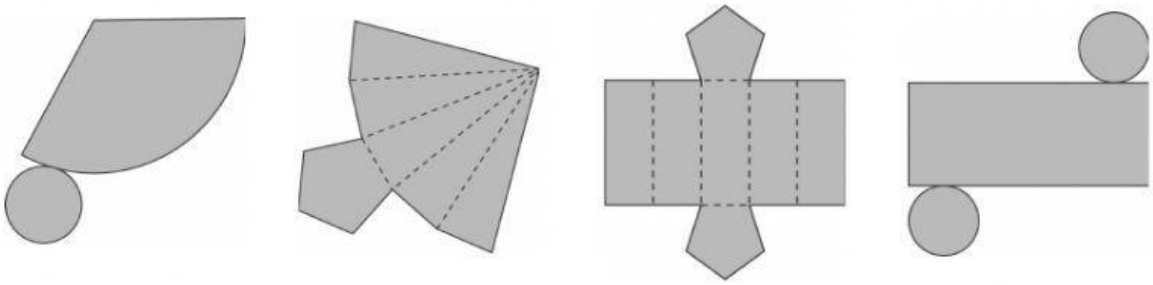

LIVEWORKSHEETS