335. Stačiakampis gretasienis turi:

A 8 viršūnes, 8 briaunas, 8 sienas
B 4 viršūnes, 12 briaunų, 8 sienas
C 6 viršūnes, 12 briaunų, 8 sienas
D 8 viršūnes, 12 briaunų, 6 sienas
E 8 viršūnes, 6 briaunas, 12 sienų

336. a) Stačiakampio gretasienio visi matmenys yra skirtingi. Kuri lygybė yra teisinga?

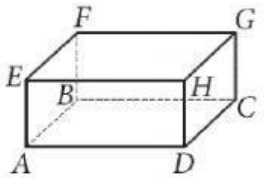

A $AB = CG$ B $AB = AD$
C $AB = HG$ D $AB = BF$
E $AB = FG$

b) Sienai $ABFE$ priešinga siena yra:

A $ABCD$ B $DCGH$ C $BCGF$ D $EHGF$ E $ADHE$

337. Kuris teiginys yra *neteisingas*?

A Kubo visos sienos yra kvadratai
B Kubo visos sienos yra lygios
C Kubas turi lygiai 10 briaunų
D Kubas turi 6 sienas
E Kubo visos briaunos yra lygios

338. Kubo briaunos ilgis yra a cm. Jo visų briaunų ilgių suma lygi:

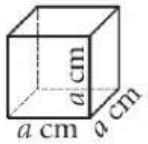

A $3a$ cm B $4a$ cm C $6a$ cm D $8a$ cm
E $12a$ cm

339. Jei iš pavaizduotos išklotinės sulankstytume kubą, tai siena, priešinga nuspalvintai sienai, būtų:

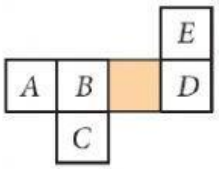

A A B B C C D D E E

340. Kubo, kurio briaunos ilgis lygus 3 cm, viso paviršiaus plotas lygus:

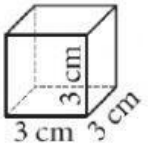

A 3^2 cm^2 B $(3 \cdot 3 \cdot 3)$ cm^2 C $(2 \cdot 3^2)$ cm^2
D $(6 \cdot 3)$ cm^2 E $(6 \cdot 3^2)$ cm^2

341. Pavaizduoto stačiakampio gretasienio viso paviršiaus plotas lygus:

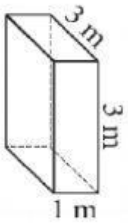

A 9 m^2 B 14 m^2 C 15 m^2 D 27 m^2
E 30 m^2

LIVEWORKSHEETS