FICHA INTERACTIVA: noveno

Pr
ob
ab
ili

1. **Complete el siguiente diagrama de árbol.**

Gabriela prepara 3 pasteles sabor a naranja, chocolate y vainilla, los puede rellenar con duraznos o con nueces, y para decorar dispone cerezas y grageas. ¿De cuántas maneras se puede preparar una torta?

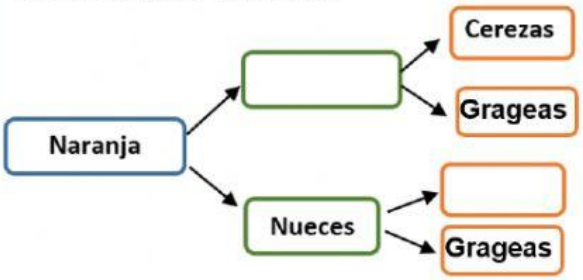

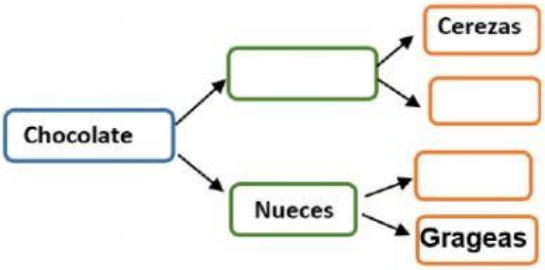

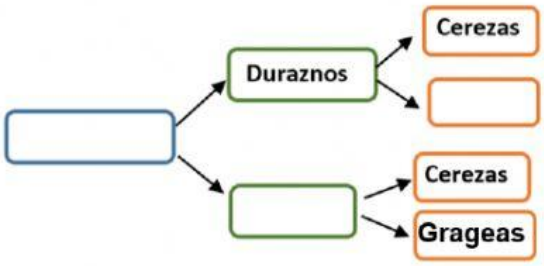

María José está encargada de diseñar los boletos para una rifa, para la cifra de las centenas tiene los dígitos 1 y 2; para las decenas tiene 3, 4 y 5; y para las unidades el 6 y 7. ¿Cuántos boletos tendrá?

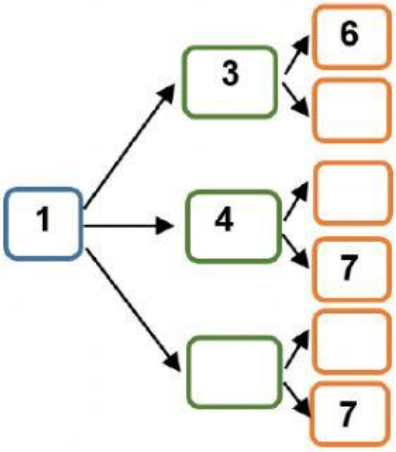

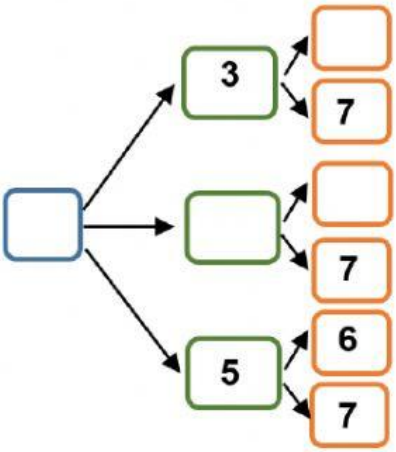

LIVEWORKSHEETS

2. **Seleccione los datos para completar la siguiente tabla de doble entrada.**
   Lanzar una moneda y elegir una letra del nombre "Juan"

	Sello (S)	Cara (C)
J		
U		
A		
N		

3. **Escoja la probabilidad correcta:**
   a) **¿Cuál es la probabilidad de elegir una torta que esté cubierta por cerezas?**

$$P = \frac{1}{4} \qquad P = \frac{6}{12} \qquad P = \frac{6}{4}$$

   b) **¿Cuál es la probabilidad de tener un boleto cuyo dígito sea el 6?**

$$P = \frac{6}{12} \qquad P = \frac{6}{2} \qquad P = \frac{6}{8}$$

   c) **¿Cuál es la probabilidad de que al lanzar una moneda salga cruz y se obtenga las vocales a, u?**

$$P = \frac{1}{8} \qquad P = \frac{2}{8} \qquad P = \frac{4}{8}$$

LIVEWORKSHEETS