ATIVIDADES

1) DE ACORDO COM OS DESENHOS, COMPLETE AS HISTÓRIAS MATEMÁTICAS:

NO JARDIM DE MARIA TINHA:	CHEGARAM MAIS:	NO TOTAL, FICARAM ..... BORBOLETAS. ..... + ...
ANA TINHA: 	ELA GANHOU DO VOVÔ: 	ANA TEM ..... GALINHAS AGORA. ..... + ...
NA SAVANA HAVIA: 	CHEGARAM MAIS:	AGORA TEM ..... ZEBRAS NA SAVANA. ..... + ...
HAVIA NO LAGO:	CHEGARAM MAIS:	NO LAGO FICARAM ..... PEIXES. ..... + ...

LIVEWORKSHEETS