Evaluación Final
Lenguaje Musical III Año
2020-2021

1) Construye las siguientes escalas y señala los semitonos:

a) Si b Mayor

a) Do m (variante melódica)



2) Construye los siguientes intervalos.

3 M (a) **4ta. J (d)** **5J (a)** **6 M (d)**

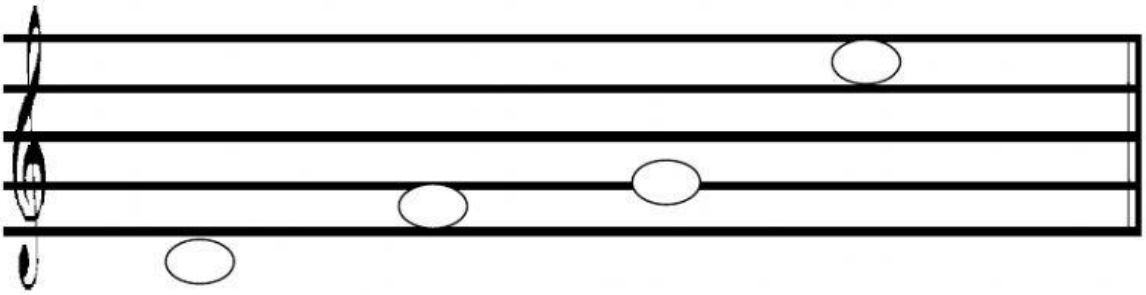

LIVEWORKSHEETS

3) Identifica las siguientes tríadas y sus inversiones. (4ptos).

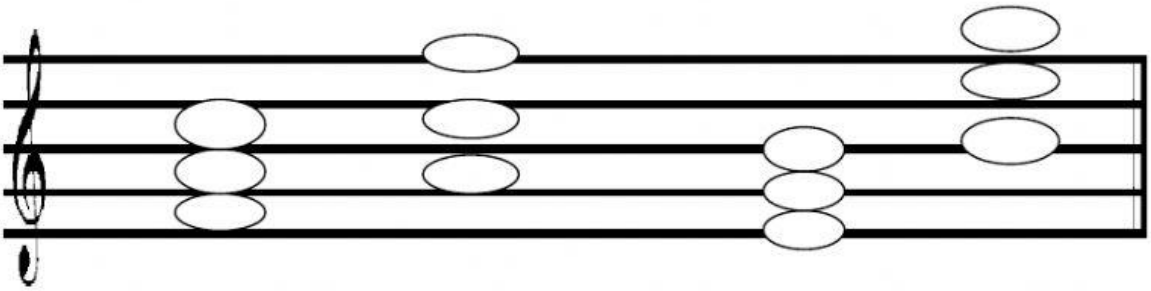

4) Completa:

a) Allegretto es un aire _____.

b) P, F, MF, PP, FF son indicaciones de _____.

c)) El VI grado de una escala se llama _____.

d) Dolce, Apasionado son indicaciones de _____.

5) Reconocimiento de intervalos

a) _____ b) _____ c) _____

6) Reconocimiento de escala:

a) _____ b) _____ c) _____

LIVEWORKSHEETS