Escola Municipal Herádio Fonseca Barroso

Data: __/__/__ Turma: 2ºano

Professora: Cineide

Estudante: _____

Atividade de Matemática

1º. TONI TEM UMA COLEÇÃO DE BOLINHAS DE GUDE.

RESPONDA AS QUESTÕES:

A) QUANTAS SÃO AS BOLINHAS DE GUDE PRETAS?

B) QUANTAS SÃO AS BOLINHAS DE GUDE AZUIS?

C) O QUE HÁ MAIS: BOLINHAS DE GUDE PRETAS OU AZUIS?

2º. OBSERVE A SEQUÊNCIA DE ANIMAIS E RESPONDA: QUAL O PRÓXIMO ANIMAL DA SEQUENCIA?

A) ( )

B) ( )

C) ( )

D) ( )

LIVEWORKSHEETS

3º. OBSERVE O GRÁFICO SOBRE A BRINCADEIRA MAIS PREFERIDA PELAS CRIANÇAS E DEPOIS MARQUE QUAL É O BRINQUEDO QUE AS CRIANÇAS MAIS GOSTAM DE BRINCAR.

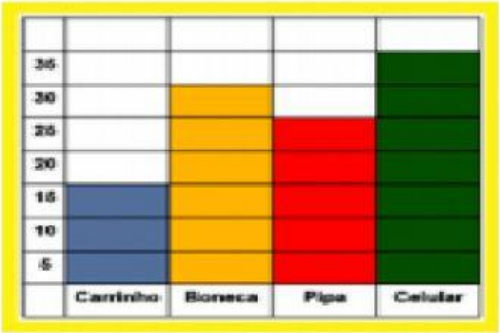

A) ( ) BONECA
B) ( ) CARRINHO
C) ( ) CELULAR
D) ( ) NENHUMA CHANCE

4º. CADA QUADRADINHO DO GRÁFICO ABAIXO VALE 10 VOTOS.ENTÃO RESPONDA:QUANTOS VOTOS TEVE A UVA?

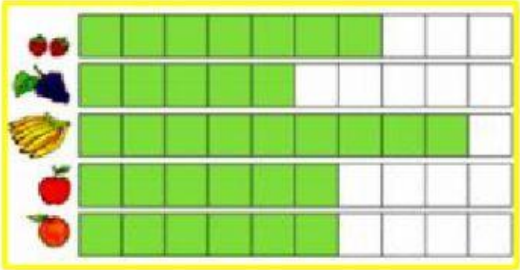

A) ( ) 50 VOTOS
B) ( ) 60 VOTOS
C) ( ) 30 VOTOS
D) ( ) 40 VOTOS

5º. NA IMAGEM ABAIXO, PODEMOS OBSERVAR ALGUMAS MAÇÃS DENTRO DO CESTO E ALGUMAS ESTÃO FORA DO CESTO.

QUANTAS MAÇÃS ESTÃO **FORA DO CESTO** ?

A) ( ) 2 MAÇÃS
B) ( ) 3 MAÇÃS
C) ( ) 7 MAÇÃS
D) ( ) 15 MAÇÃS

LIVEWORKSHEETS

6º. SANDRA E BETINHO ADORAM BRINCAR.ELES ESPALHAM TODOS OS SEUS BRINQUEDOS NO QUARTO.OBSERVE A IMAGEM E RESPONDA:

QUAL BRINQUEDO ESTÁ **ATRÁS** DE BETINHO?

A) ( ) BOLA
B) ( ) CASA
C) ( ) COELHO
D) ( ) URSO

7º. RESOLVA DO SEU JEITO:

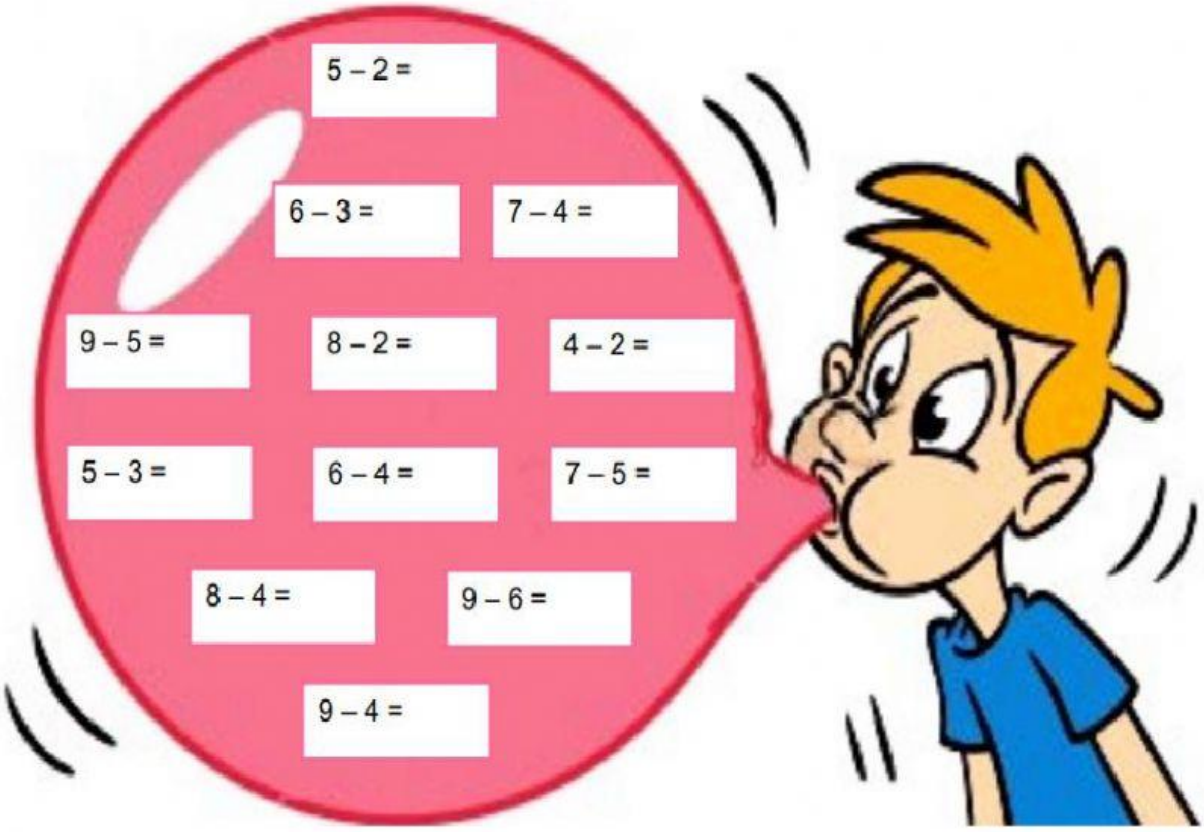

LIVEWORKSHEETS