اخْتِبارُ الْوَحْدَةِ

أَسْئِلَةٌ مَوْضوعِيَّةٌ

أَخْتارُ الْإِجابَةَ الصَّحيحَةَ في كُلٍّ مِمّا يَأْتي:

1 سُمْكُ كِتابٍ 23 mm ما سُمْكُهُ بِالسَّنْتيمِتْراتِ؟

أ) 2.03 ب) 2.003

جـ) 2.3 د) 0.23

2 عَرْضُ الشّارِعِ يُساوي:

أ) 16 km ب) 16 m

جـ) 16 cm د) 160 m

3 ارْتِفاعُ جَبَلٍ 1200 m ما ارْتِفاعُهُ بِالْكيلومِتْراتِ؟

أ) 0.2 km ب) 1.2 km

جـ) 12 km د) 120 km

4 كَمِّيَّةٌ مِنَ الْأَرُزِّ كُتْلَتُها 2 kg, 450 g ما كُتْلَتُها بِالْكيلوغِراماتِ؟

أ) 2450 kg ب) 2.5 kg

جـ) 0245 kg د) 2.45 kg

5 ****إثرائي

سَعَةُ وِعاءِ الْحِساءِ لِلشَّخْصِ الْواحِدِ 300 mL، لَدى سَلْمى 6 L, 600 mL مِنَ الْحِساءِ. كَمْ وِعاءً تَسْتَطيعُ أَنْ تَمْلَأَ؟

أ) 50 ب) 200

جـ) 25 د) 22

6 الزَّمَنُ الْمُنْقَضي مِنَ السّاعة 7:25pm إِلى السّاعَةِ 9:05pm يُساوي:

أ) ساعَةٌ وَ 5 دَقائِقَ.

ب) 9 ساعاتٍ وَ 55 دَقيقَةً.

جـ) ساعَةٌ وَ 40 دَقيقَةً.

د) ساعَتانِ وَ 5 دَقائِقَ.

****إثرائي

7 11 min, 35 sec =

أ) 1135 sec ب) 695 sec

جـ) 598 sec د) 229 sec

8 625 sec =

أ) 11 min, 25 sec ب) 10 min, 25 sec

جـ) 12 min, 25 sec د) 100 min, 25 sec

أَمْلَأُ الْفَراغَ في ما يَأْتي:

9 20 cm = ... m

10 120 min = ... h

11 280 mL = ... L

12 75 g = ... kg

13 5km, 100m = ... m

14 4 ton, 50 kg = ... kg

15 3 L, 45 mL = ... L

LIVEWORKSHEETS

أَسْئِلَةٌ ذاتُ إِجابَةٍ قَصيرَةٍ:

**** إثرائي

16 أَمْضى سَيْفٌ ساعَتَيْنِ وَنِصْفًا في الْعَمَلِ عَلى الْكُمْبيوتَرِ، إِذا بَدَأَ السّاعَةَ 7:30 p.m.، فَفي أَيِّ ساعَةٍ أَنْهى عَمَلَهُ؟

17 شَرِبَ حَمْزَةُ 200 mL مِنَ الْعَصيرِ، وَ 400 mL مِنَ الْحَليبِ، وَ 1.4 L مِنَ الْماءِ، كَمْ لِتْرًا مِنَ السَّوائِلِ شَرِبَ؟

**** إثرائي

18 عُمْرُ هَديلَ 126 شَهْرًا. كَمْ عُمْرُها بِالسَّنَواتِ؟

19 ما مُحيطُ الشَّكْلِ الْمُجاوِرِ وَمِساحَتُهُ؟

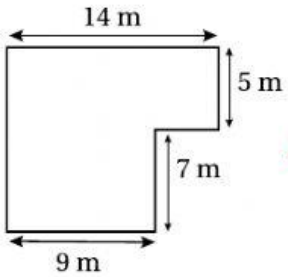

محيط m

مساحة m^2

20 ما مُحيطُ الشَّكْلِ الْآتي؟

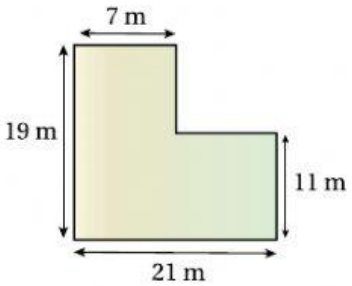

21 ما مَجْموعُ سَعَتَيِ الدَّلْوَيْنِ بِاللِّتْراتِ وَالْمِلّيلِتْراتِ؟

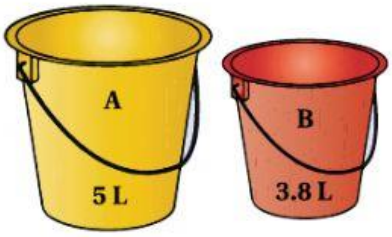

تَدْريبٌ عَلى الْاِخْتِباراتِ الدَّوْلِيَّةِ:

**** إثرائي

22 تَحْتاجُ كَعْكَةُ سَلْوى إِلى 40 دَقيقَةً لِتَنْضُجَ، وَتَحْتاجُ كَعْكَةُ سامِرٍ إِلى 20 دَقيقَةً. إِذا وَضَعَتْ سَلْوى كَعْكَتَها في الْفُرْنِ في السّاعَةِ 5:10 p.m.، فَمَتى يَجِبُ أَنْ يَضَعَ سامِرٌ كَعْكَتَهُ كَيْ تَنْضُجَ في الْوَقْتِ نَفْسِهِ؟

:

**** إثرائي

23 مِساحَةُ الشَّكْلِ عَلى الْيَسارِ هِيَ مِثْلا مِساحَةِ الْمُسْتَطيلِ. ما طولُ الضِّلْعِ الْمَجْهولِ x؟

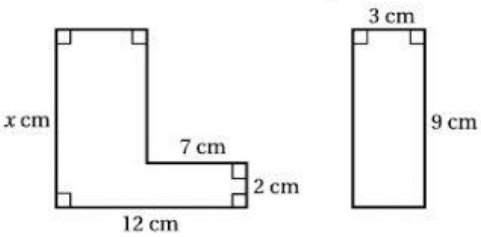

LIVEWORKSHEETS