COLEGIO
JOSUÉ MIRLO

EXAMEN TERCER TRIMESTRE

NOMBRE_____

PROFESORA: ALINE LIZBETH ESPEJEL BUENDIA **SEGUNDO GRADO GRUPO "B"**

MATEMÁTICAS

1.- Responde las siguientes preguntas.

¿Cuánto le falta a 25 para 100? _____

¿Cuánto es 1000 menos 400? _____

¿Cuánto le falta a 800 para 1000? _____

¿Cuánto es 100 menos 50? _____

2.- En la papelería venden lápices sueltos, en paquetes de 10 y en cajas de 100 lápices.

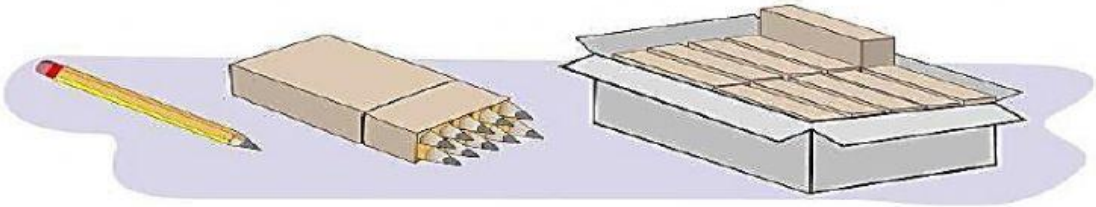

¿Cuántas cajas, paquetes y lápices se necesitan para surtir los pedidos? Completa la tabla.

"PAPELERIA"
Pedido 1
146
lápices

"PAPELERIA"
Pedido 2
332
lápices

Pedido	cajas	paquetes	lápices
1			
2			
Total			

3.- Pablo tiene las siguientes tarjetas:

Tarjetas			¿ Qué número se formó con las tarjetas?
500	30	6	
100	50	2	
300	10	7	

LIVEWORKSHEETS

COLEGIO
JOSUÉ MIRLO

4.- Completa la tabla

Figura	¿Cuántas tiene?		Figura	¿Cuántas tiene?	
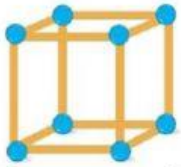	Caras			Caras	
	Vértices			Vértices	
	Aristas			Aristas	
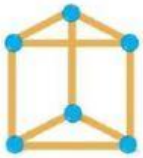	Caras		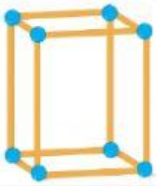	Caras	
	Vértices			Vértices	
	Aristas			Aristas	

5.- Selecciona la figura que **no** tiene caras.

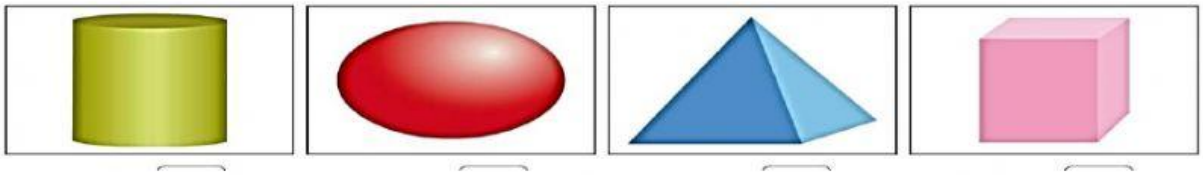

6.- Selecciona las figuras que **tiene** vértices.

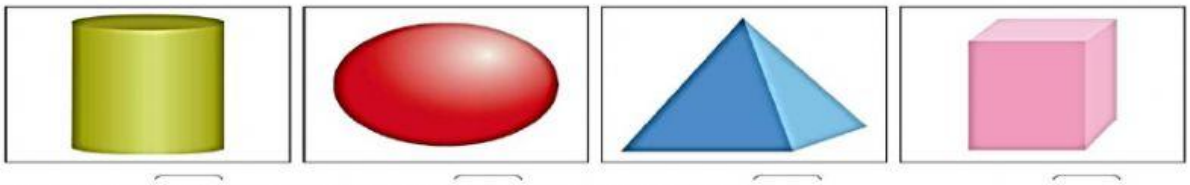

7.- Selecciona la figura que **tiene** aristas, pero **no** tiene vértices.

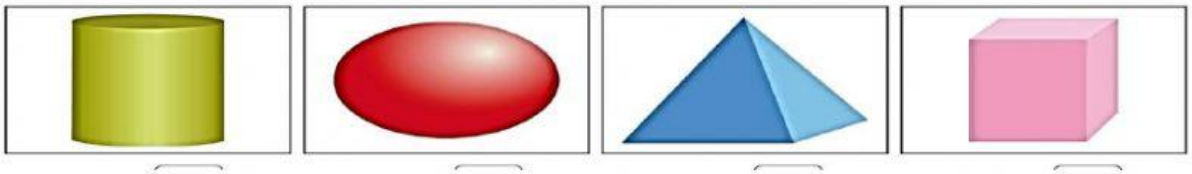

8.- Encierra las operaciones que te den como resultado 48

35+13 **16-34** **58-10** **21+27**

9.- Lee, observa las imágenes y responde.
Laura, Manuel y Gaby, midieron la distancia de un árbol a otro.



LIVEWORKSHEETS

COLEGIO
JOSUÉ MIRLO

		¿Cuántos pasos dio?
Laura		
Manuel		
Gaby		

¿Quién dio más pasos? _____

¿Quién dio menos pasos? _____

10.- Escribe las operaciones que puedes hacer para saber cuántos hay.

	___+___+___ = ___		___+___ = ___
	_____ x _____ = _____		_____ x _____ = _____
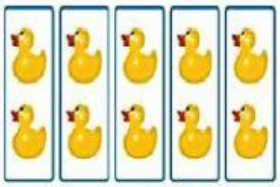	___+___+___+___+___ = ___	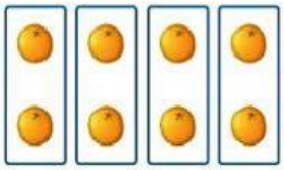	___+___+___+___ = ___
	_____ x _____ = _____		_____ x _____ = _____

LIVEWORKSHEETS