Colegio Mayor de Gales

"Una Educación de Calidad para las Nuevas Generaciones"

Geometría 1- Evaluación segundo bimestre

1. **Responde si es falso (F) o verdadero (V)**

- El plano cartesiano está compuesto por un tablero cuadrado y se encuentra dividido por unas cuadriculas o unos pines que las representan, estas nos sirven para la clasificación y reproducción de figuras a partir de modelo obtenido. **(_____)**
- En el Geoplano se pueden reproducir figuras manteniendo las proporciones y que ayuda a comprender el estudio de la geometría **(_____)**
- El plano cartesiano está compuesto por un eje horizontal y vertical donde podemos ubicar las coordenadas. **(_____)**
- Los poliedros son cuerpos geométricos que tienen varias caras y tienen volumen **(_____)**.

2. **Une con una línea el poliedro con el nombre correcto**

Cilindro



Pirámide

Cubo

LIVEWORKSHEETS

Colegio Mayor de Gales

"Una Educación de Calidad para las Nuevas Generaciones"

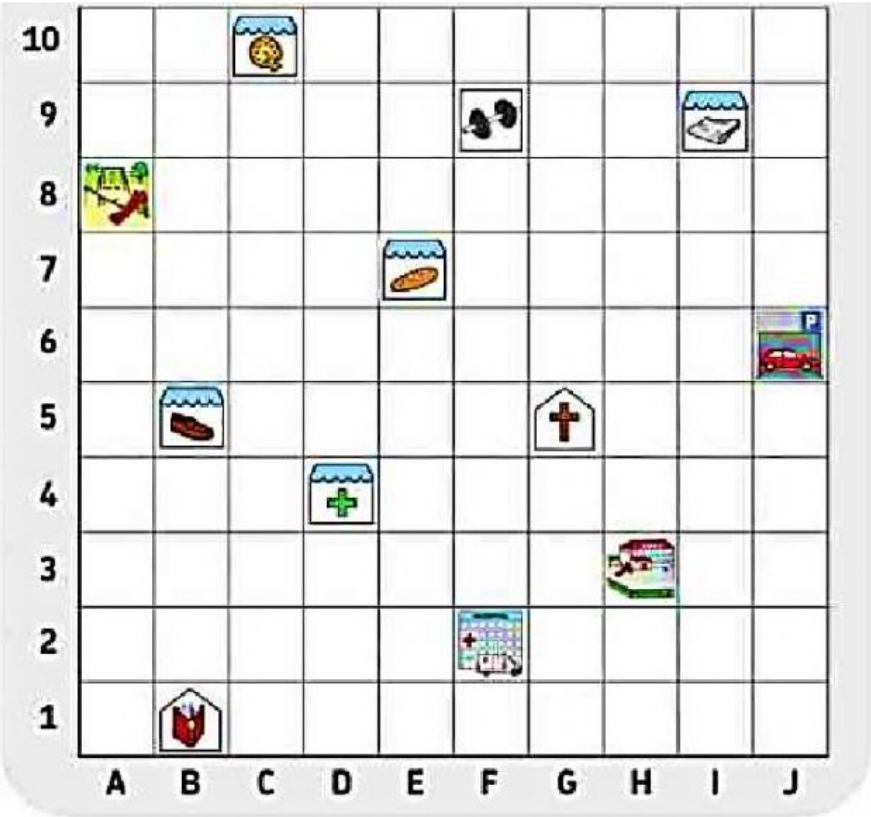

Indica las coordenadas de cada uno de los lugares:

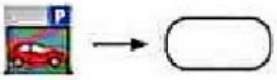 → ( )

→ ( )

→ ( )

→ ( )

→ ( )

→ ( )

→ ( )

→ ( )

→ ( )

→ ( )

→ ( )

→ ( )

LIVEWORKSHEETS