Escola Municipal Professora Belisarina Galdino de Oliveira
Professora: Ana Paula
Disciplina: Matemática série:
Aluno(a):

1. Observe a reta numérica a seguir.

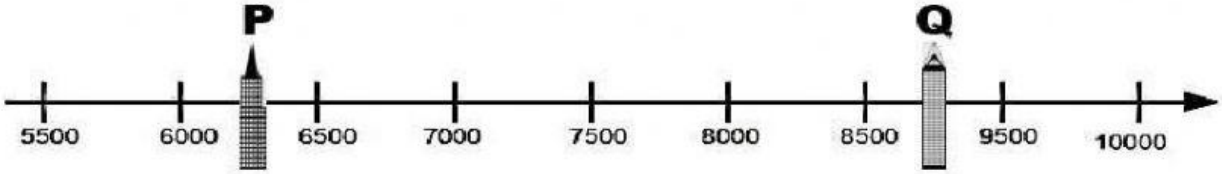

Essa reta foi dividida em intervalos iguais com medidas em quilômetros.
A distância entre P e Q é igual a:
a) 1 500 km.
b) 2 000 km.
c) 2 500 km.
d) 3 000 km.

2. Observe os algarismos a seguir.

1, 5, 4, 0 e 9.

Usando 4 destes algarismos para formar números, o maior número menor que 2 000 é,

3. Observe na figura a seguir, o caminho feito por Augusto partindo do ponto A e chegando ao ponto B.

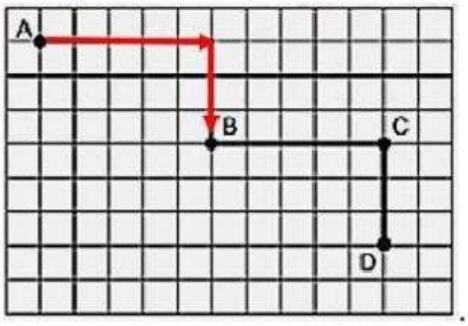

Uma descrição para esse caminho é
a) Augusto saiu de A avançou 6, girou para a esquerda e avançou 4 para B.
b) Augusto saiu de A avançou 5, girou para a direita e avançou 3 para B.
c) Augusto saiu de A avançou 5, girou para a esquerda e avançou 3 para B.
d) Augusto saiu de A avançou 4, girou para a direita e avançou 2 para B.

LIVEWORKSHEETS

4. Observe as tirinhas a seguir.

Disponível em: <https://tinyurl.com/ycahouu5>. Acesso em 27 de junho de 2020.

Se o preço de cada sorvete era R$ 5,00, o valor total que Magali pagou conforme o pedido foi

5. Os monstrinhos estão loucos pois perderam os resultados das subtrações. Resolva as operações e ajude-os a encontrar os resultados novamente.

512 | 477 | 1.080



335 | 1.195 | 1.101

LIVEWORKSHEETS

6. Observe o molde a seguir.

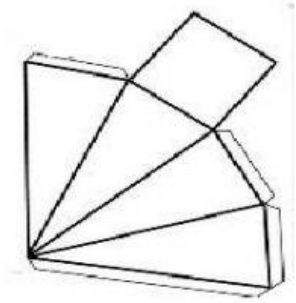

Disponível em: <https://tinyurl.com/y7bwxxwe>. Acesso em 27 de junho de 2020.

Este molde corresponde à planificação de

7. Complete a tabela:

DOBRO	TRIPLO	METADE
26 -	11-	100-
42 -	50-	80-
55 -	32-	60-
133-	250-	40-
81 -	120-	300-
35 -	40-	500-

8. Três escritores fizeram um livreto. O primeiro escreveu 25 páginas; o segundo 8 páginas a menos que o primeiro e o terceiro 12 páginas a mais que o segundo.
O número total de páginas deste livreto é

LIVEWORKSHEETS

9. Observe os sólidos abaixo e coloque os nomes de cada um deles:

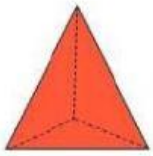

CUBO

ESFERA

PIRÂMIDE

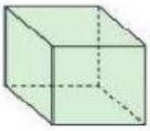

CILINDRO

CONE

10. Observe a representação a seguir.



Sabendo que cada lado tem o mesmo tamanho e que todos juntos valem 360, então o valor de cada lado é

a) 30.
b) 36.
c) 48.
d) 60.

LIVEWORKSHEETS