Transferencia Semana 19: **Resuelve las actividades propuestas.**

Responde las siguientes preguntas teniendo en cuentas tus ideas y los videos vistos en clase.

1. **¿Qué es un interruptor de electricidad?**

   _____

   _____

2. **¿Por qué el interruptor permite prender o apagar el bombillo?**

   _____

   _____

3. **¿En cuáles de los siguientes elementos de nuestro hogar podemos encontrar circuitos eléctricos? Señálalos.**

a) Martillo	b) Secador de cabello	c) Destapador de botellas	d) Linterna
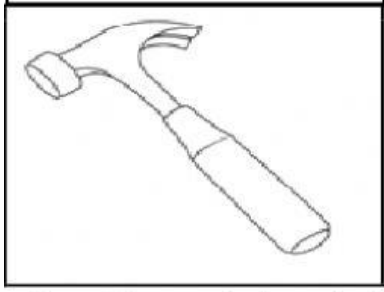	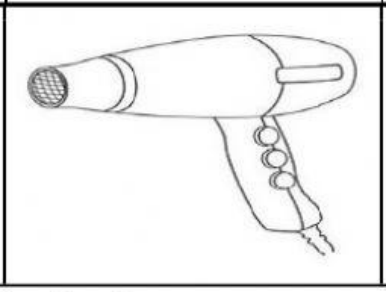	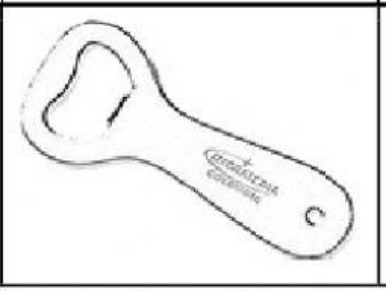	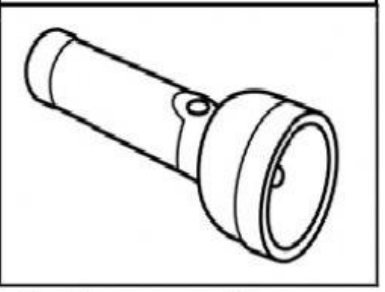

4. **Completa el siguiente mapa arrastando las pistas hacia los cuadros en blanco:**

Cuerpos negativos | más cargas negativas que positivas | Cuerpos positivos | Igual carga negativa y positiva.

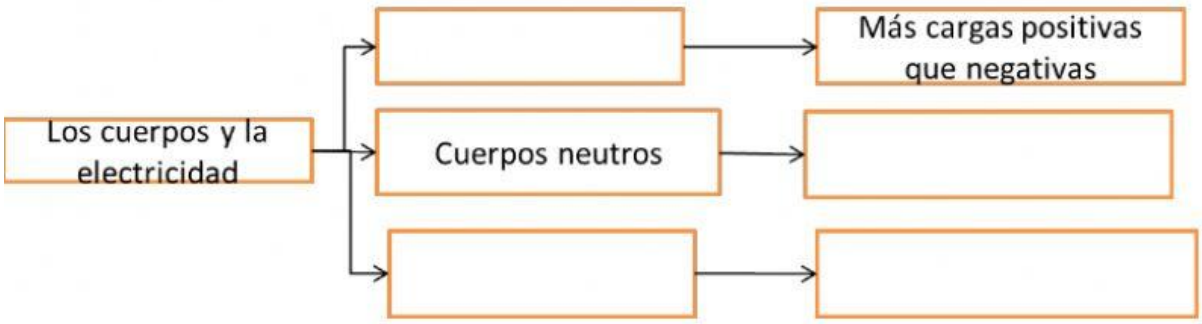

5. **Completa los cuadros arrastando la pista a partir de los dibujos:**

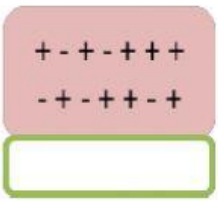

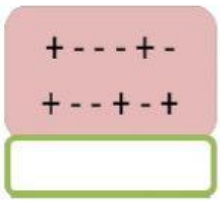

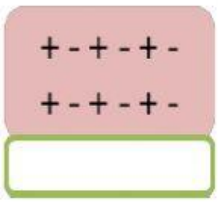

Cuerpo negativo

Cuerpo neutro

Cuerpo positivo

LIVEWORKSHEETS