HORAS Y ÁNGULOS

¿Cuánto tiempo ha transcurrido de una hora a otra?

Relaciona los periodos de tiempo de cada columna

semanal •	• 15 días
quincenal •	• 7 días
mensual •	• 60 días
bimestral •	• 30 dial
trimestral •	• 6 meses
semestral •	• 3 meses

Pasa estas unidades de tiempo incomplejas a forma compleja

2.365 segundos **15.054 segundos**

Pasa estas unidades de tiempo complejas a forma incompleja

3h 25min 15s **2h 33min 7s**

LIVEWORKSHEETS

Realiza las operaciones en una hoja en sucio, y escribe el resultado debajo de cada una

12 h 48 min 54 s + 3 h 10 min 22 s	4 h 13 min 2 s − 1 h 54 min 1 s	11 h 30 min 44 s + 3 h 35 min 45 s	13 h 24 s − 2 h 38 min 19 s

¿Cómo se llaman estos ángulos?

Llano | Recto | Completo | Obtuso

Marca la medida exacta de cada ángulo

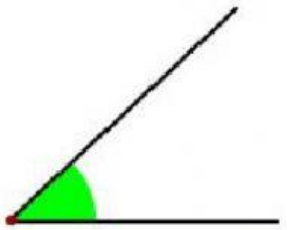

60º 45º 30º

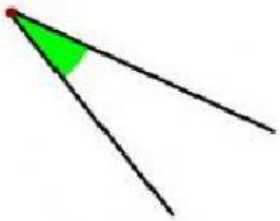

27º 40º 53º

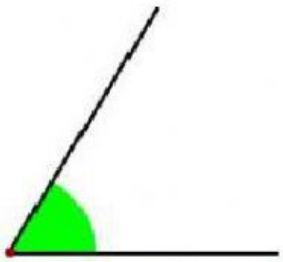

88º 45º 60º

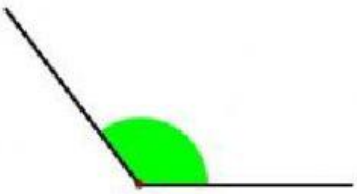

130º 110º 165º

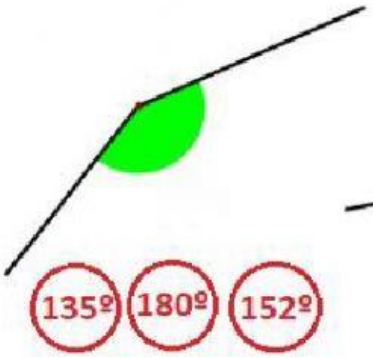

135º 180º 152º

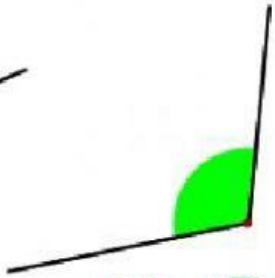

95º 107º 120º

LIVEWORKSHEETS

¿Cuánto mide cada ángulo?



Calcula cuánto mide cada ángulo, teniendo como referencia el ángulo de 38º

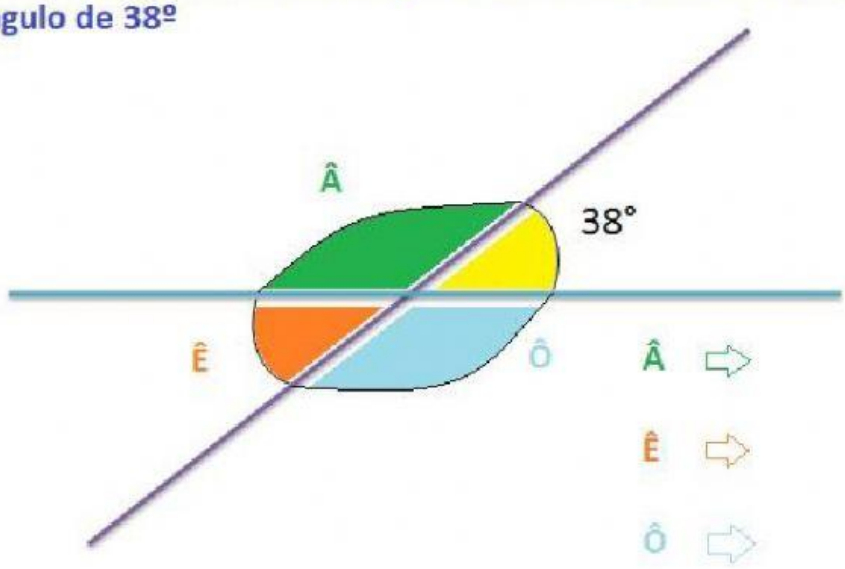

¿Cómo son entre sí, los ángulos Â y Ê?

¿Cómo son entre sí los ángulos Â y Ô?

LIVEWORKSHEETS