	ESCUELA ADVENTISTA DE HUALPÉN **Matemática** Prof.: *Luis Martínez Silva*	**GUÍA DE APRENDIZAJE** 4° *Año* ***"Figuras 3D"***	**Validación**
Nombre:			Porcentaje de logro.
Objetivo de Aprendizaje: **OA 16** - **Determinar las vistas de figuras 3D, desde el frente, desde el lado y desde arriba.**			
HABILIDADES: ***Comprender, Aplicar.***			

Identifica las partes de una figura 3D

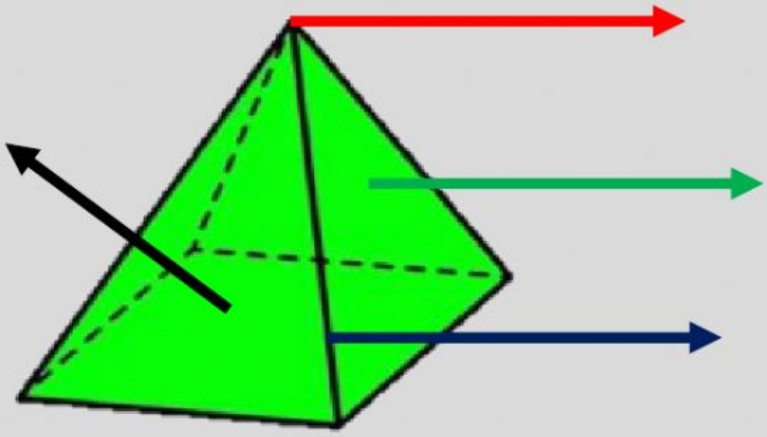

Determina las vistas de las figuras 3D, desde el frente, desde el lado y desde arriba.

Haz un tick (✓) en la figura que corresponde a la vista de "**lado**" del cubo.

1.-

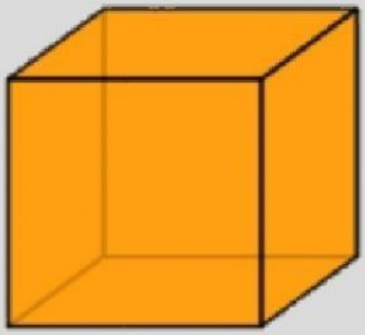

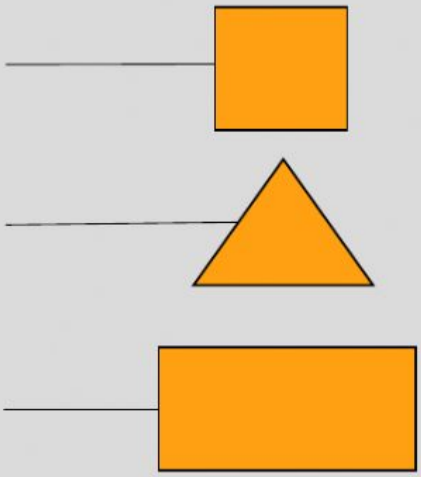

LIVEWORKSHEETS

Haz un tick (✓) en la figura que corresponde a la vista de "**arriba**" del paralelepípedo.

2.-

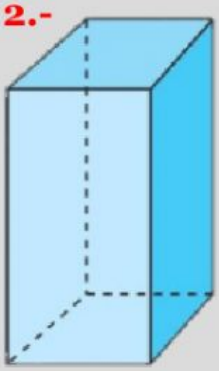

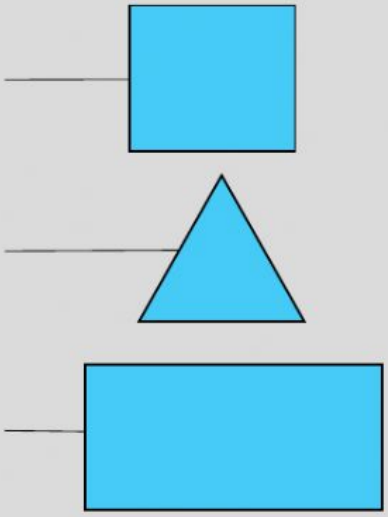

3.-

Haz un tick (✓) en la figura que corresponde a la vista de "**lado**" de la pirámide.

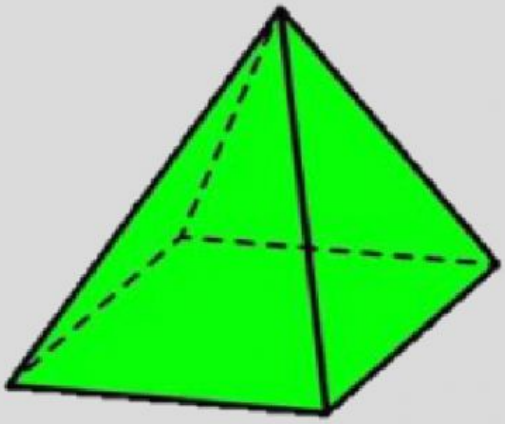

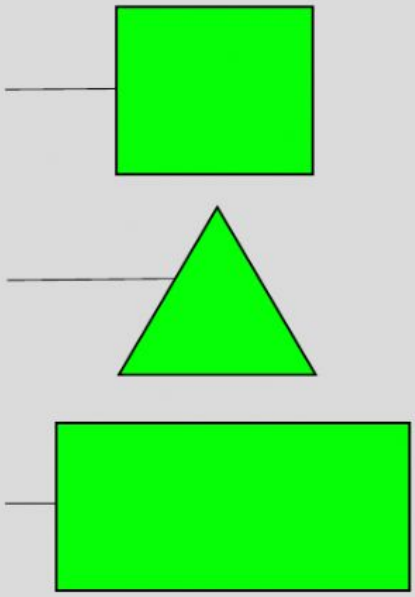

RECUERDA LOS NOMBRES DE **FIGURAS 3D**

Pirámide triangular – Pirámide cuadrangular – Paralelepípedo – Prisma triangular – Cubo – Prisma hexagonal – Prisma pentagonal – Pirámide pentagonal

LIVEWORKSHEETS

4.-

Haz un tick (✓) en la figura que corresponde a la vista de la "**base**" de la pirámide.

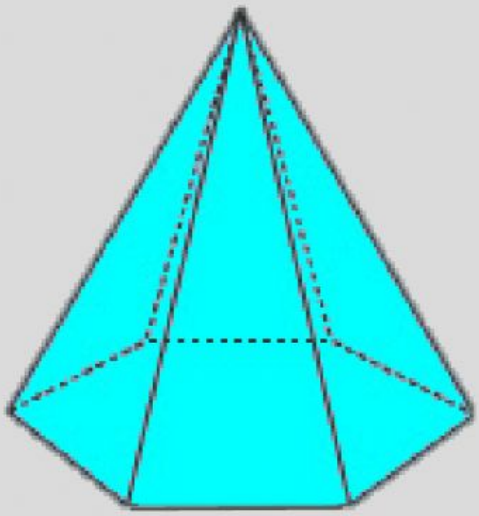

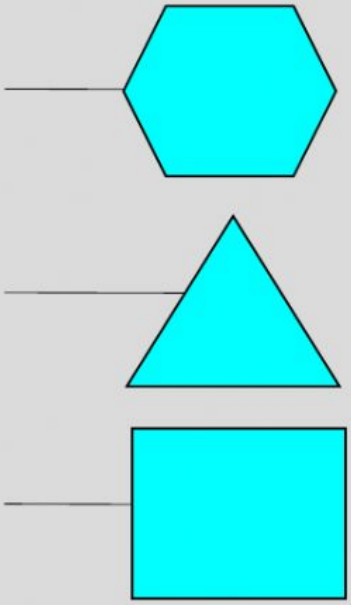

5.-

Haz un tick (✓) en la figura que corresponde a la vista de la "**cara lateral**" del paralelepípedo.

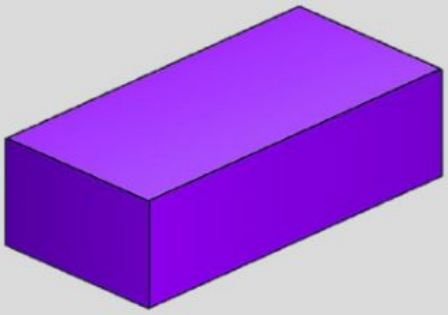

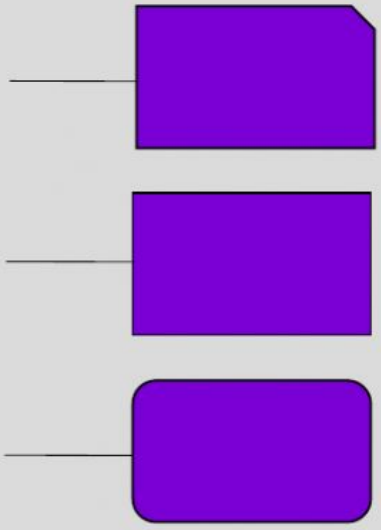

LIVEWORKSHEETS

6.-

Escribe el nombre de cada cuerpo, luego encuentra el número de caras, aristas y vértices:

1.

Caras ☐

Aristas ☐

Vértices ☐

Nombre: _____

2.

Caras ☐

Aristas ☐

Vértices ☐

Nombre: _____

3.

Caras ☐

Aristas ☐

Vértices ☐

Nombre: _____

4.

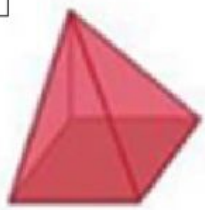

Caras ☐

Aristas ☐

Vértices ☐

Nombre: _____

5.

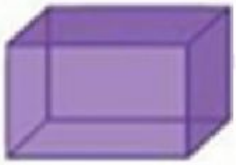

Caras ☐

Aristas ☐

Vértices ☐

Nombre: _____

6.

Caras ☐

Aristas ☐

Vértices ☐

Nombre: _____

7.

Caras ☐

Aristas ☐

Vértices ☐

Nombre: _____

8.

Caras ☐

Aristas ☐

Vértices ☐

Nombre: _____

LIVEWORKSHEETS