Docente: Gustavo Espinosa

Nivel: 2do Año de EGB

RESOLVIENDO SUMAS

Recuerda que el signo "+" es adición



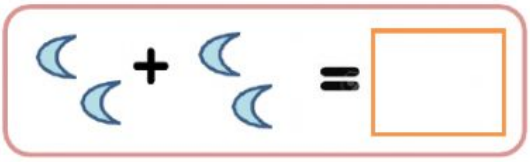



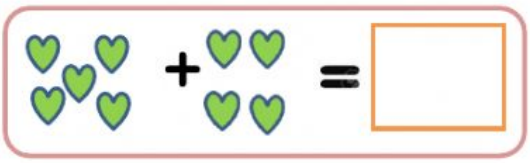

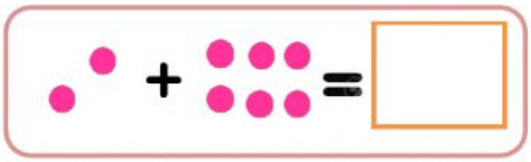

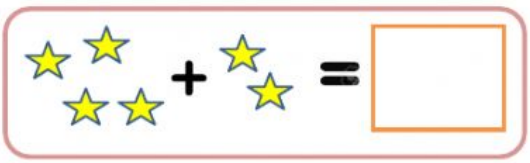

9 + 1 = ☐

5 + 2 = ☐

3 + 0 = ☐

3 + 3 = ☐

1 + 8 = ☐

4 + 1 = ☐

LIVEWORKSHEETS

RECTA NUMÉRICA

Observa la recta numérica y responde las siguientes preguntas:

1) El sapito saltarín comenzó a saltar, ¿en qué número se detuvo a descansar?

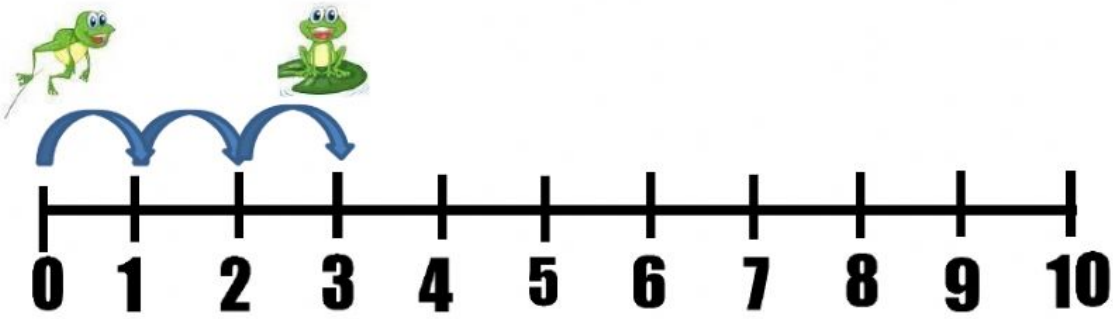

2) Luego avanzó a tomar el sol ¿Cuántos nuevos saltos debió dar?

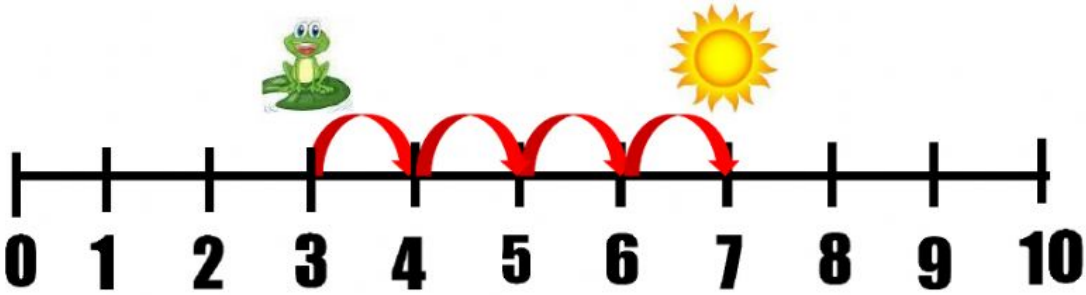

LIVEWORKSHEETS

3) Finalmente, caída la noche, se fue a dormir. ¿Cuánto debió saltar desde que tomaba el sol para llegar a su almohada y dormir?



4) Considerando todas las actividades que realizó el Sapito Saltarín. ¿Cuánto debió saltar desde que inició sus saltos hasta que se fue a dormir?

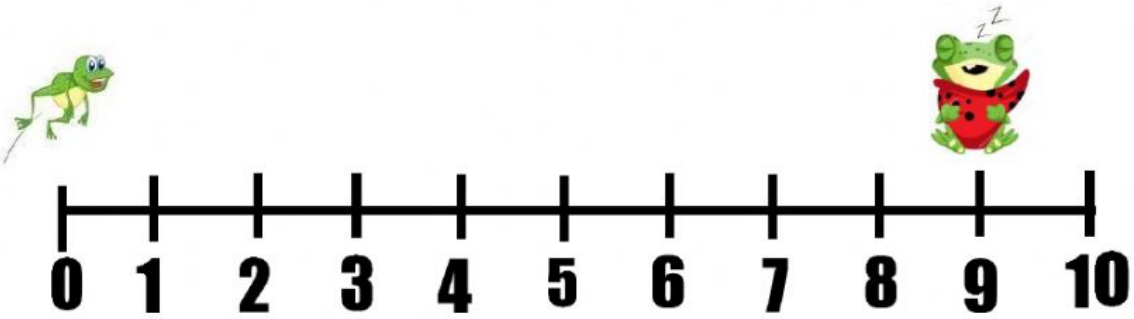

LIVEWORKSHEETS