1.- Seleccione la respuesta correcta.

a.- Es un sólido transparente y muy duro que se forma en el interior de la tierra, bajo presión y temperaturas muy elevadas se denominan:

1.- Diamante.

2.- Grafito

3.- Carbono amorfo.

4.- Fullereno.

b.- Son moléculas esféricas la más común es la de carbono 60, los demás son carbono 70, 76, 84 entre otras reciben el nombre de:

1.- Diamante.

2.- Grafito

3.- Carbono amorfo.

4.- Fullereno.

c.- Es el carbono que no tiene una estructura definida e incluso puede contener cristales microscópicos de grafito se lo denomina:

1.- Diamante.

2.- Grafito

3.- Carbono amorfo.

4.- Fullereno.

d.- Es un sólido de color negro, tacto suave y conductor de electricidad se lo denomina.

1.- Diamante.

2.- Grafito

3.- Carbono amorfo.

4.- Fullereno.

2 .- Seleccione la respuesta correcta.

a.- Observar la gráfica he indicar la posición del carbono según corresponda la flecha.

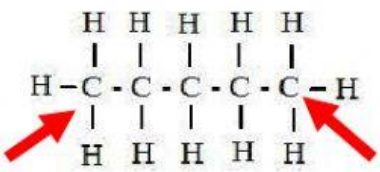

Carbono Primario.

Carbono Secundario.

Carbono Terciario.

Carbono Cuaternario.

LIVEWORKSHEETS
LIVEWORKSHEETS

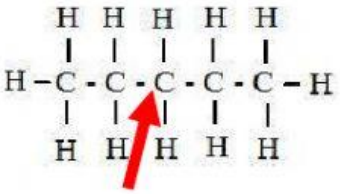

Carbono Primario.

Carbono Secundario.

Carbono Terciario.

Carbono Cuaternario.

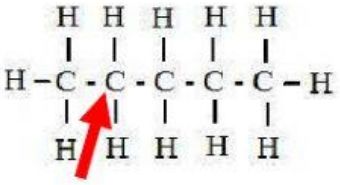

Carbono Primario.

Carbono Secundario.

Carbono Terciario.

Carbono Cuaternario.

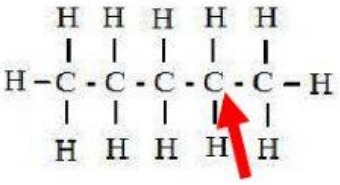

Carbono Primario.

Carbono Secundario.

Carbono Terciario.

Carbono Cuaternario.

LIVEWORKSHEETS

LIVEWORKSHEETS