TALLER DE REPASO

SEGUNDO PERIODO

CIENCIAS

1. Completa:

- Los animales _____ tienen huesos.
- Los animales _____ no tienen huesos.

2. Selecciona la clase a la que pertenece cada animal

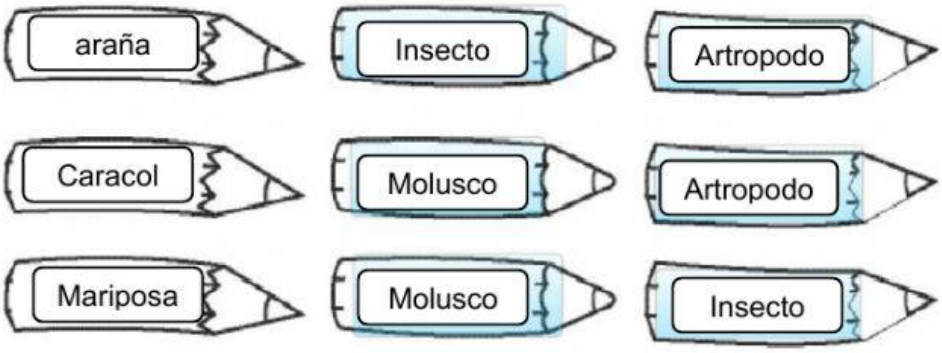

3. Escribe debajo de cada imagen si es arácnido, crustáceo o miriápodo

LIVEWORKSHEETS

4. Relaciona según corresponda

Insecto

Arácnidos

Anélidos

Molusco

5. ¿Qué animal posee muchas patas?

Miriápodos | Crustáceos | Arácnidos

6. ¿Qué animal tiene seis patas y dos antenas?

Crustáceos | Insectos | Miriápodos

7. ¿Qué animal posee un cuerpo blando y una concha

Artrópodos | Arácnidos | Moluscos

LIVEWORKSHEETS

8. Arrastra las imágenes para ordenar el ciclo de vida de este conejo

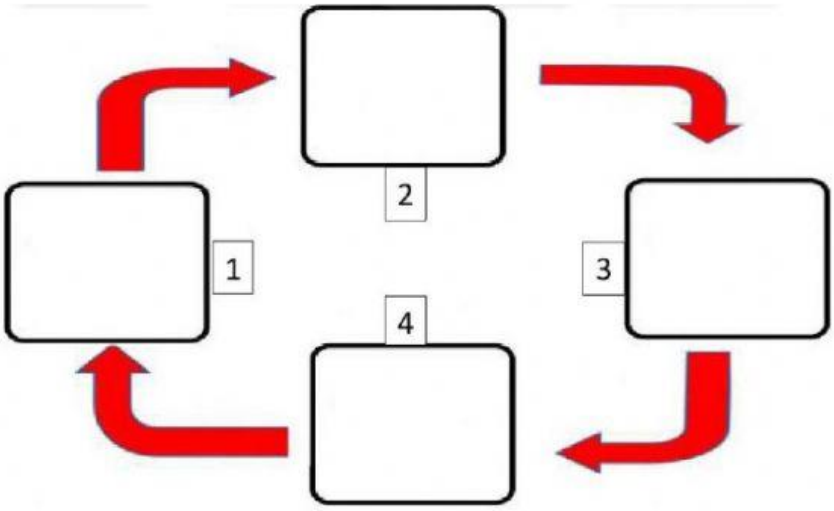

9. Marca la respuesta correcta

a) ¿Qué es un ciclo de vida?

- a. Es cuando un ser vivo nace y crece.
- b. Es cuando un ser vivo nace y luego muere.
- c. Son las etapas por las cuales pasan los seres vivos en su vida, desde que nacen hasta que mueren.

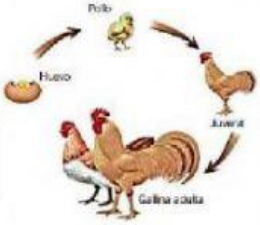

b) ¿Cuál es el ciclo de vida de un ser humano?

- a. Nacer, crecer y morir.
- b. Crecer, reproducirse, envejecer y morir.
- c. Nacer, crecer, reproducirse, envejecer y morir.

LIVEWORKSHEETS

10. Ordena estas oraciones, escribiendo de 1 a 4, y de acuerdo al ciclo de vida de un mamífero.

- [ ] **Los recién nacidos maman la leche de sus madres.**
- [ ] **Los mamíferos crecen y luego se cruzan para reproducirse.**
- [ ] **Las crías se forman dentro del cuerpo de la madre y luego nacen.**
- [ ] **Pasado un tiempo, envejecen y mueren.**

11. Arrastra las imágenes para ordenar el ciclo de vida de una mariposa

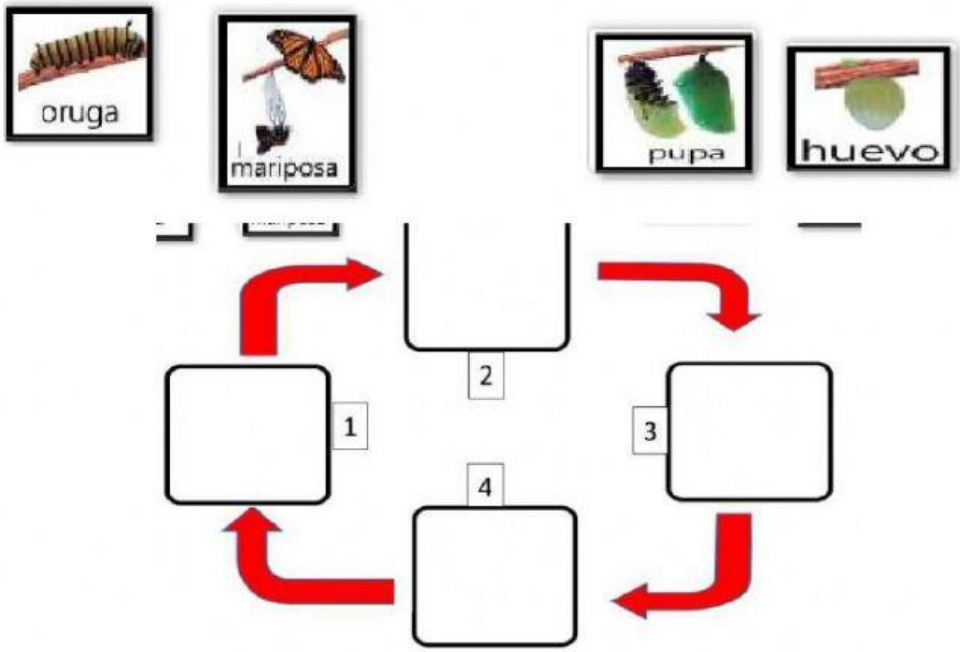

LIVEWORKSHEETS

12. Arrastra las características de los animales terrestres y acuáticos, completando según corresponda.

Los animales _____ viven en cualquier superficie de la _____.

Los animales _____ viven dentro del _____.

acuáticos terrestres tierra agua

13. Observa las imágenes e identifica la clasificación de los animales según su hábitat. Luego, escribe los nombres del cartel según corresponda.

LIVEWORKSHEETS

14. Identifica las características de los animales según su hábitat: terrestres o acuáticos colocando T si es terrestre y A si es acuático



LIVEWORKSHEETS