Aula especializada de informática – 5º Ano – 24 à 28 de maio de 2021

Aluno(a): _____

Professora: _____

1 -) O gráfico seguinte mostra a distribuição da população mundial. Observando o gráfico responda:

a)Qual o continente mais povoado?_____

b)Qual o continente menos povoado? _____

2 -) Em 1998 havia 1 200 livrarias no Brasil. A distribuição dessas livrarias está representada no gráfico seguinte:

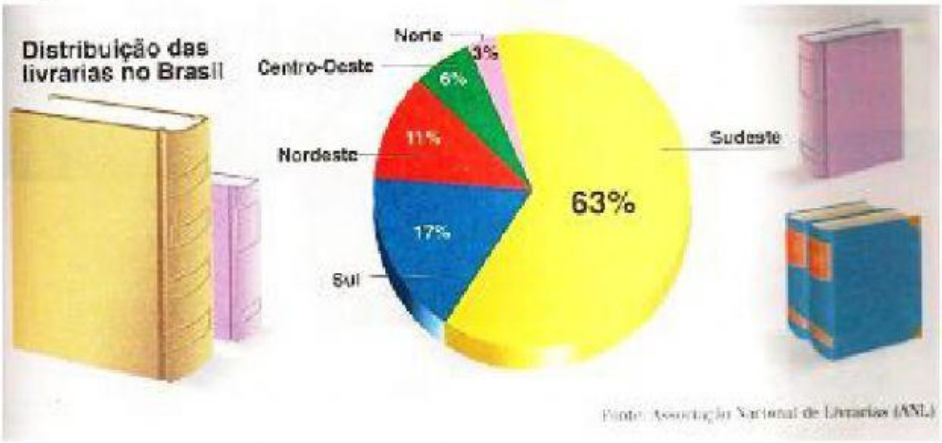

a) Qual a região que tem maior número de livraria? _____

b) Quantos por cento de livraria estão localizadas na região Nordeste? _____

3 -) O prefeito de uma cidade criou um departamento cujo objetivo é oferecer cursos profissionalizantes para moradores. O gráfico a seguir mostra em cada 100 participantes quanto fazem cada um dos cursos oferecidos.

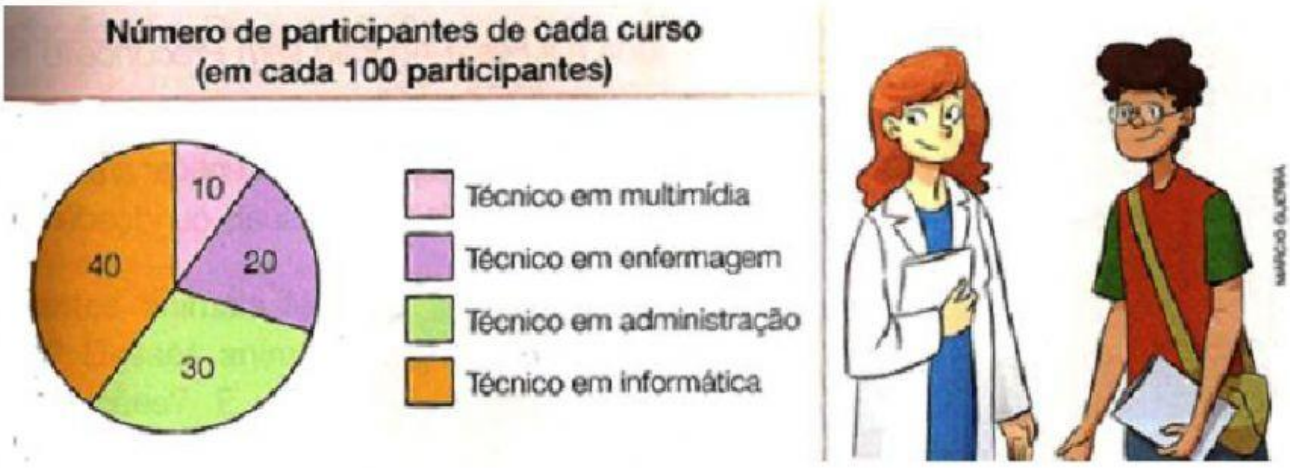

LIVEWORKSHEETS

a)Observe o gráfico e responda às questões.

a)Qual é o curso com maior número de participantes?.....

Em cada 100 participantes, quantos fazem esse curso?.....

b)Qual é o curso com o menor número de participantes?.....

Em cada 100 participantes, quantos fazem esse curso?.....

4 -) O gráfico abaixo mostra o resultado da votação para representante das salas do 5º ano no grêmio de uma escola. No total votaram 120 alunos.



a) Classifique os candidatos pela ordem de votação.

1º lugar	2º lugar	3º lugar	4º lugar	5º lugar

b) Quem foi eleito representante com a maioria dos votos?

https://bellcardozo.blogspot.com/2016/01/atividades-com-graficos-5-ano.html

LIVEWORKSHEETS