ENTRETENIMIENTO MATEMÁTICO

CRUCIGRAMA

Secciones Cónicas



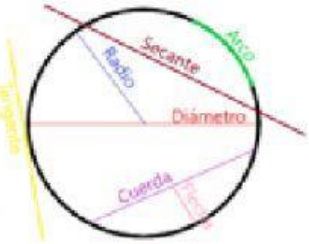

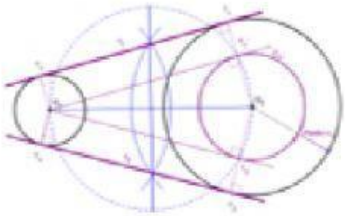

LIVEWORKSHEETS

1. ¿Quién creo la obra Sobre las secciones cónicas?
2. ¿Cuál es el centro de la ecuación (x-1)2 + (y-7)2 = 36?
3. ¿El centro de la circunferencia a que distancia está de todos los puntos de la circunferencia?
4. " h" hace referencia a:
5. ¿Qué es "k" de la siguiente ecuación (x+2)2 + (y-2)2= 16?
6. ¿Cuál es el radio de la ecuación (x-3)2 + (y-2)2 = 25?
7. ¿Todos los puntos de una circunferencia están a una distancia?
8. ¿Cuál es el radio de la ecuación (x+2)2 + (y-2)2 = 9?
9. ¿Cuál es el radio de la ecuación (x-1)2 + (y-7)2 = 36?
10. ¿Qué es "h" de la siguiente ecuación (x-2)2 + (y-2)2 = r2?

LIVEWORKSHEETS