PRÁCTICANDO

INSTRUCCIONES: Estimado estudiante lee cada pregunta y responde adecuadamente. Mucha Suerte.!!

1.- Completa los espacios

a) Un es un polígono de lados; está formado por tres de recta que se denominan , o tres puntos no que se llaman

b) Triángulo : si sus tres lados tienen la misma longitud

b) Triángulo : si tiene dos lados y dos ángulos iguales

c) Triángulo : si todos sus lados y ángulos son distintos.

3.- Relaciona cada clase de triángulo según sus lados.

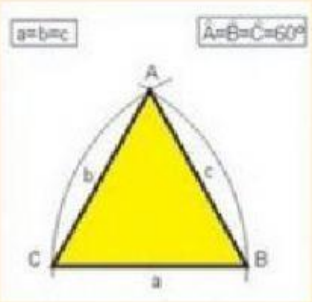

ESCALENO

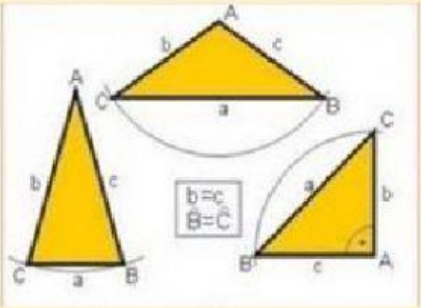

EQUILÁTERO

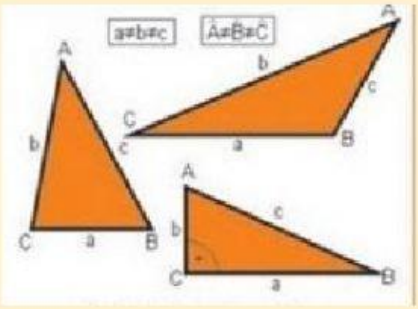

ISÓSCELES

LIVEWORKSHEETS

4.- Mueve las piezas y descubre que animal esta escondido.

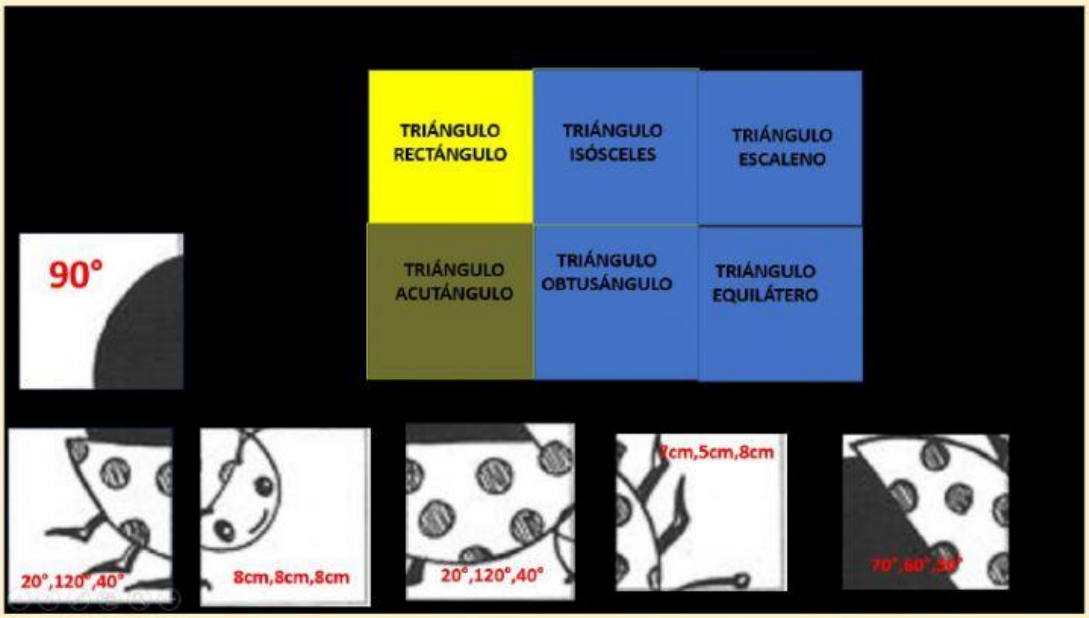

5. Observa el video y selecciona.

LIVEWORKSHEETS

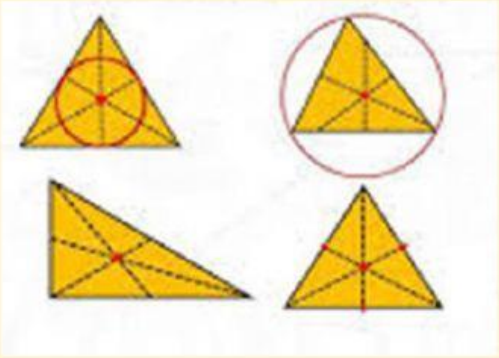

a) Es la semirrecta con origen en un vértice de un ángulo que divide en dos partes iguales

MEDIANA

BISECTRIZ

MEDIATRIZ

b) Es el punto de intersección de las tres bisectrices.

CIRCUNCENTRO

ORTOCENTRO

INCENTRO

LIVEWORKSHEETS