EVALUACION DE MATEMÁTICA CORRESPONDIENTE AL MES DE MAYO

QUINTO AÑO DE BÁSICA

OPERACIONES CON DECIMALES

1) Coloque en forma vertical y sume. No se olvide de colocar la coma.

A.

5	4	5,	2	5	7	+	2	5,	3	8	0

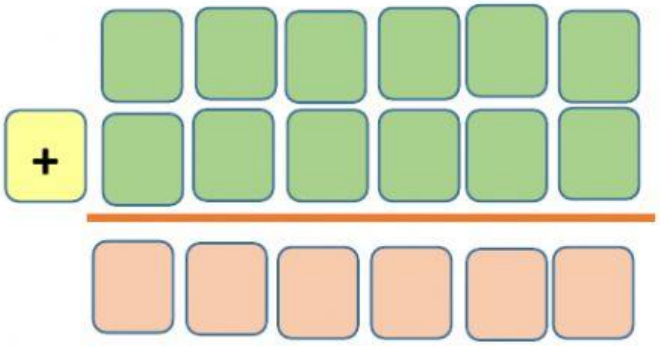

B.

1	2	3,	5	4	+	3	4	1,	6	5	2

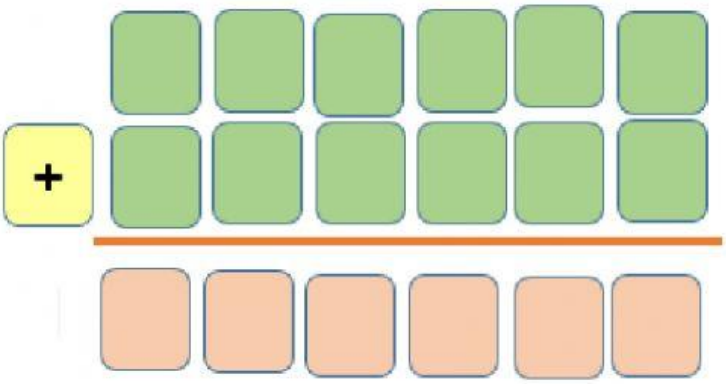

LIVEWORKSHEETS

2) Coloque en forma vertical y reste no se olvide de colocar la coma.

A.

3	0,	9	7	-	2	2,	1	8		

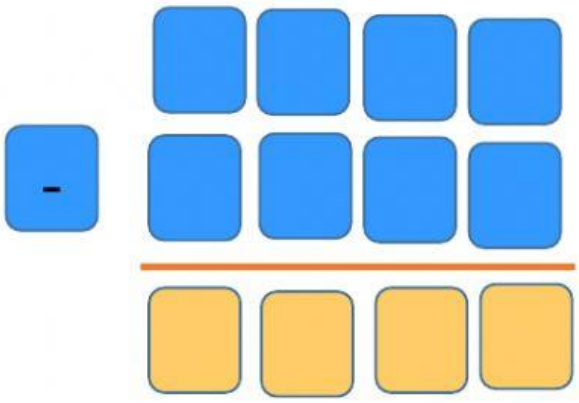

B.

8	8,	0	7	0	-	7	4,	5	6	4

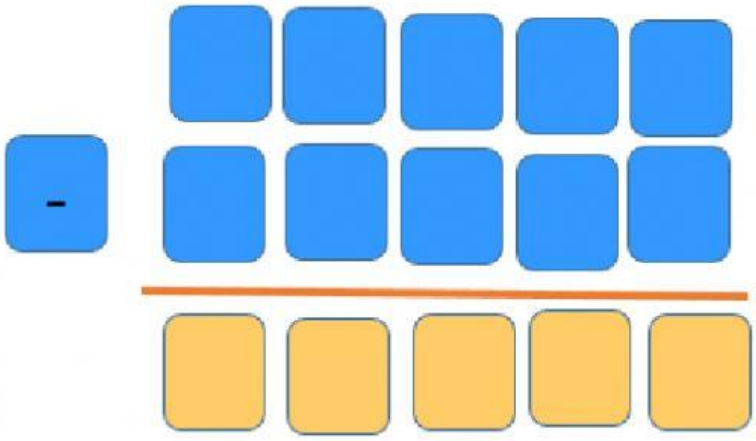

LIVEWORKSHEETS

3) Realice las siguientes multiplicaciones y coloque la coma.

	3	7,	4	8	2
x					6

			6	3	4,	2
x					6	7
+						

LIVEWORKSHEETS

4) **Calcule las siguientes operaciones y ubique las comas según corresponda.**

3,8 x 10 =

9,57 x 10 =

23,942 x 100 =

5,9 x 100 =

7,52 x 1000 =

23,95 x 1000 =

56,25 x 10 =

LIVEWORKSHEETS