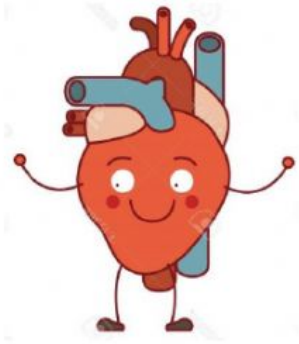

Repasando los sistemas

SEXTO- EP13

- DE ACUERDO A LO VISTO SOBRE EL **SITEMAS DIGESTIVO**, SELECIONÁ LOS ÓRGANOS QUE PERTENECEN A ESTE SISTEMA

TRÁQUEA	HÍGADO	PULMONES	PÁNCREAS
BRONQUIOS	CORAZÓN	VASOS SANGUÍNEOS	TUBO DIGESTIVO
INTESTINO GRUESO	ALVÉOLOS	BRONQUIOLOS	ESÓFAGO

FOSAS NASALES	ESTÓMAGO	BOCA
VENAS	SANGRE	INTESTINO DELGADO
LARINGE	GLÁNDULAS SALIVALES	

LIVEWORKSHEETS

UNÍ CON FLECHA LOS ÓRGANOS CON LA FUNCIÓN QUE CORRESPONDE

BOCA

ESTÓMAGO

PÁNCREAS

HIGADO

INTESTINO DELGADO

INTESTINO GRUESO

GLÁNDULAS SALIVALES

ESÓFAGO

PRODUCEN UN LÍQUIDO QUE ABLANDA LOS ALIMENTOS

ENTRADA DE LOS ALIMENTOS AL CUERPO. ALLÍ SON TRITURADOS POR LOS DIENTES. SE PRODUCE EL BOLO ALIMENTICIO

EN ESTE ÓRGANO SE ABSORVEN LOS NUTRIENTES QUE VAN HACIA LA SANGRE.

APORTAN JUGO PANCREÁTICOS QUE PERMITEN DIGERIR EL ALIMENTO

LAS SUSTANCIAS QUE NO SE PUEDEN DIGERIR SE VAN HACIA ESTE ÓRGANO, DONDE SE PRODUCE LA MATERIA FECAL

PRODUCE BILIS, LA CUAL AYUDA A DIGERIR LAS GRASAS

UNE LA BOCA CON ES ESTÓMAGO

DESPUÉS DE PASAR POR EL TUBO DIGESTIVO, LLEGA EL BOLO Y SE MEZCLA CON LOS JUGOS GÁSTRICOS QUE PRODUCE ESTE ÓRGANO.

LIVEWORKSHEETS

SISTEMA CIRCULATORIO: OBSERVA LA IMAGEN Y UNÍ CON FLECHAS LA FUNCIÓN CON EL ÓRGANO QUE CORRESPONDE

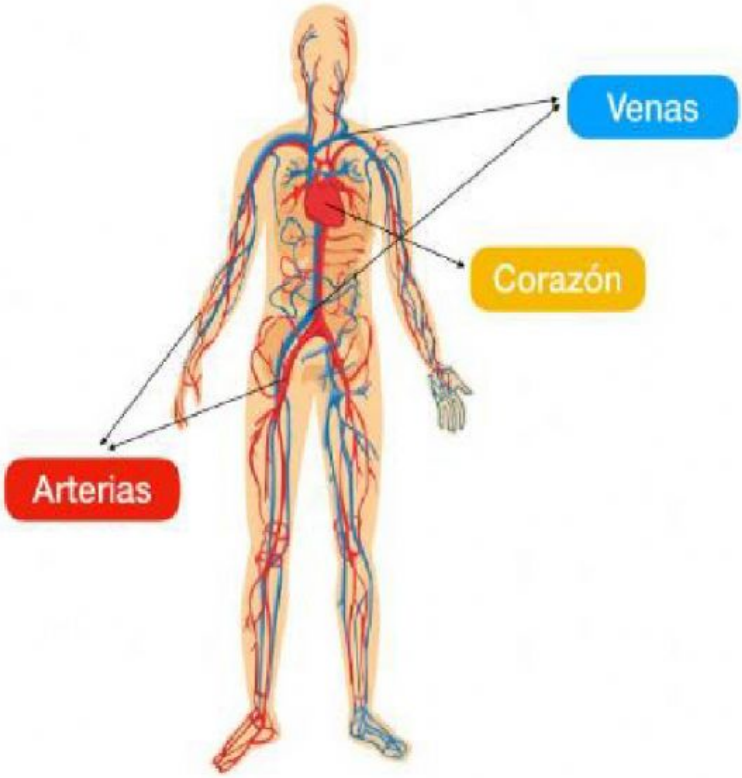

Se encarga de bombear la sangre para que llegue a todo el cuerpo.

Llevan la sangre del corazón al resto del cuerpo con las sustancias que éste requiere.

Llevan la sangre del cuerpo con algunas sustancias de desecho hacia el corazón.

LIVEWORKSHEETS

ARRASTRÁ LA FUNCIÓN DE CADA COMPONENTE DE LA SANGRE EN LA PARTE DEL CUADRO QUE CORRESPONDA

CÉLULAS SANGUÍNEAS QUE TRANSPORTAN EL OXÍGENO DESDE NUESTROS PULMONES A TODAS LAS PARTES DEL CUERPO

TAMBIÉN LLAMADOS LEUCOCITOS, SE ENCARGAN DE LA DEFENSA DE NUESTRO CUERPO

AYUDAN A LA COAGULACIÓN DE LA SANGRE Y LA CICATRIZACIÓN DE HERIDAS

LÍQUIDO AMARILLENTO QUE TRANSPORTA SUSTANCIAS EN NUESTRO CUERPO

PLASMA	GLÓBULOS ROJOS	GLÓBULOS BLANCOS	PLANQUETAS

LIVEWORKSHEETS

COMPLETA LAS PARTES DEL CORAZÓN QUE SEÑALAN LAS FLECHAS. DEBAJO TENÉS LOS CONCEPTOS COMO AYUDA

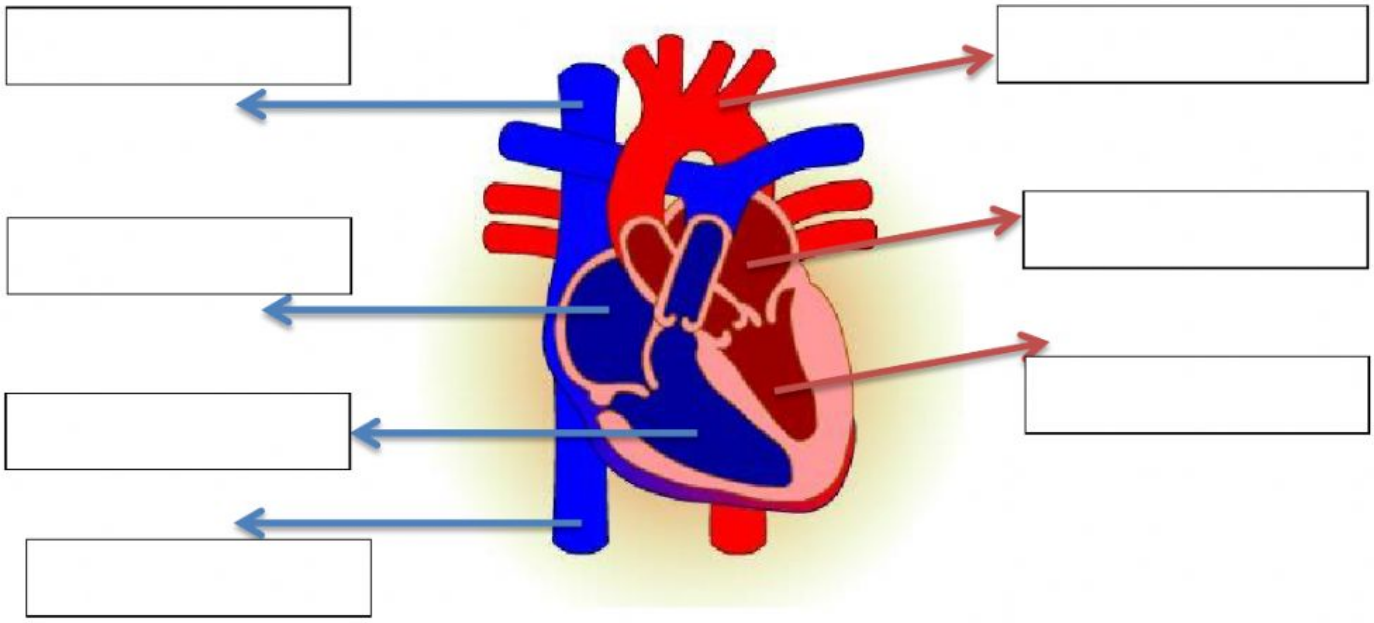

VENA CAVA SUPERIOR- VENTRÍCULO DERECHO- VENA CAVA INFERIOR- ARTERIA AORTA- VENTRÍCULO IZQUIERDO- AURÍCULA IZQUIERDA- AURÚCULA DERECHA

ELEGÍ LA OPCIÓN CORRECTA APRETANDO LA FLECHA

POR LA PARTE DERECHA DE NUESTRO CORAZÓN CIRCULA LA SANGRE

POR LA PARTE IZQUIERDA DE NUESTRO CORAZÓN CIRCULA LA SANGRE

VAMOS CON EL ÚLTIMO SISTEMA 👇

LIVEWORKSHEETS

UBICÁ ARRASTRANDO CADA CONCEPTO DONDE CORRESPONDA

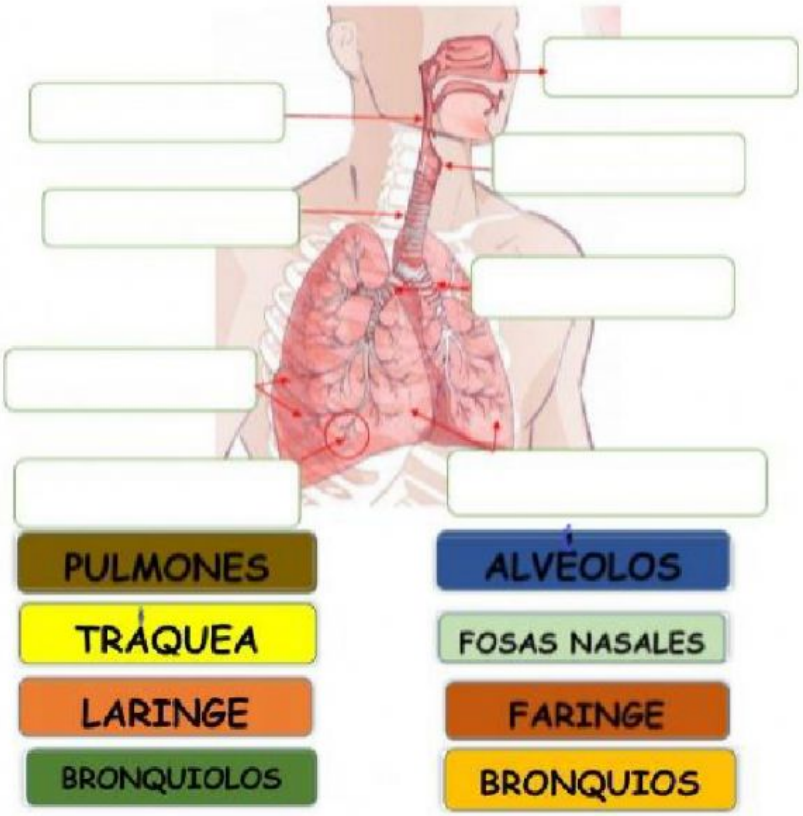

SELECCIONÁ VERDADERO O FALSO SEGÚN CORRESPONDA, APRETANDO LA FLECHA Y ELEGIENDO LA OPCIÓN CORRECTA

DENTRO DE LOS ALVÉOLOS SE PRODUCE EL INTERCAMBIO DE GASES

VERDADERO FALSO

CUANDO INHALAMOS, EXPULSAMOS EL AIRE

VERDADERO FALSO

CUANDO INGRESA EL AIRE A NUESTRO CUERPO, EL DIAFRAGMA SE CONTRAE Y SUBE

VERDADERO FALSO

CUANDO EXHALAMOS, ELIMINAMOS EL DIÓXIDO DE CARBONO

VERDADERO FALSO

CUANDO EXHALAMOS, NUESTRA CAJA TORÁCICA AUMENTA

VERDADERO FALSO

LIVEWORKSHEETS