COLÉGIO ANTÔNIO ARARIPE

Referência em Educação nos Inhamuns!

Série:	Turma:	Turno:	Data:
7º			

Área do Conhecimento/Componente Curricular:	Professor(a):
Matemática	*Emanuel*

Aluno(a):	Nº:

Trabalho de Matemática

1) Complete as figuras abaixo usando a reta localizada à direita das figuras como eixo de simetria . Esta reta é chamada eixo de simetria e funciona como se fosse um espelho.

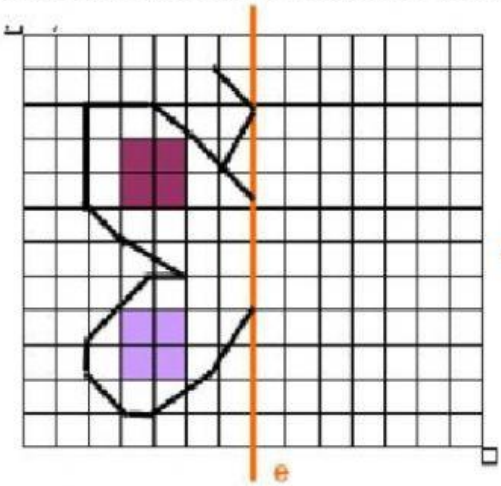

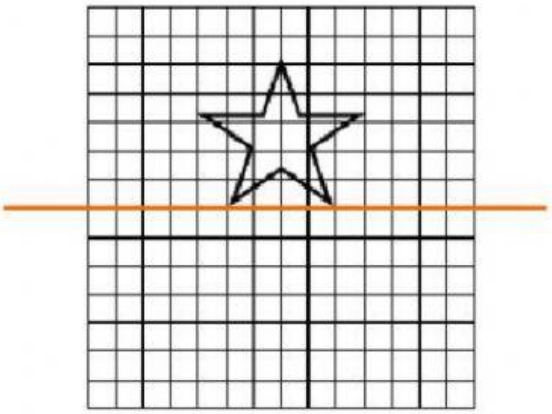

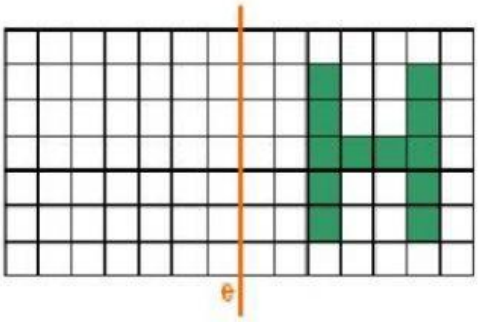

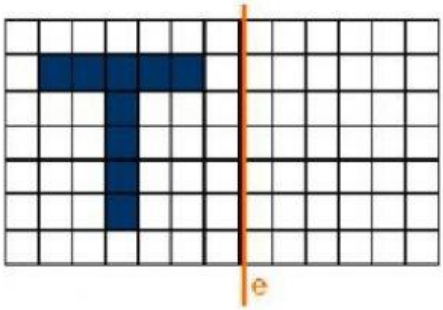

LIVEWORKSHEETS

2) Desenhe o eixo de simetria nas figuras a seguir:



3) Considera as figuras ao lado.
Utiliza as letras correspondentes para escrever as figuras que têm:

a) pelo menos uma simetria de reflexão;

b) duas (e apenas duas) simetrias de rotação;

c) duas (e apenas duas) simetrias de reflexão;

d) quatro (e apenas quatro) simetrias de rotação;

e) uma simetria de reflexão, mas não têm simetrias de rotação;

f) mais de quatro simetrias de rotação;

g) simetrias de rotação mas não têm simetrias de reflexão.



4) Desenhe as figuras abaixo refletidas pela reta localizada à direita das figuras. Esta reta é chamada eixo de simetria e funciona como se fosse um espelho.

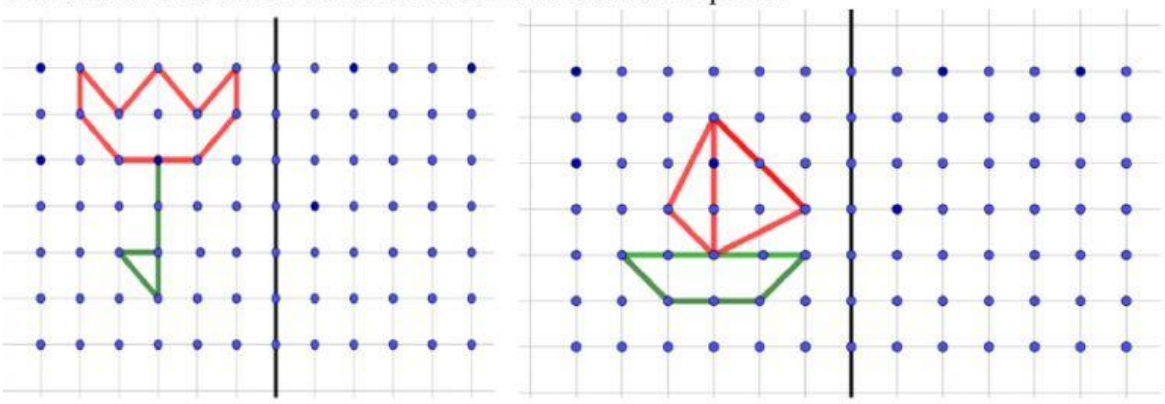

LIVEWORKSHEETS

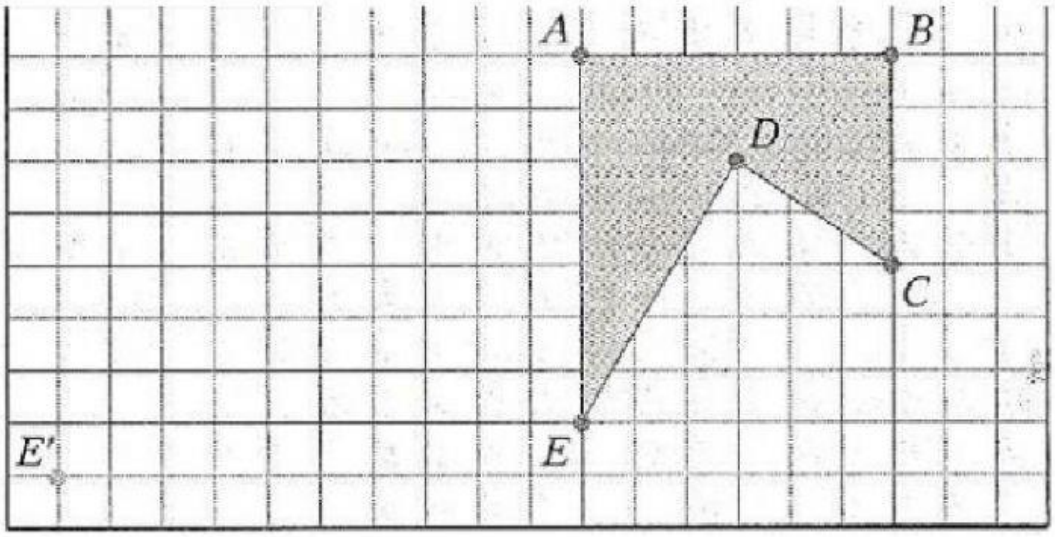

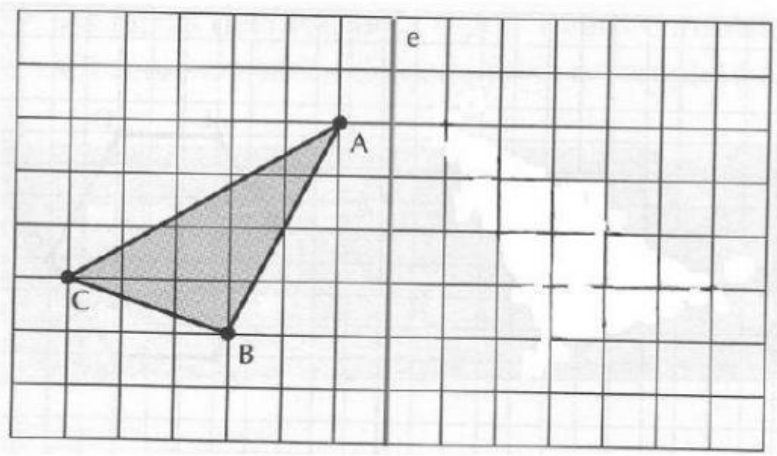

5) Os desenhos que se seguem estão incompletos. Completa-os por forma que as retas marcadas sejam os seus eixos de simetria

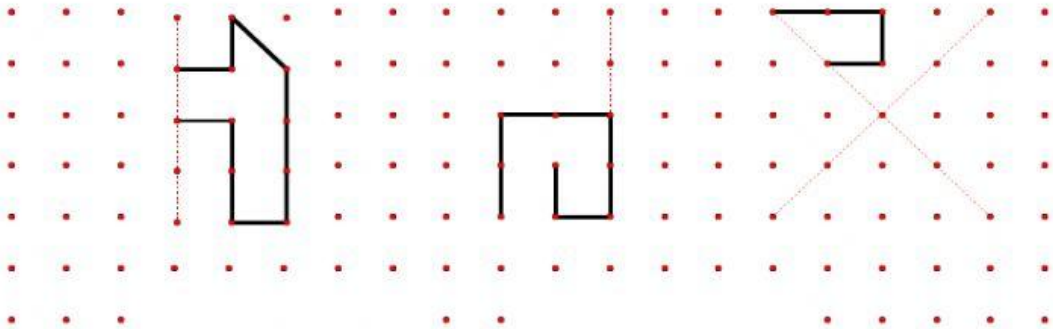

LIVEWORKSHEETS

LIVEWORKSHEETS