COLEGIO DIEGO THOMSON

Evaluación Trimestral

Grado: 3°	Curso: Raz. Matemático	Profesor: Jaime A. Cedamanos T.

Apellidos y nombre:_____

1.- Halla la cantidad máxima de segmentos en las siguientes figuras y coloca su resultado en su respectivo recuadro (2 Punto cada uno)

A)



B)

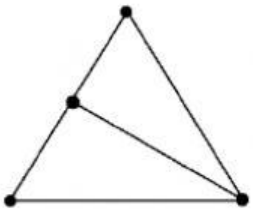

C)

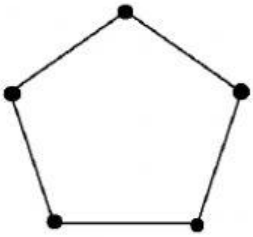

D)

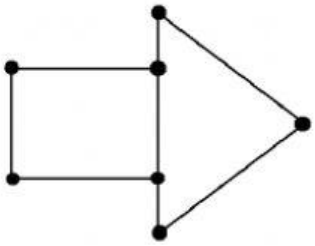

2.- Halla la cantidad máxima de triángulos en las siguientes figuras y coloca su resultado en su respectivo recuadro (2 Puntos cada uno)

A)

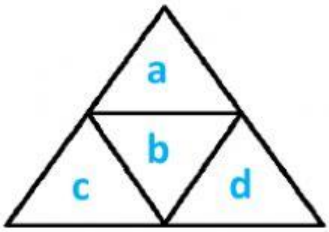

TOTAL =

B)

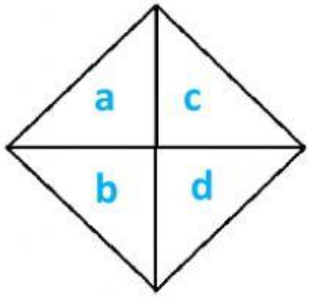

TOTAL =

LIVEWORKSHEETS

3.- Completa la gráfica y responde las preguntas (2 Puntos)

Se les preguntó a los niños del Diego Thomson sobre la fruta que les gusta de postre. Los resultados se colocaron en el gráfico de la derecha

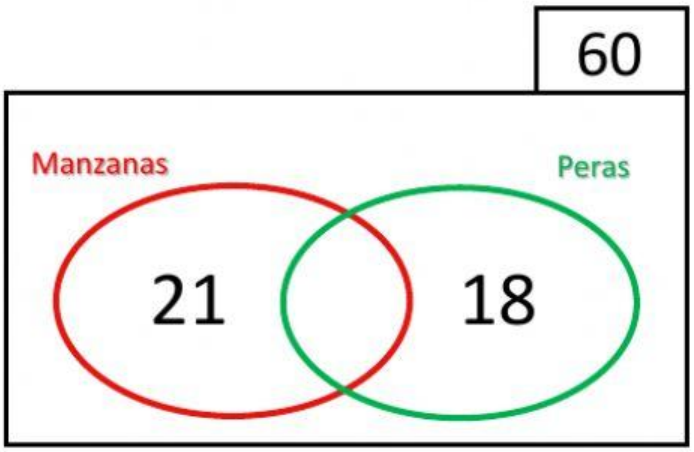

- Les gusta solo las manzanas
- Les gusta las peras
- Les gusta las manzanas y las peras

4.- Ordena los siguientes casos (2 Puntos por caso)

a.

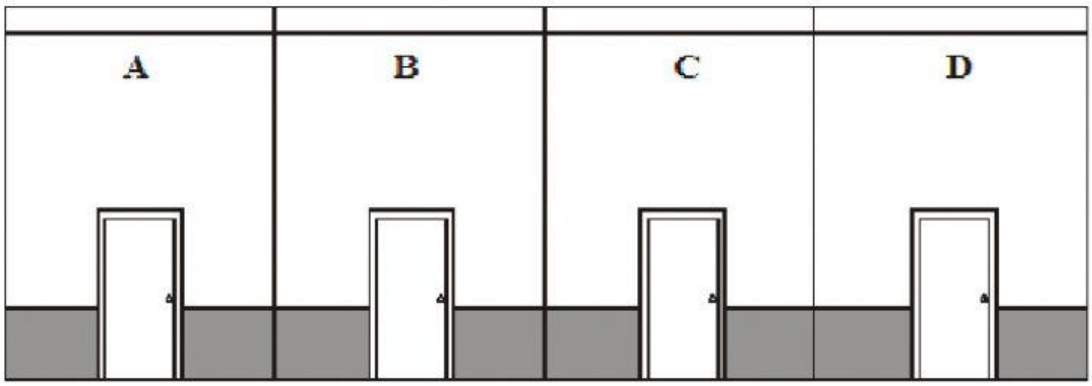

- Carmen vive a la izquierda de Elena
- Miriam vive a la derecha de Elena
- Fabiola vive en la última casa

COLEGIO DIEGO THOMSON

LIVEWORKSHEETS

b. Un grupo de chicas están haciendo cola para una entrevista de trabajo; se sabe que Rita estaba adelante de Evelyn y Soledad estaba delante de Marita; a su vez Marita estaba delante de Rita.

c. José vive a la derecha de Martín, a la derecha de José vive Luis y Hugo vive a la derecha de Luis.

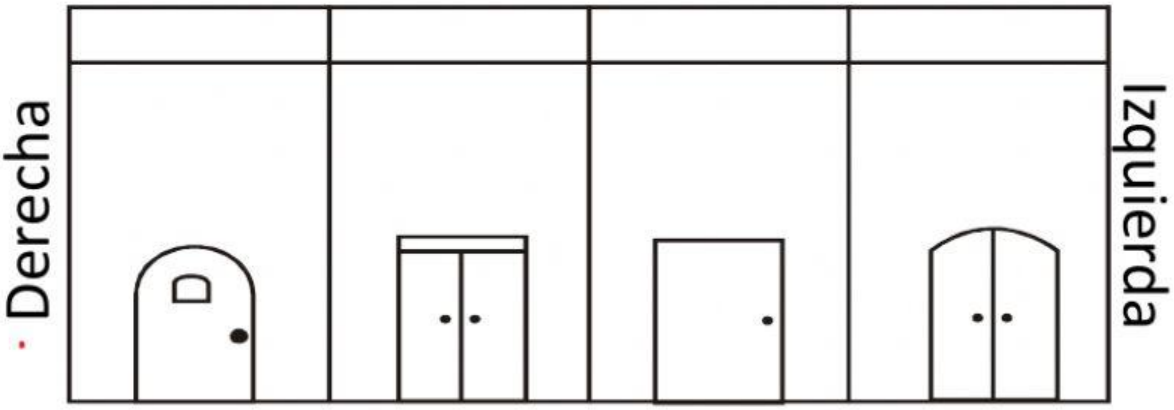

COLEGIO DIEGO THOMSON

LIVEWORKSHEETS