Área del trapecio

Completa los huecos para calcular el área de las siguientes figuras, sigue la fórmula indicada:

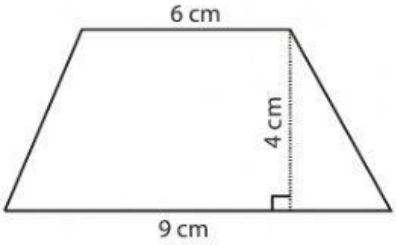

Área = $\frac{(\square \ \square \ \square)\square \ \square}{\square}$

Área = $\frac{(\square \ \square \ \square)\ \square \ \square}{\square}$

Área = $\frac{(\square \ \square \ \square)\ \square \ \square}{\square}$

Área = $\frac{\square \ \square \ \square}{\square} = \frac{\square}{\square} = \square \ \square^{\square}$

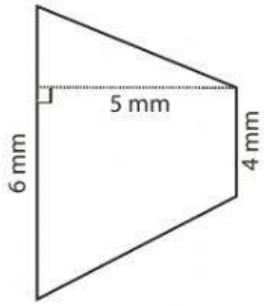

Área = $\frac{(\square \ \square \ \square)\square \ \square}{\square}$

Área = $\frac{(\square \ \square \ \square)\ \square \ \square}{\square}$

Área = $\frac{(\square \ \square \ \square)\ \square \ \square}{\square}$

Área = $\frac{\square \ \square \ \square}{\square} = \frac{\square}{\square} = \square \ \square^{\square}$

LIVEWORKSHEETS

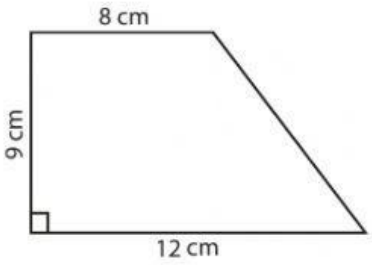

Área = $\dfrac{(\square \ \square \ \square)\square \ \square}{\square}$

Área = $\dfrac{(\square \ \square \ \square)\ \square \ \square}{\square}$

Área = $\dfrac{(\square \ \square \ \square)\ \square \ \square}{\square}$

Área = $\dfrac{\square \ \square \ \square}{\square} = \dfrac{\square}{\square} = \square \ \square^{\square}$

LIVEWORKSHEETS