Estadística

1 Les edats dels alumnes de la classe són les següents.

21 17 20 18 18 17 17 16 17 17 21 19 19 17 17 16

2 Fes una taula de freqüències.

	Freqüència absoluta	Freqüència relativa	%
16	2	2/16 = 0,125	12,5%
		=	
		=	
		=	
		=	
		=	
Total		=	

3 Representa gràficament amb un diagrama de barres.

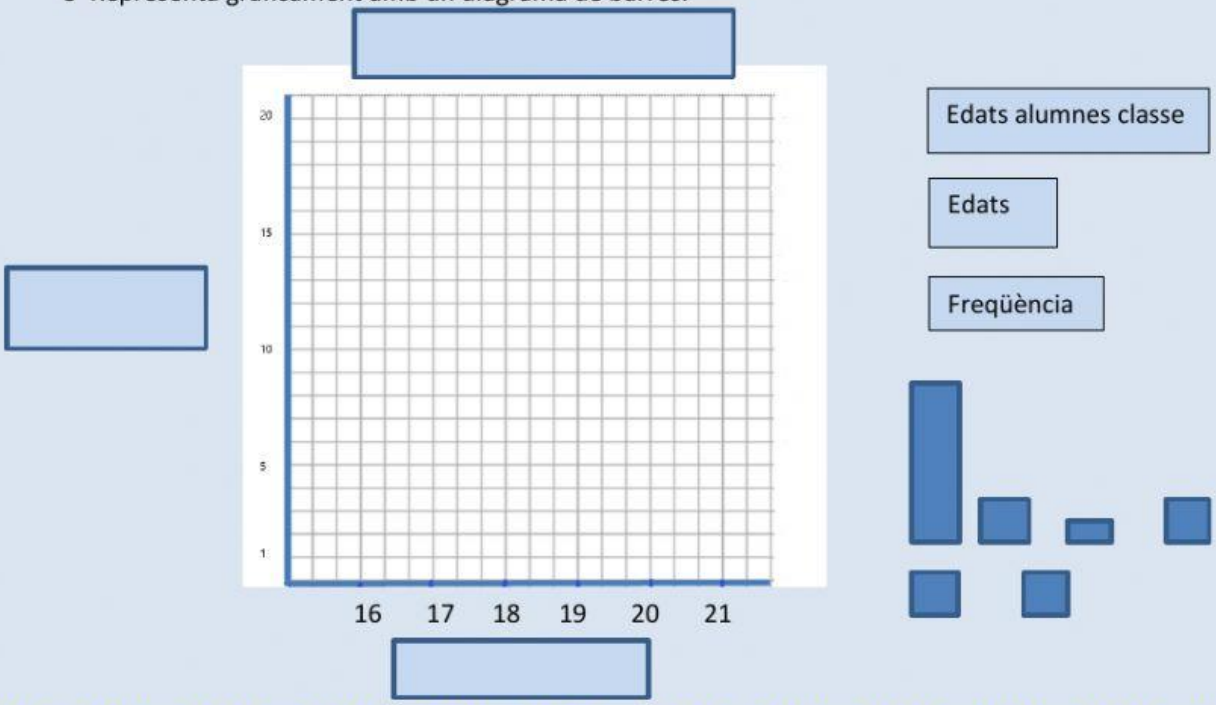

LIVEWORKSHEETS

1 Es vol saber els diners que gasten els alumnes de la classe en un cap de setmana, i ens diuen:

5 10 20 5 12 15 20 15 24 10 10 20 5 30 6 18 10 6 5 35

2 Fes una taula de freqüències.

	Freqüència absoluta	Freqüència relativa	%
5-9	6	0,3	30%
10-14			
15-19			
20-24			
25-29			
30- >			
Total			

3 Representa gràficament amb un histograma.

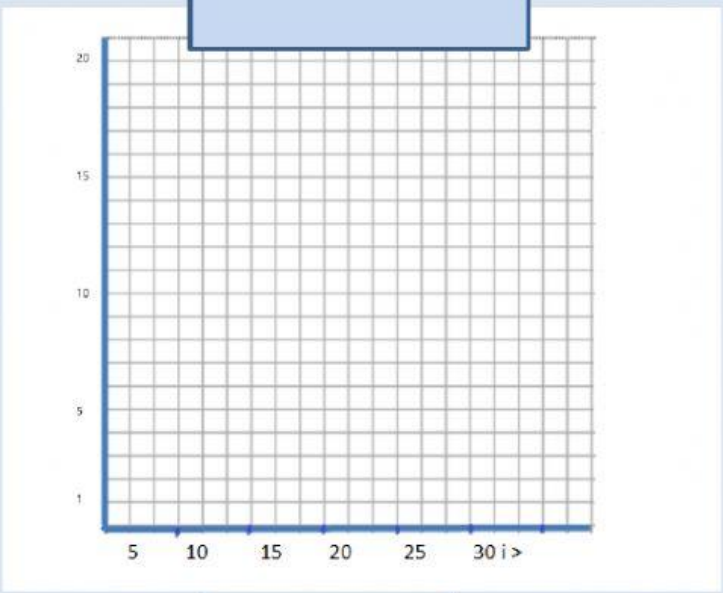

Diners gasten el cap de setmana

Diners

Freqüència

LIVEWORKSHEETS

1 Es pregunta al alumnes de la classe sobre les seves preferències en mascotes, les seves respostes són:

gos gat ocell gos gos gos gat gos gos ocell hàmster gat gat ocell gos gat gos gat gos gos

2 Elabora una taula de freqüències:

	Freqüència absoluta	Freqüència relativa	%
Gos			
Gat			30%
Ocell			
Hàmster		0,05	
Peix	0		
Total			

3 Representa gràficament les dades:

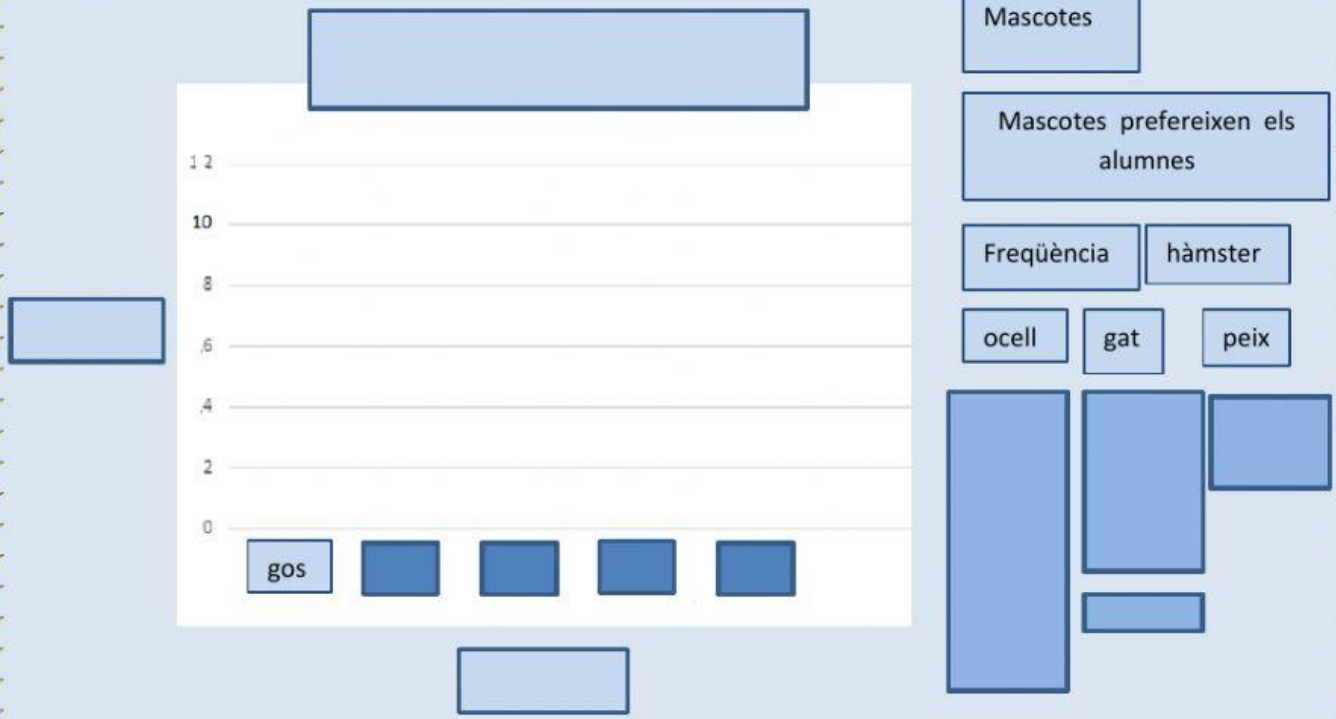

LIVEWORKSHEETS