REPASO UD 13 y 14

1 Cuenta el número de lados de cada polígono e indica su nombre.

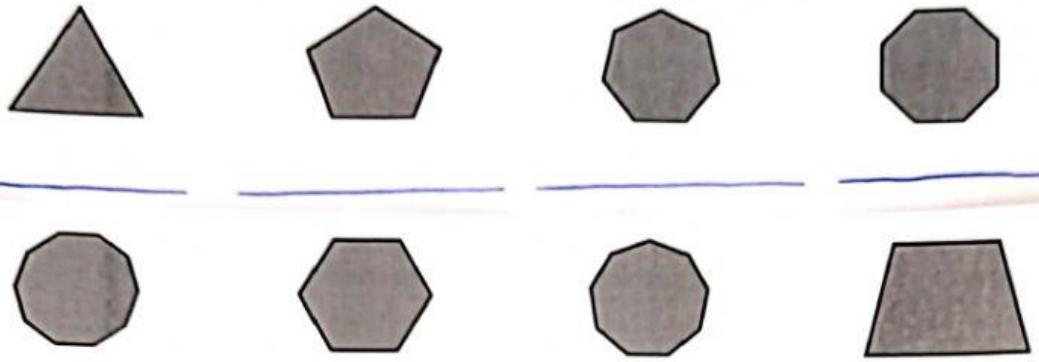

_____ _____ _____ _____

_____ _____ _____ _____

② Indica qué tipo de triángulo es según sus lados y sus ángulos.

					
Lados					
ángulos					

③ Indica si es un paralelogramo, trapecio o trapezoide. Si es paralelogramo, escribe también su nombre.

_____ _____ _____ _____

④ Escribe el nombre del elemento señalado.

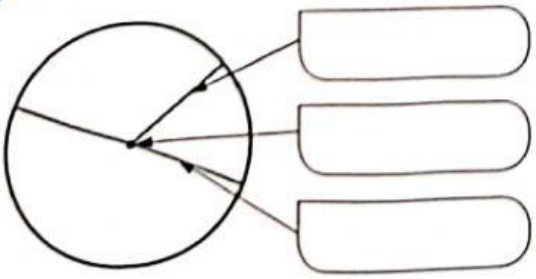

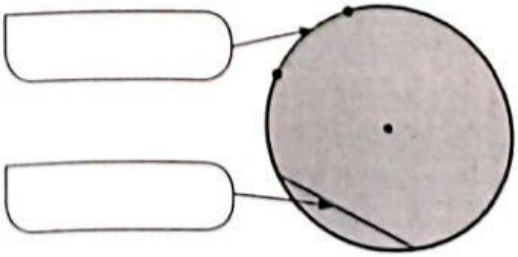

Escaneado con CamScanner
LIVEWORKSHEETS

⑤ Se quiere cubrir de césped un parque circular de 10m de radio. ¿Qué cantidad de césped se necesita?

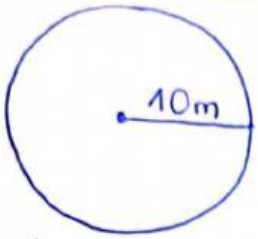

Si lo quieren vallar, ¿cuántos metros de valla harán falta?

⑥ **Calcula el área de cada figura.**



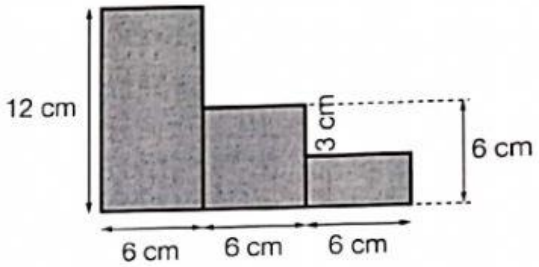

⑦ **Resuelve.**

Gerardo tiene una finca rectangular de 120 m de largo y 65 m de ancho. Ha dividido la finca en 4 parcelas iguales. ¿Cuál es el área de cada parcela?

⑧ **En cada triángulo, traza la altura correspondiente al lado *AB*** e indica cuántos cm son.

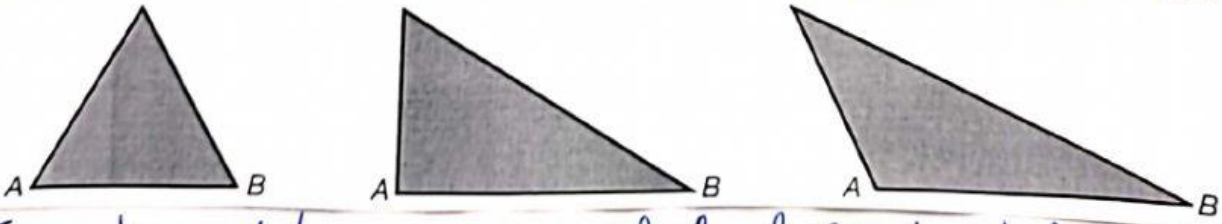

⑨ Toma las medidas necesarias y calcula el área de esta figura compuesta:

Escaneado con CamScanner
LIVEWORKSHEETS