¿QUÉ FIGURA ES?

Juana y Gregorio juegan a adivinar cuál es la figura que le tocó al otro. Estas son las tarjetas del juego.

Figura 1

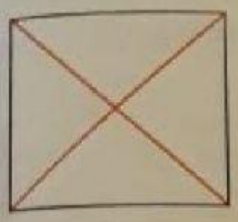

Figura 2

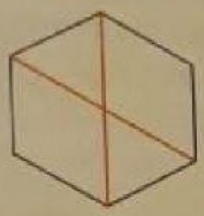

Figura 3

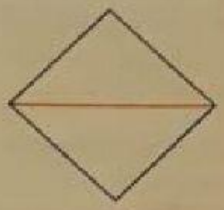

Figura 4

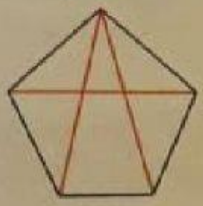

Figura 5

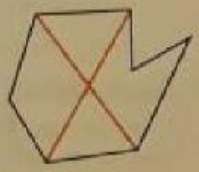

Figura 6

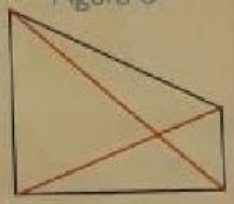

LIVEWORKSHEETS

1 Leé las pistas y escribí de qué figura se trata en cada caso.

Tiene 4 lados.
Tiene 4 vértices.
Todos sus lados son iguales.
Tiene dibujadas 2 diagonales.

Figura:

Tiene 4 lados.
Tiene 4 vértices.
Todos sus lados son distintos.
Tiene dibujadas 2 diagonales.

Figura:

...cada figura.

LIVEWORKSHEETS

Marcá con una **X** las pistas que sirven para identificar cada figura.

	Figura 2	Figura 4	Figura 5
Todos sus lados son distintos.			
Todos sus lados son iguales.			
Tiene dibujadas 2 diagonales.			
Tiene dibujadas 3 diagonales.			
Tiene 5 lados.			
Tiene 6 lados.			



LIVEWORKSHEETS