وزارة التربية والتعليم

مجلس 1 نطاق 3

مدرسة البريرات للتعليم الأساسي ح2

الصف السادس

المادة : الرياضيات

موضوع الدرس: التمثيل البياني بالنقاط المجمعة

الاسم: الشعبة:

اختر التمثيل البياني بالنقاط المجمعة الذي يمثل هذه البيانات ؟

سَأَلَ سَامِرُ زُمَلاءَهُ فِي الفَرِيقِ عَنْ عَدَدِ الأَهْدافِ الَّتِي سَجَّلُوها فِي المَوسِمِ المَاضِي، وكَانَتِ النَّتائِجُ كَمَا هِيَ مُوَضَّحَةٌ فِي الجَدوَلِ، اخْتَرْ أَفْضَلَ تَمْثِيلٍ بَيانِيٍّ بِالنُّقاطِ المُجَمَّعَةِ يُمَثِّلُ البَيانَاتِ.

عدد الأهداف المسجلة				
3	4	8	3	8
5	6	3	4	5
7	7	3	7	7

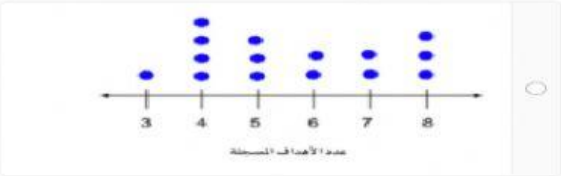



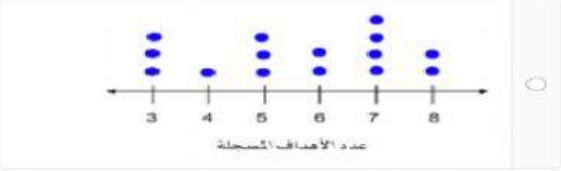

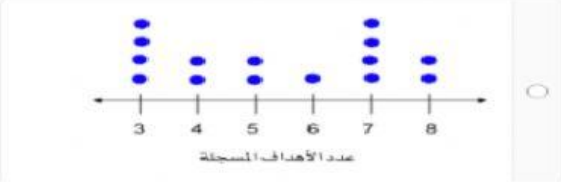

اختر الإجابة الصحيحة ؟

أكبر قيمة في مجموعة البيانات هي

سألَتِ المُدَرِّبَةُ سَمْحَةُ فَرِيقَها عَنْ عَدَدِ الكِيلومِتْراتِ الَّتِي يَرْكُضونَها فِي كُلِّ أُسبوعٍ، فكانَتِ النَّتائِجُ كما هي مُوَضَّحَةٌ فِي الجَدوَلِ.

عدد الكيلومترات التي يركضونها				
8	10	12	13	9
9	9	13	10	10
11	10	12	9	13



$A)9$

$B)\ 10$

$C)\ 12$

$D)13$

LIVEWORKSHEETS