الاسم للطالب :

مدرسة براعم العين الخاصة (بني ياس)

الجبر **أوجد كل مجهول مما يلي.**

3. قياس الزاوية المُركّب هو °70.

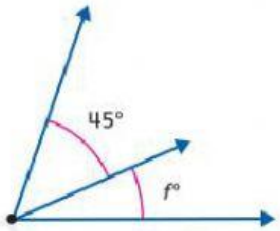

$f =$ _____

4. قياس الزاوية المُركّب هو °115.

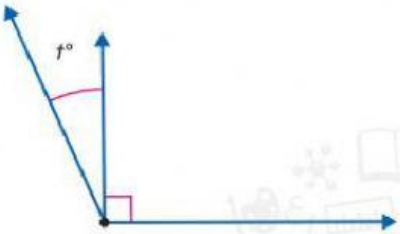

$t =$ _____

5. قياس الزاوية المُركّب هو °180.



$x =$ _____

6. أوجد قيمة r.

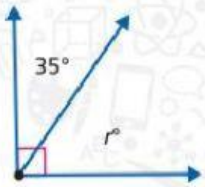

$r =$ _____

اسم المعلمة :نور مثنى

LIVEWORKSHEETS