Lección # 1 Matemática

Nombre: _____ Fecha: _____

1. Une con línea la descomposición con los números naturales.

7 UM, 6C , 2 D, 4U	3690
5 UM, 4C, 7D, 1U	7624
3 UM, 6C, 9D, 0U	5471
9 UM, 0C , 5 D, 7U	9057

2. Escribe con palabras como se leen estos números y ordénalos de menor a mayor en cada cuadro.

a) 7560 = _____

b) 643 = _____

c) 3578= _____

d) 802 = _____

3. Clasifica los siguientes ángulos y arrástralos correctamente donde corresponde.

LIVEWORKSHEETS

4.Calcular el perimetro de las siguientes imágenes.

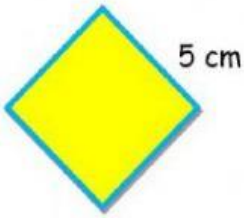

P=



P=

P=



P=

5.- Observar y escribir los pares ordenados en el plano carteciano.



LIVEWORKSHEETS

LIVEWORKSHEETS