Colegio Quitalmahue

GUÍA DE APOYO PARA EVALUACIÓN

OBJETIVO: RESOLVER PROBLEMAS SIMPLES, QUITANDO O AGREGANDO ELEMENTOS

MARCA LA ALTERNATIVA CORRECTA

1. FACUNDO TENÍA 8 MANZANAS Y SE COMIÓ 3 ¿CUÁNTAS MANZANAS LE QUEDARON?



A. 11

B. 5

C. 4

2. JOSEFA TENÍA 10 NARANJAS Y LE REGALÓ 4 A SU HERMANO OCTAVIO ¿CUÁNTAS NARANJAS LE QUEDARON?

A. 6

B. 5

C. 7

LIVEWORKSHEETS

3. PABLO TIENE 6 AUTITOS Y LE REGALARON 2 MAS ¿CUÁNTOS AUTITOS TIENE AHORA?

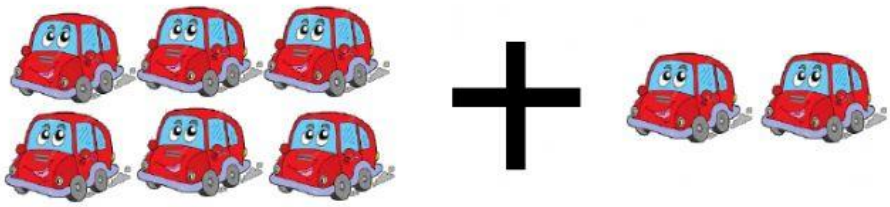

A. 4

B. 10

C. 8

4. ¿QUÉ NÚMERO VA ENTRE EL 10 Y EL 12?



A. 13

B. 11

C. 9

LIVEWORKSHEETS

5. ¿QUÉ NÚMERO VA ANTES DE 20?

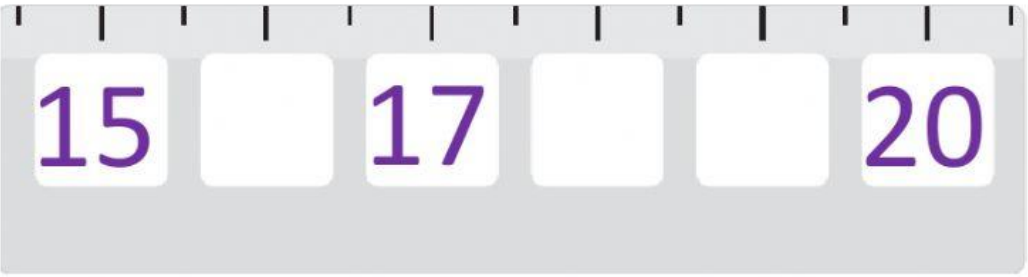

A. 19

B. 21

C. 18

6. ORDENA LOS NÚMEROS ARRASTRÁNDOLOS SEGÚN CORRESPONDA.





LIVEWORKSHEETS