REPASO TEMA 11

1 Marca las figuras con área.

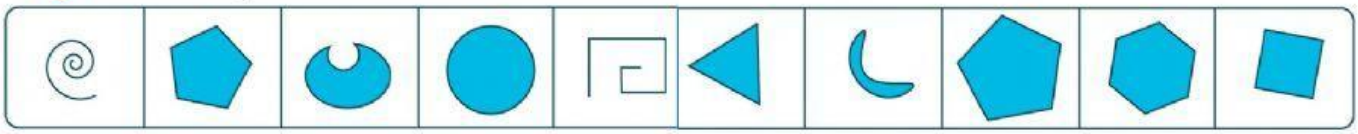

2 Calcula su área. Si quieres ver el vídeo para repasar, pincha aquí.

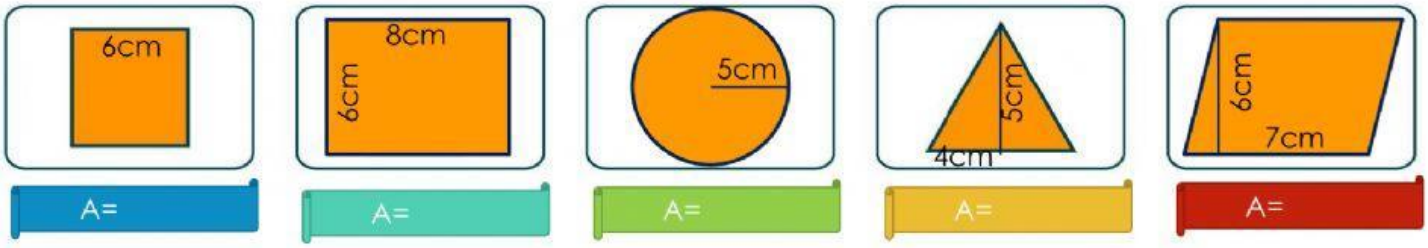

3 Calcula su área cogiendo como unidad de medida ☐

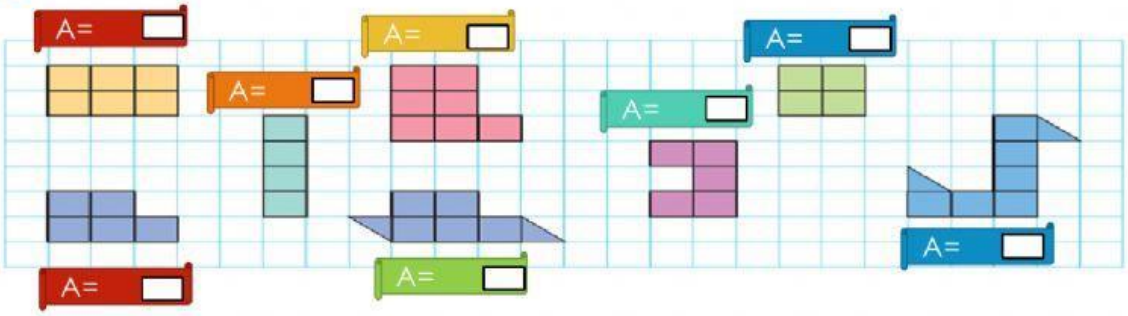

4 Convierte a la unidad de medida que te pide. Si quieres ver el vídeo para repasar, pincha aquí.

38m2	->	dm2		9.800mm2	->	dm2	
0,09dm2	->	cm2		82cm2	->	dm2	
45,6cm2	->	mm2		96,7dm2	->	m2	
0,65hm2	->	m2		756m2	->	hm2	
4,76m2	->	cm2		800mm2	->	cm2	

5 Marca las frases que son ciertas:

- Dos figuras con el mismo área tiene el mismo perímetro.
- Sabiendo el área del triángulo y del rectángulo puedes calcular el área de todos los polígonos.
- Puedes calcular el área de un círculo sabiendo sólo su diámetro.

LIVEWORKSHEETS