COLEGIO COOPERATIVO COMERCIAL DE SESQUILÉ

2021

DOCENTE: MILENA PATRICIA AREVALO MUÑOZ

Evaluación

GRADO: SEGUNDO

FECHA 24 de mayo

ASIGNATURA: MATEMATICAS

1. Realiza las siguientes sumas de tres cifras

$$\begin{array}{r} 673 \\ +\ 470 \\ \hline \end{array} \qquad \begin{array}{r} 359 \\ +\ 652 \\ \hline \end{array} \qquad \begin{array}{r} 67 \\ +\ 732 \\ \hline \end{array}$$

2. Realiza las restas de tres cifras:

$$\begin{array}{r} 434 \\ -\ 110 \\ \hline \end{array} \qquad \begin{array}{r} 678 \\ -\ 423 \\ \hline \end{array} \qquad \begin{array}{r} 638 \\ -\ 517 \\ \hline \end{array}$$

3. Marca con un X el signo correcto:

777	<	=	>	666
181	<	=	>	181
865	<	=	>	931

4. Observa muy bien y escribe en letras el signo correspondiente:

342		423
228		223
865		736

5. Escribe en letras los siguientes números:

952: _____

823: _____

589: _____

PERIODO 2

LIVEWORKSHEETS

6. Escribe el número que representa el ábaco:

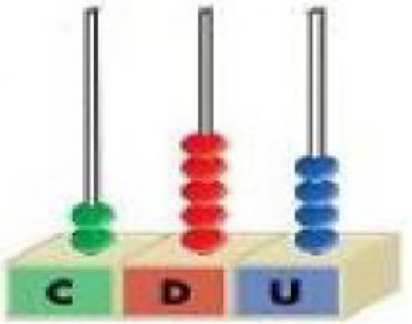

7. Marca con una X la respuesta correcta de la tabla del dos:

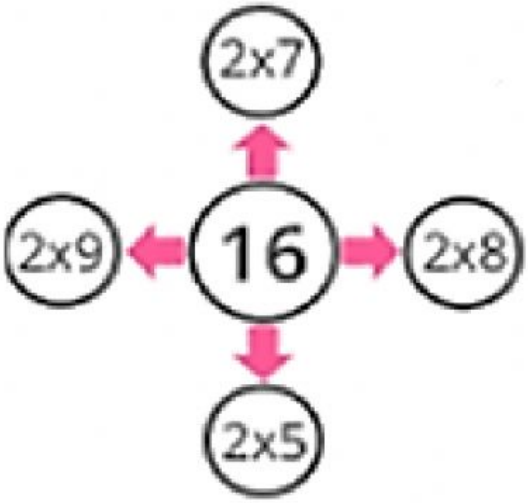

8. Completa la tabla de la serie del 2

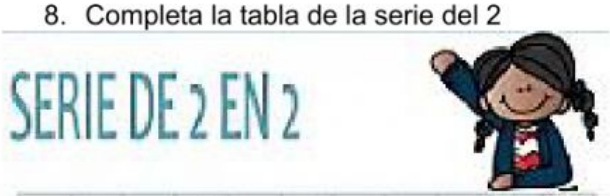

0	2		6			12				20

2	4		8	10
	14	16		
22			28	30
		36		
42		46		50
52				60
	64		68	
72	74	76		
82			88	
	94	96		100

9. Completa la recta numérica de la tabla del dos:

_____ X _____ = _____

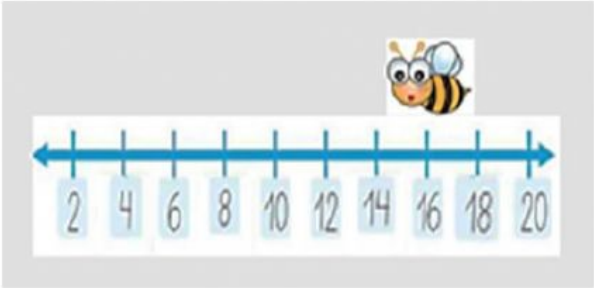

LIVEWORKSHEETS

_____ x _____ = _____

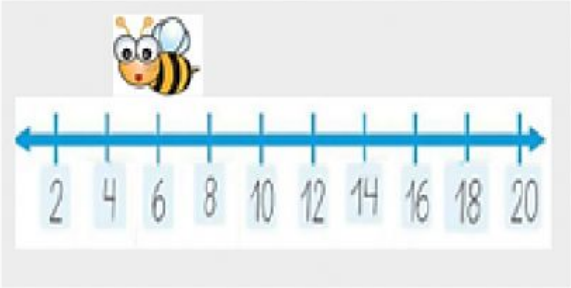

_____ x _____ = _____

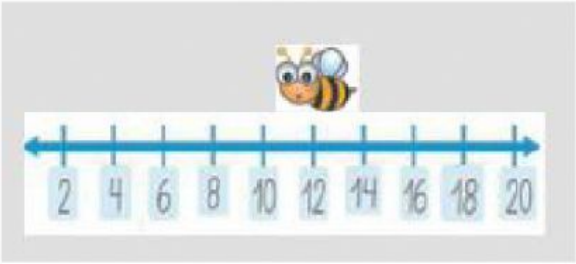

10. Coloca los resultados dela tabla del dos:

2 x 6 = ___	2 x 9 = ___
2 x 8 = ___	2 x 7 = ___
2 x 4 = ___	2 x 5 = ___
2 x 2 = ___	2 x 1 = ___
2 x 3 = ___	2 x 10 = ___

www.educhas.com

LIVEWORKSHEETS