Ticket de Entrada

1) Une cada fracción con su representación gráfica

$\frac{3}{7}$

$\frac{3}{4}$

$\frac{3}{5}$

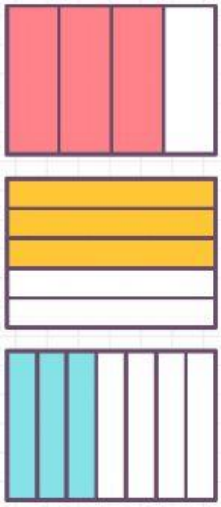

LIVEWORKSHEETS

2) Arrastra la palabra que falta para completar el paso a paso de cómo resolver una multiplicación de fracciones utilizando la representación pictórica

1) Representar _____ la primera fracción

2) Representar _____ la segunda fracción

3) Responder las siguientes preguntas para escribir el resultado de la multiplicación:

numerador → ¿Cuántas partes hay _____ ?

denominador → ¿Cuántas partes hay _____ ?

4) _____ hasta encontrar la fracción irreductible

horizontalmente | Pintadas de ambos colores | verticalmente

En total | simplificar

LIVEWORKSHEETS

3) Escribe la multiplicación que está representada en cada caso.

A)

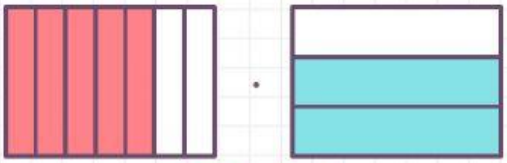

___ · ___

B)

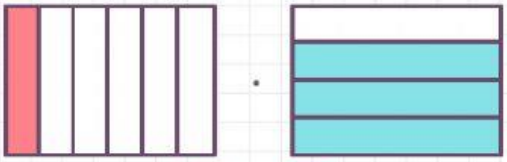

___ · ___

D)

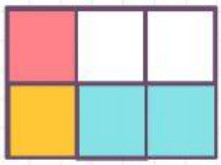

___ · ___ = ___

E)

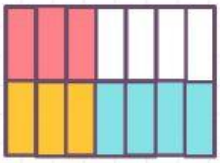

___ · ___ = ___

LIVEWORKSHEETS