UNIDAD EDUCATIVA
SAN JUAN DE BUCAY

Diagnóstico de Ciencias Naturales

Nombre del estudiante: _____

1. **Arrastre cada nombre al lugar correspondiente.**

FLOR | HOJA | FRUTO | RAÍZ | TALLO

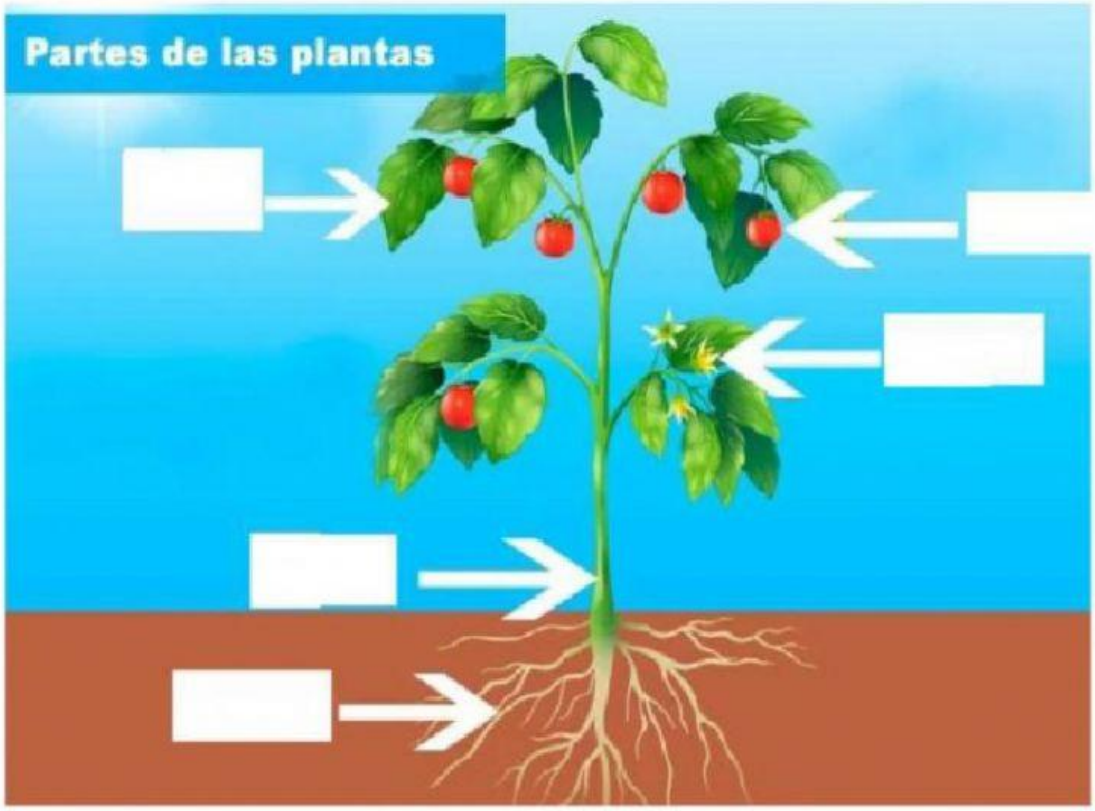

2. **Una cada palabra con la imagen que corresponda.**

FLOR | SEMILLA | FRUTO

LIVEWORKSHEETS

UNIDAD EDUCATIVA
SAN JUAN DE BUCAY

3. Arrastre cada nombre al lugar correspondiente.

AGUA | AIRE | LUZ | RAÍZ | HOJAS

Las plantas toman _____ por la _____.

Las plantas toman la _____ y el _____

por las _____.

4. Ordene el ciclo de la planta.

1

2



3

4

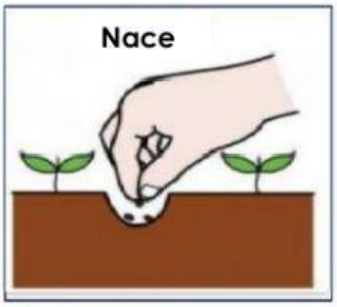



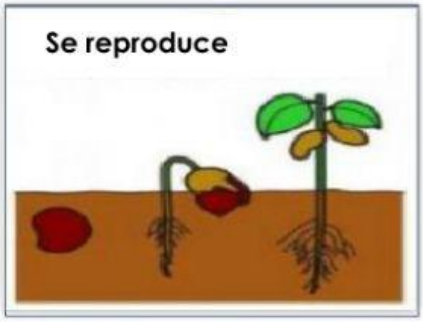

LIVEWORKSHEETS