Fecha de realización: _____

EL ÁREA

NOMBRE: _____ Curso: _____

1. Halla el área de cada polígono subrayando el valor correcto y escribe su nombre correspondiente.

A.

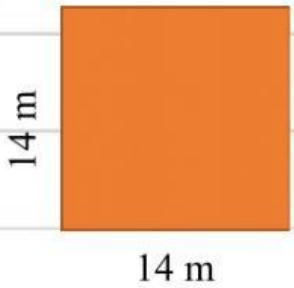

Área:	28 m	186 m	196 m

Nombre del polígono: _____

B.

Área:	253 cm	34 cm	263 cm

Nombre del polígono: _____

C.

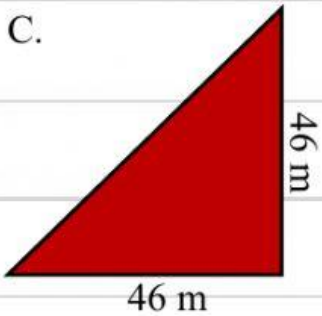

Área:	2005 m	92 m	1058 m

Nombre del polígono: _____

D.

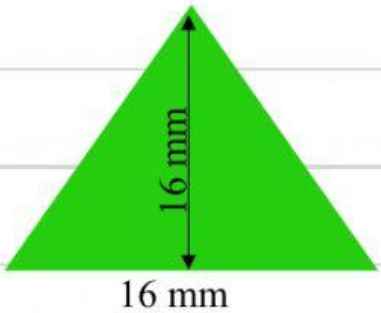

Área:	128 mm	326 mm	32 mm

Nombre del polígono: _____

2. Don Pedro desea sembrar papas. Él tiene un terreno en forma de rectángulo, que mide de base 36 m y de altura 13m.



A. ¿Cuánto mide el terreno de Don Pedro?

Respuesta: _____

B. Si Don Pedro repartiera su terreno entre sus 3 hijos ¿Cuántos le correspondería a cada uno?

Respuesta: _____

LIVEWORKSHEETS