مجموعة نجوم الرياضيات - الإسم :

أوجدْ مِساحةَ كلِّ مُستطيلٍ ممّا يَلي.

3.

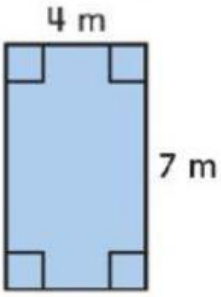

4 x ____ =

4.

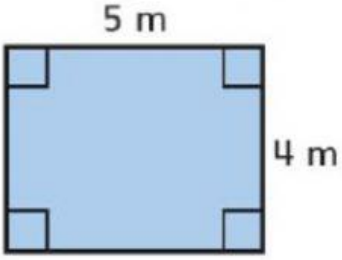

5 x ____ =

الجبرُ أوجِدِ الضِّلعَ المَجهولَ. اسْتخدِم قانونَ المِساحَةِ.

8.

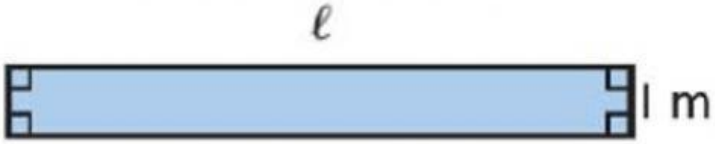

المِساحَةُ هي $9\ m^2$.

$A = \ell \times w$

$9 =$ _____ $\times 1$

المَجهولُ هو _____ أمتارٍ.

LIVEWORKSHEETS