GUÍA DE MATEMÁTICA

1° BÁSICO

OA 9: Demostrar que comprenden la adición y la sustracción de números del 0 al 20 progresivamente, de 0 a 5, de 6 a 10, de 11 a 20 con dos sumandos:

LA SUMA

1. OBSERVEMOS Y RESOLVAMOS JUNTOS

CONOZCO

Cuando juntas colecciones:

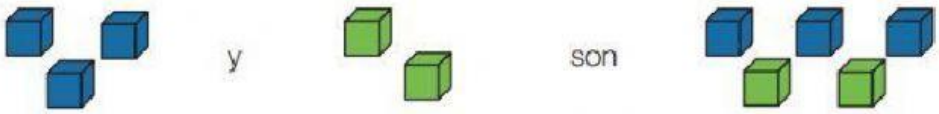

y son

3 + (más) 2 = (igual a) 5

Observa y completa.

a.



☐ y ☐ son ☐

LIVEWORKSHEETS

Completa.

a.

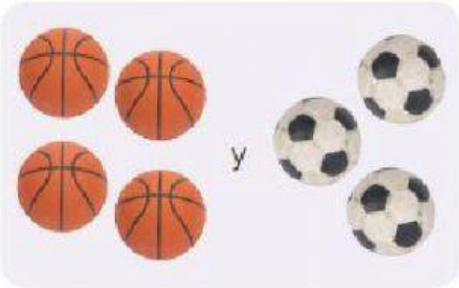

☐ + ☐ = ☐

c.

☐ + ☐ = ☐

b.



☐ + ☐ = ☐

d.

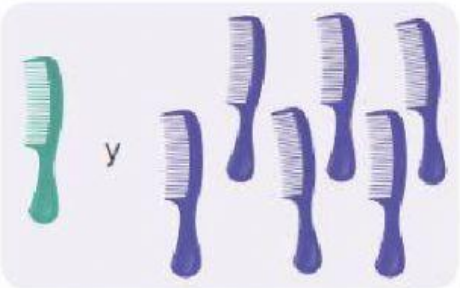

☐ + ☐ = ☐

Representa y completa.

☐ + ☐ = ☐

Ministerio de Educación, Prohibida su comercialización.

LIVEWORKSHEETS

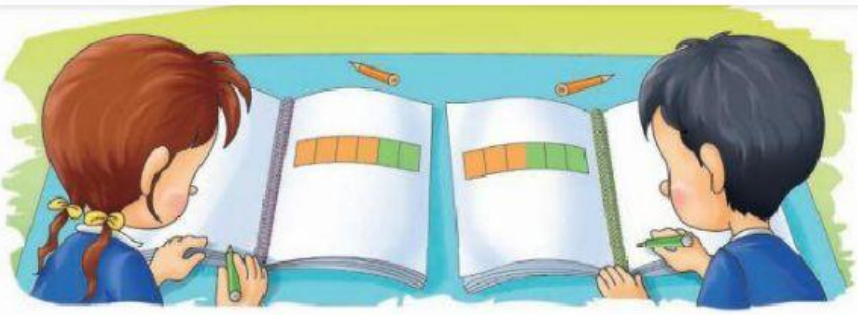

a. Pinta los cubos de acuerdo a la representación de cada personaje.

b. ¿Cuántos ☐ pintó cada personaje?

c. ¿Cuántos ☐ de cada color pintó cada personaje?

Con dos colores pinta las cuadrículas de tres formas diferentes y completa siguiendo el ejemplo.

a.

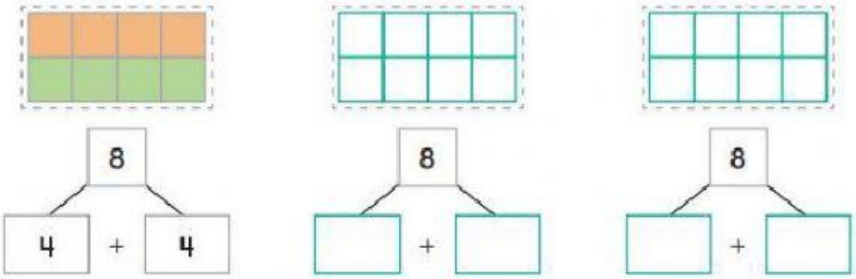

b.

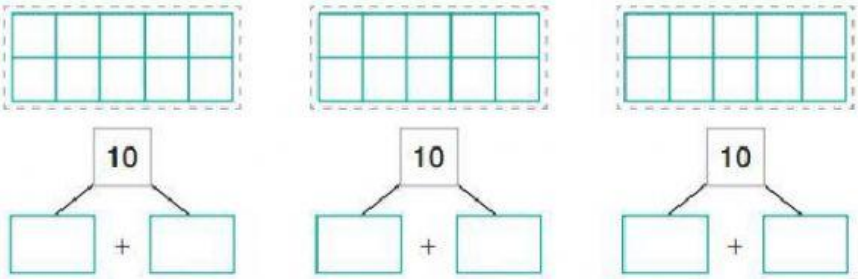

LIVEWORKSHEETS

PUMA

CONOZCO

Todos los números se pueden escribir como una adición, a la que llamamos **descomposición**.

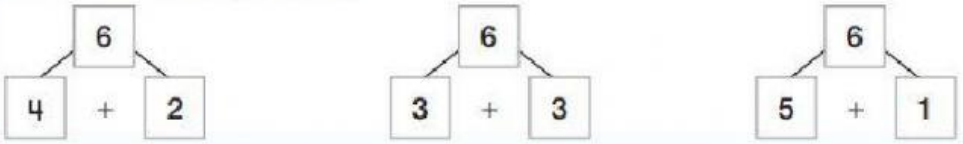

Escribe dos descomposiciones para cada número.

Prohibida su comercialización

a.

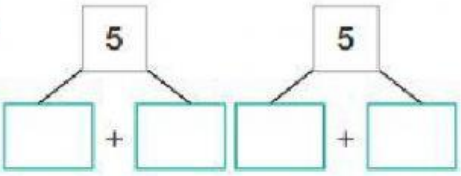

c.

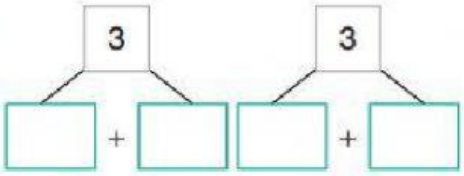

b.

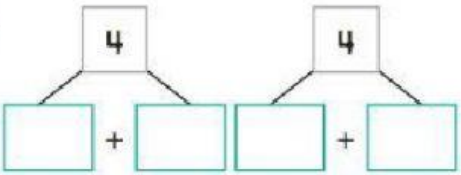

d.

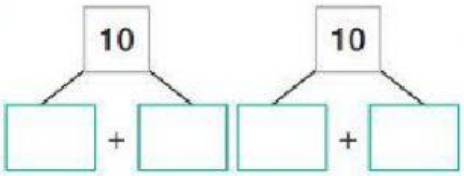

2. OBSERVEMOS JUNTOS EL SIGUIENTE VIDEO

LIVEWORKSHEETS

PUMA

3. RESOLVAMOS

5	5	5	12
+ 10	+ 12	+ 7	+ 3

4. RESOLVAMOS

Lee la situación. Luego, resuelve representando con barras.

Algunos países sudamericanos como Argentina, Brasil, Colombia y Venezuela, obtuvieron medallas en los juegos Olímpicos 2012. Brasil fue el país sudamericano que más medallas obtuvo.

MEDALLAS QUE GANÓ BRASIL	
Medallas de plata	**Medallas de bronce**
	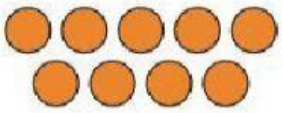

a. ¿Cuántas medallas de plata y bronce ganó ?

1° Represento:

LIVEWORKSHEETS