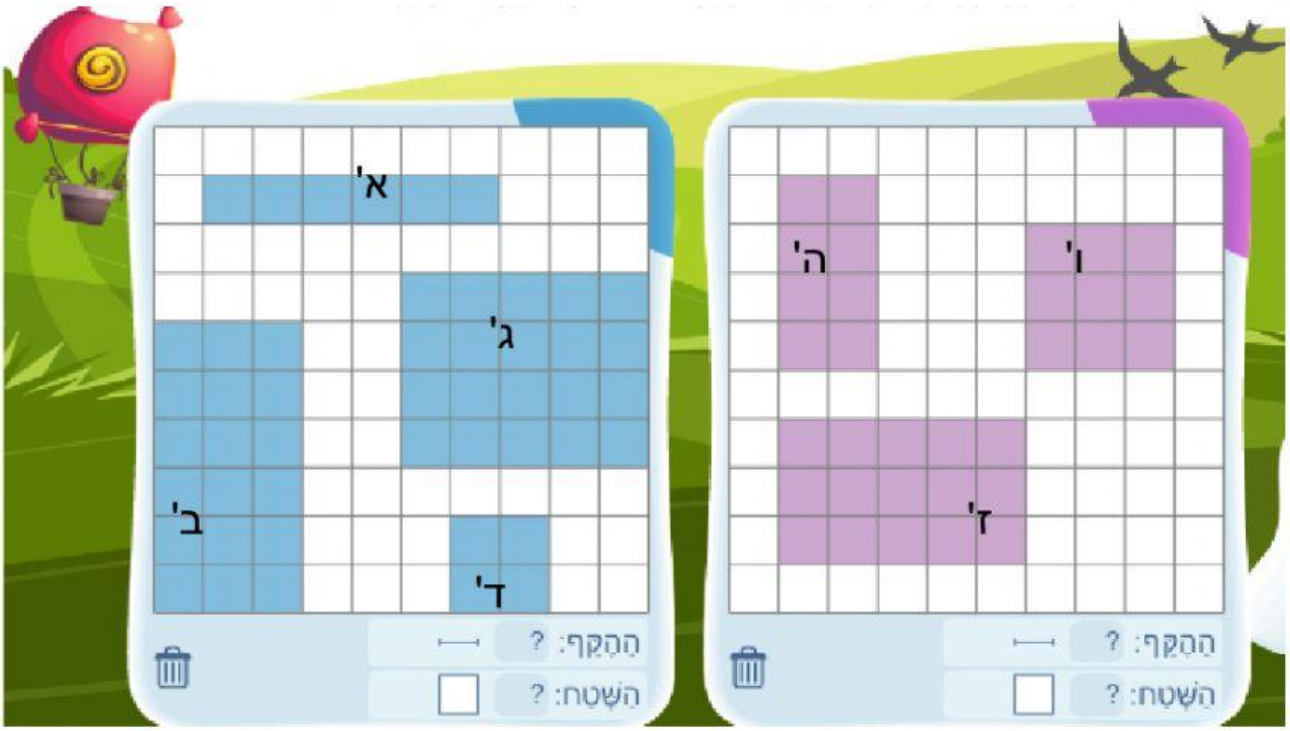

שטח צורה א'_____ היקף צורה א' _____

שטח צורה ב'_____ היקף צורה ב' _____

שטח צורה ג'_____ היקף צורה ג' _____

שטח צורה ד'_____ היקף צורה ד' _____

שטח צורה ה'_____ היקף צורה ה' _____

שטח צורה ו'_____ היקף צורה ו' _____

שטח צורה ז'_____ היקף צורה ז' _____

LIVEWORKSHEETS

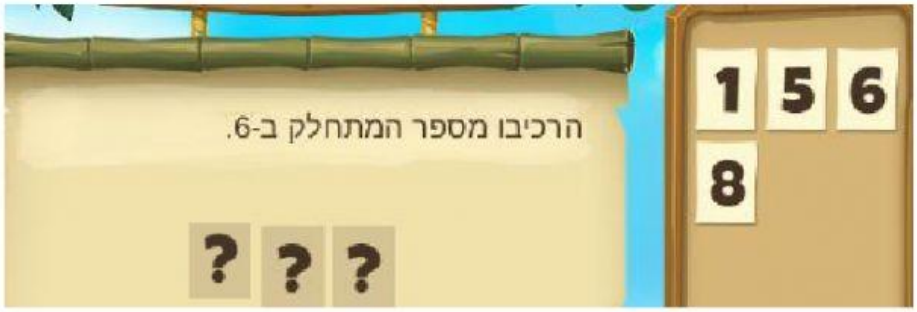

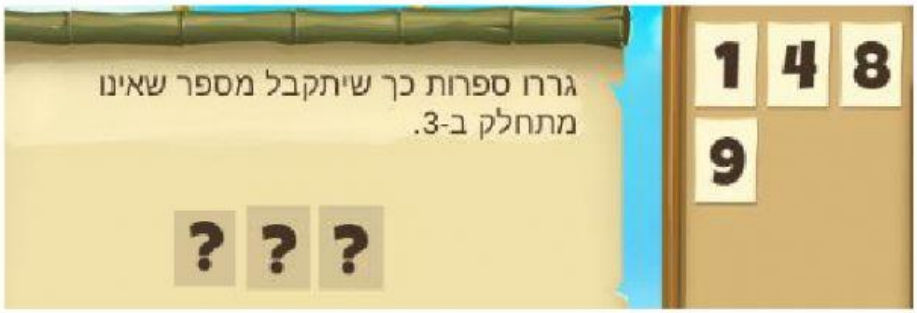

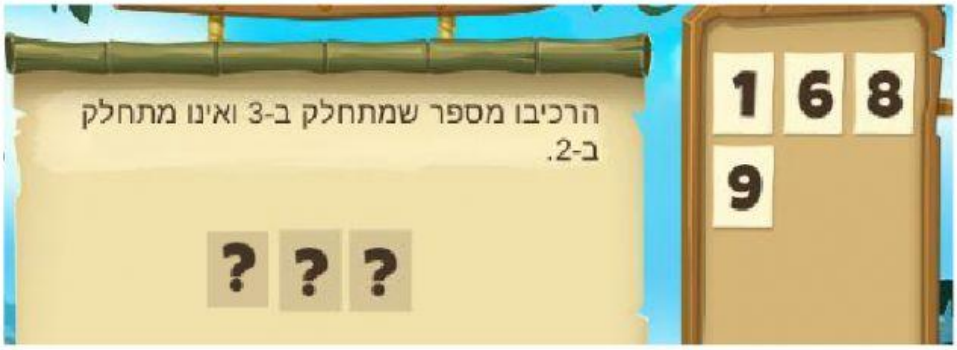

פתרו את התרגילים:

א. 635 : 5 =

ב. 364 : 7 =

ג. 256 : 4 =

ד. 752 : 8 =

ה. 456 : 6 =

ו. 837 : 9 =

ז. 564 : 6 =

LIVEWORKSHEETS

שטחו של ריבוע 25 סמ"ר.

א. מה אורך הצלע של הריבוע? _____ ס"מ

ב. מה היקף הריבוע? _____ ס"מ

נתון ריבוע שצלעו 7 ס"מ.

1. שטח הריבוע הוא _____ סמ"ר.
2. היקף הריבוע הוא _____ ס"מ.
3. אם נגדיל את צלע הריבוע ב- 2 ס"מ, מה יהיה שטח הריבוע החדש?

_____ סמ"ר.

4. בכמה ס"מ יגדל היקף הריבוע? _____ ס"מ.

993	467	235	765	377
x 7	x 2	x 9	x 4	x 8
205	488	932	458	577
x 5	x 8	x 7	x 3	x 7
496	366	693	734	
x 7	x 5	x 4	x 9	



LIVEWORKSHEETS