EVALUASI MATERI PERSAMAAN POLA BILANGAN

Jawablah pertanyaan di bawah ini dengan mengetik A/B/C/D pada titik- titik !

1. Perhatikan gambar berikut!

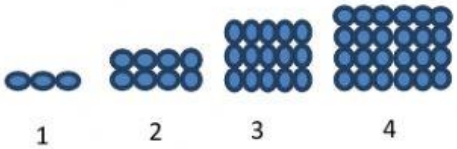

Banyak lingkaran pada pola ke-10 adalah….

A. 99 buah
B. 104 buah
C. 115 buah
D. 120 buah

2. Perhatikan gambar berpola berikut

(1) (2) (3)

Banyak batang korek pada pola ke 15 adalah ….

A. 59
B. 49
C. 39
D. 29

3. Perhatikan gambar berikut!

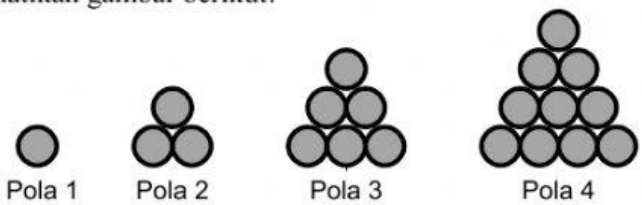

Banyak lingkaran pada pola ke-10 adalah....

A. 35
B. 45
C. 55
D. 65

LIVEWORKSHEETS

4. Gambar berikut adalah pola bilangan yang disusun dari batang korek api.

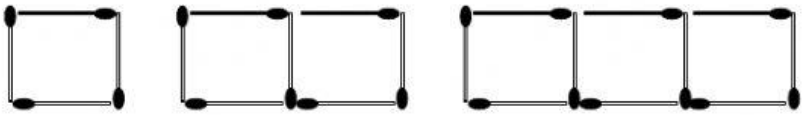

Banyak batang korek api pada pola ke-7 adalah ….

A. 28
B. 26
C. 24
D. 22

5. Gambar di bawah menunjukkan pola yang disusun dari batang lidi:

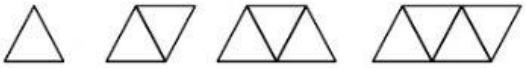

Banyak lidi pada pola ke-10 adalah ....

A. 20 batang
B. 21 batang
C. 23 batang
D. 25 batang

6. Perhatikan pola berikut!

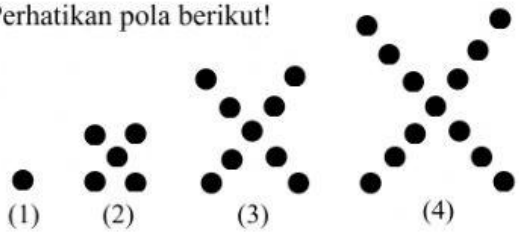

Jika pola di atas dilanjutkan, banyak bulatan pada pola ke-(61) adalah ....

A. 249
B. 241
C. 66
D. 64

LIVEWORKSHEETS