CLASIFICACIÓN DE LOS TRIÁNGULOS

HAZ CLIK PARA VER EL VÍDEO

Después haz clik en las respuestas correctas:

1. **CLASIFICA ESTE TRIÁNGULO:**

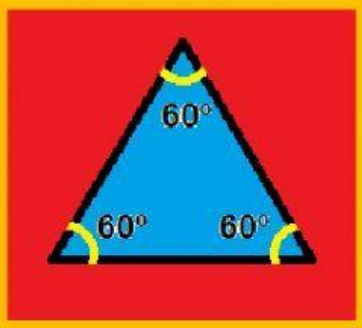

ACUTÁNGULO

RECTÁNGULO

OBTUSÁNGULO

2. **CLASIFICA ESTE TRIÁNGULO:**

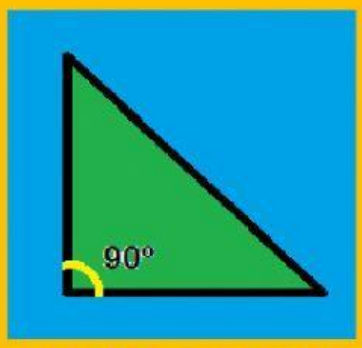

ACUTÁNGULO

RECTÁNGULO

OBTUSÁNGULO

3. **CLASIFICA ESTE TRIÁNGULO:**

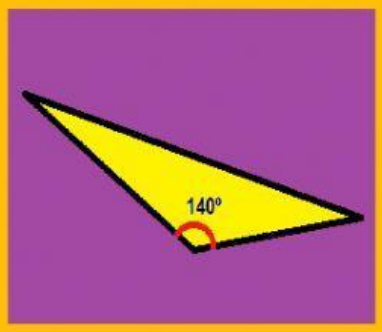

ACUTÁNGULO

RECTÁNGULO

OBTUSÁNGULO

LIVEWORKSHEETS

4. **CLASIFICA ESTE TRIÁNGULO:**

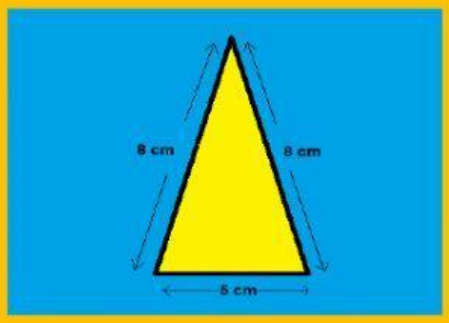

EQUILÁTERO

ISÓSCELES

ESCALENO

5. **CLASIFICA ESTE TRIÁNGULO:**

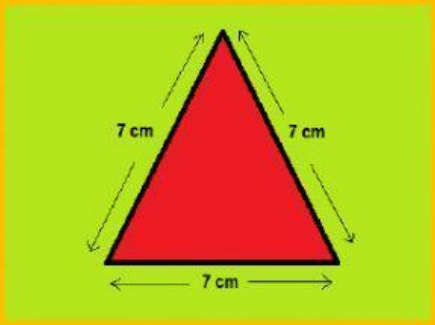

EQUILÁTERO

ISÓSCELES

ESCALENO

6. **CLASIFICA ESTE TRIÁNGULO:**

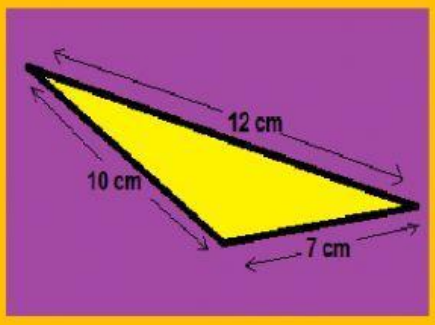

EQUILÁTERO

ISÓSCELES

ESCALENO

7. **CLASIFICA ESTE TRIÁNGULO:**

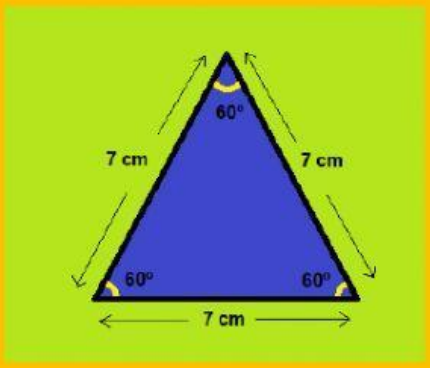

EQUILÁTERO Y RECTÁNGULO

ISÓSCELES Y ACUTÁNGULO

EQUILÁTERO Y ACUTÁNGULO

LIVEWORKSHEETS

8. **CLASIFICA ESTE TRIÁNGULO:**

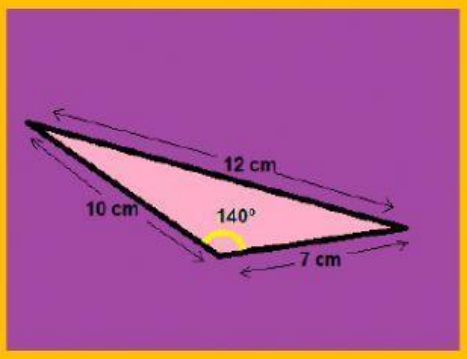

ESCALENO Y OBTUSÁNGULO

EQUILÁTERO Y RECTÁNGULO

ISÓSCELES Y ACUTÁNGULO

9. **CLASIFICA ESTE TRIÁNGULO:**

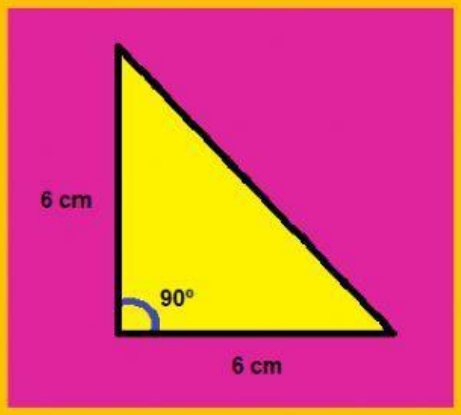

ISÓSCELES Y ACUTÁNGULO

ISÓSCELES Y RECTÁNGULO

EQUILÁTERO Y RECTÁNGULO

10. **CLASIFICA ESTE TRIÁNGULO:**

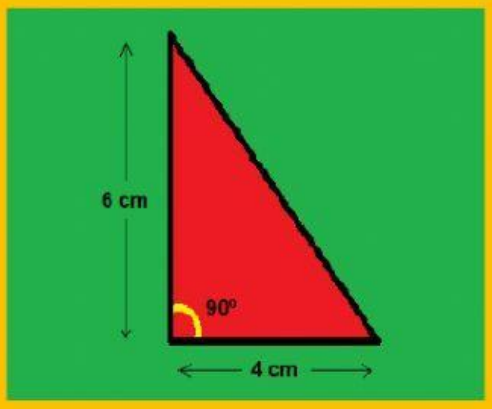

EQUILÁTERO Y RECTÁNGULO

ISÓSCELES Y ACUTÁNGULO

ESCALENO Y RECTÁNGULO

LIVEWORKSHEETS