BURUKETAK

1- LOTU ZUTABEAK

LIVEWORKSHEETS

GEHIAGO da

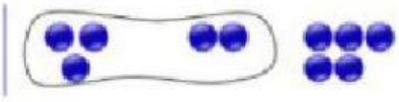

biderkatu

2 x 4 = 8

batu

3 + 2 = 5

GUTXIAGO da

kendu

5 − 2 = 3

zatitu

6 : 2 = 3

LIVEWORKSHEETS

2- AUKERATU ERAGIKETA EGOKIA

(biderik laburrena aukeratu behar duzu)

LIVEWORKSHEETS

Kamioi batean 46 sagar-kutxa, 34 madari-kutxa eta 52 laranja-kutxa daude. Zenbat fruta-kutxa daude guztira?

batuketa kenketa biderketa zatiketa

Apalategi batean 134 ur botila zeuden, eta 68 kendu ditugu. Zenbat ur botila geratzen dira?

batuketa kenketa biderketa zatiketa

LIVEWORKSHEETS

Yogur batek bi euro balio ditu.

Zenbat balio dute sei yogurrek?

batuketa kenketa biderketa zatiketa

Iban eta Ramonen artean hurrengo 10 kanika hauek banatuko dira:

batuketa kenketa biderketa zatiketa

LIVEWORKSHEETS

Zuhaitz batek 946 hosto zituen. Udazkenean 144 erori zaizkio. Zenbat hosto ditu orain?

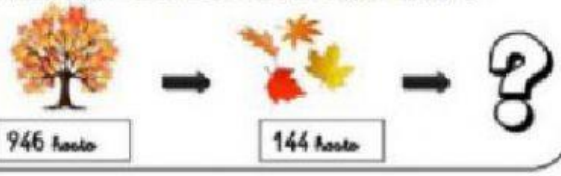

batuketa kenketa biderketa zatiketa

Baserri batean 949 oilo zeuden eta beste 315 oilo ekarri zituzten . Zenbat oilo daude orain baserrian?

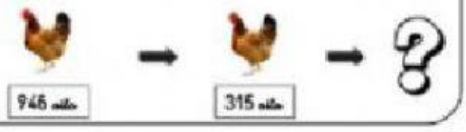

batuketa kenketa biderketa zatiketa

LIVEWORKSHEETS

Apal batean zortzi liburu daude.

Zenbat liburu daude **bi apaletan?**

batuketa kenketa biderketa zatiketa

Baso batean 1.260 zuhaitz zeuden, eta beste 207 zuhaitz landatu dira. Zenbat zuhaitz daude orain basoan?

batuketa kenketa biderketa zatiketa

LIVEWORKSHEETS



batuketa kenketa biderketa zatiketa

Jostailu-dendan 175 hartz zeuden. Gaur 62 hartz saldu dituzte. Zenbat hartz geratzen dira?

batuketa kenketa biderketa zatiketa

LIVEWORKSHEETS

Banatu hurrengo pilota hauek 6 poltsetan:



batuketa kenketa biderketa zatiketa

Etxeaan astero 10 litro esne edaten baditugu, zenbat litro edango ditugu 6 astetan?

batuketa kenketa biderketa zatiketa

LIVEWORKSHEETS