1. **Observa la siguiente operación y averigua cuánto valen las letras A y B.**

$$\begin{array}{r} 4\,A\,B\,4\,9 \\ +\quad 6\,8\,7\,A \\ \hline B\,0\,4\,2\,2 \end{array}$$

A = ☐ B= ☐

2. Fíjate en el ejemplo y trata de resolver las pirámides. Solo tienes que pensar en las operaciones de suma y resta.

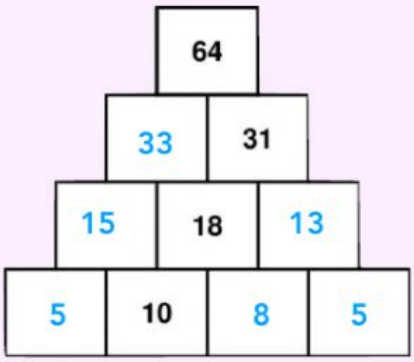

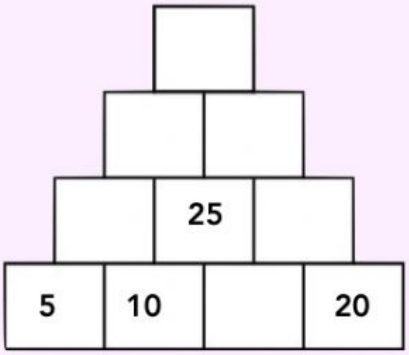

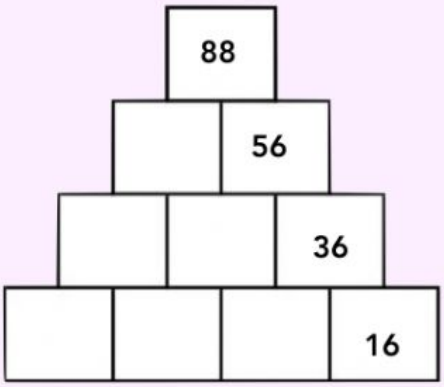

LIVEWORKSHEETS

3. ¿Cuál es el resultado final?

LIVEWORKSHEETS