Semana 16

Cuarto. Sesión 3

1 **Recordar**. Escriba el nombre de los tres tipos de triángulos de acuerdo con las medidas de sus ángulos.

a. _____ **b.** _____ **c.** _____

2 **Comprender**. Clasifique cada triángulo de acuerdo con la medida de sus ángulos.

a.

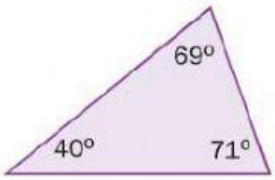

_____

c.

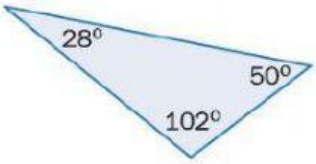

_____

e.

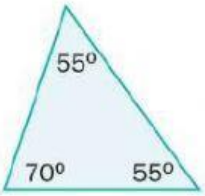

_____

b.

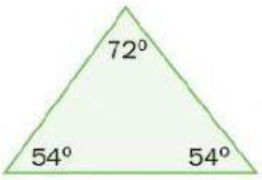

_____

d.

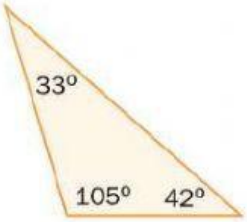

_____

f.

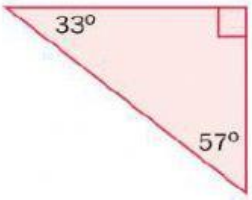

_____

3 **Comprender**. Escriba en cada círculo **V** si es verdadero o **F** si es falso. Corrija las afirmaciones falsas.

☐ Un triángulo es obtusángulo si uno de los ángulos mide 97º.

_____

☐ Un triángulo es acutángulo si sus ángulos miden 15º, 65º y 100º.

_____

☐ Un triángulo obtusángulo tiene más de un ángulo obtuso.

_____

☐ Un triángulo rectángulo posee más de un ángulo de 90º.

_____

☐ Un triángulo acutángulo posee solo ángulos internos agudos.

_____

LIVEWORKSHEETS