مجموعة المبتكرون - الإسم :

أوجِدُ مِساحَةَ كُلِّ شَكْلٍ.

5.

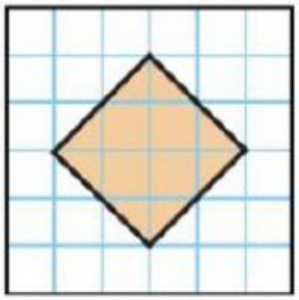

المساحة هي _____ وحداتٍ مُربَّعةٍ.

$10\frac{1}{2}$

8.

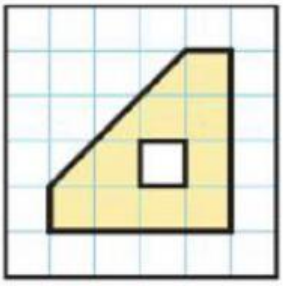

المِساحَةُ هِي _____ سنتيمترًا مُربّعًا

10

9.

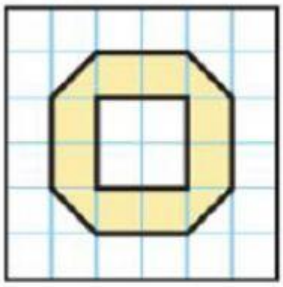

المِساحَةُ هِي _____ سنتيمتراتٍ مُربّعةٍ.

8

LIVEWORKSHEETS